مهارة (٢) مقارنة الأعداد

قارِنْ بينَ العَددينِ ١٢٥٧٢ ، ١٥٥٧٢

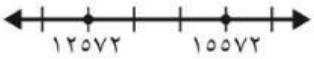

العَددُ ١٢٥٧٢ يَقعُ عنْ يَسارِ العَددِ ١٥٥٧٢، لذلكَ فالعَددُ ١٥٥٧٢ > ١٢٥٧٢. وفي جدولِ المنازلِ نبدأُ بالأعدادِ منَ اليَسارِ ونَنظُرُ إلى أوّلِ مَنْزِلةٍ يختَلفُ فِيهَا العددانِ، ونُجرِي المُقارَنةَ.

شرح المهارة

دورةُ الواحداتِ			دورةُ الألوفِ		
آحادٌ	عَشَراتٌ	مِئاتٌ	آحادٌ	عَشَراتٌ	مِئاتٌ
٢	٧	٥	٢	١	
٢	٧	٥	٥	١	
مُتَساويانِ	مُتَساويانِ	مُتَساويانِ	مُختلفانِ	مُتَساويانِ	

قارِنْ بينَ كُلِّ عَدَدينِ فِيمَا يأْتِي مستعملًا (> ، < ، =):

تطبيق المهارة

١ ٤٢٦١٥ ◯ ٤٢٦٣٧

٢ ١٣٩٨٢ ◯ ١٣٨٧٤

٣ ٤٧٦٥ ◯ ٤٢١٩

٤ ٨٠٩٧ ◯ ٨٧٩٠

٥ ٧١٢٣ ◯ ٧١٨٦

٦ ٥٨٣٥ ◯ ٥٠٨٣

٧ ٦٥٩٨٧ ◯ ٦٥٩٨٧

٨ ٨١٠٩٢ ◯ ٨١٩٠٢

٩ ١٢٤٧٦٤ ◯ ١٢٤٦٧٤

١٠ ٢٤٥٧١٨ ◯ ٢٤٧٥١٨

١١ ٧١٨٦٣٤ ◯ ٧١٩٠٥٥

١٢ ٣٨٧٠٧٦٢ ◯ ٣٧٨٠٧٦

أَسْتَعْمِلُ ثَلاثَةَ أَرْقامٍ مِنَ الصُّنْدوقِ لِكُلِّ عَدَدٍ مَفْقودٍ عَلى خَطِّ الأَعْدادِ.

إثراء

٣

٤	٧
١	٧

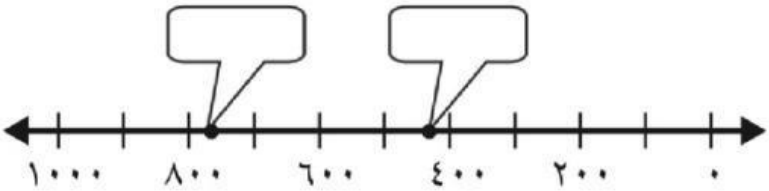

فكر

أيها أكبر: الدائرة الوسطى في الشكل 1 أم الدائرة الوسطى في الشكل 2؟

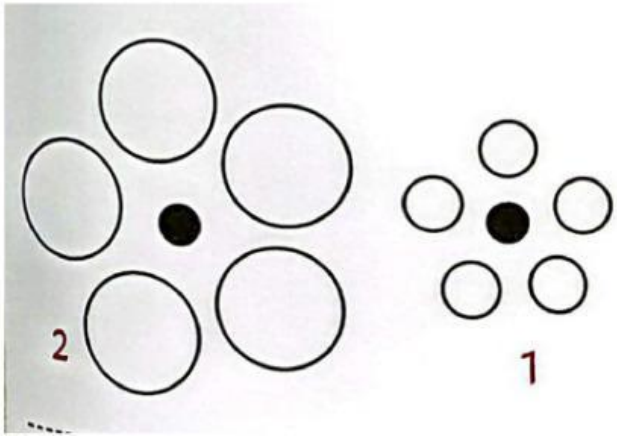

LIVEWORKSHEETS