Tên: Lớp:

Toán

Câu 1: Có bao nhiêu con vịt?



A. 9 **B. 10** **C. 11** **D. 12**

Câu 2: Điền các số còn thiếu trên toa tàu.

Câu 3: Cho các số: 14, 12, 16, 11. Số lớn nhất là

A. 11 **B. 12** **C. 14** **D. 16**

Câu 4: Số "14" đọc là

A. một bốn. **B. một tư.**

C. mười bốn. **D. mười tư..**

Câu 5: Số nào là số *mười ba*

A. 12 **B. 3** **C. 31** **D. 13**

Câu 6: Viết các số từ 11 đến 16.

LIVEWORKSHEETS

Toán

Câu 7: Số?

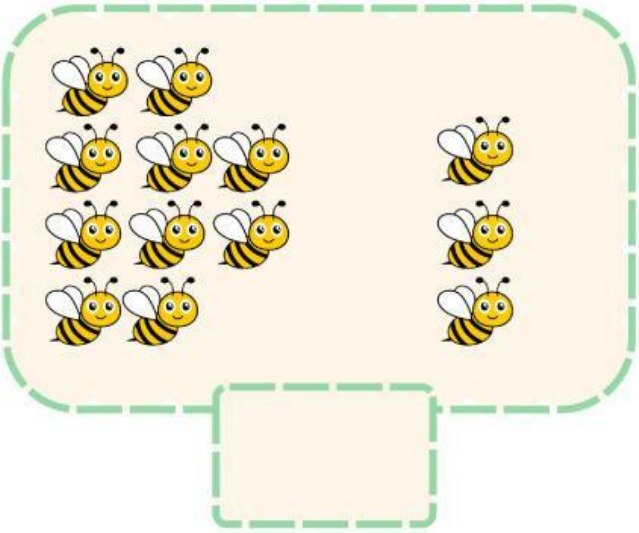



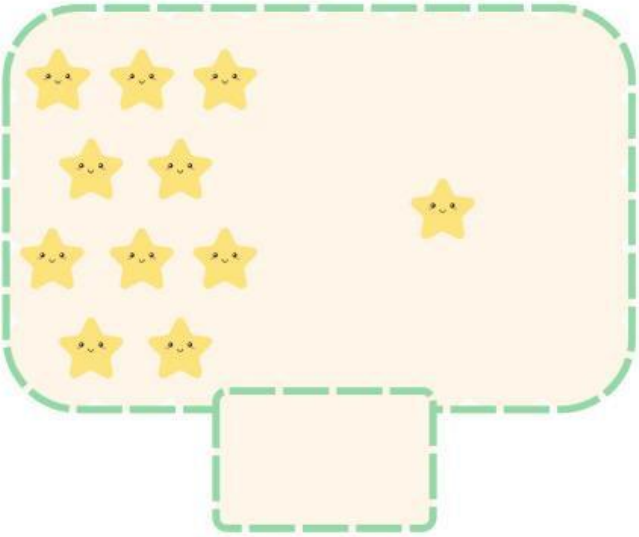



LIVEWORKSHEETS