1. Rajah di bawah menunjukkan simbol komponen litar bersepadu pemasa 555. Berdasarkan pilihan jawapan yang diberikan, namakan fungsi bagi terminal yang bernombor **1, 6, 4, dan 8**.

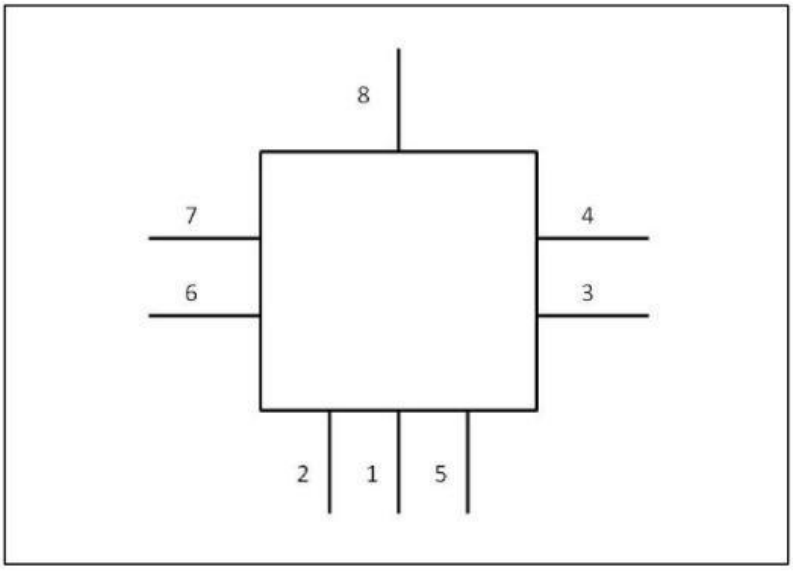

Rajah 1

Terminal	**Fungsi**
1	
6	
4	
8	

2. Sistem kawalan mempunyai komponen-komponen khas yang beroperasi. Nyatakan **dua** komponen sistem kawalan.

   i)……

   ii)……...

3. Litar Bersepadu (Integrated Circuit) merupakan gabungan komponen elektronik yang terdiri daripada?
   i)……..

LIVEWORKSHEETS

ii)……...

iii)……..

iv)……..

4. Berdasarkan Rajah 2 di bawah, apakah fungsi komponen tersebut?



Rajah 2

Fungsi : …….

5. Berdasarkan Rajah 3 di bawah namakan komponen tersebut dan apakah fungsinya?



Rajah 3

Nama komponen :……

Fungsi :……...

LIVEWORKSHEETS