العام الأكاديمي 2020-2021

قسم الحوسبة وتكنولوجيا المعلومات

الفصل الدراسي الثاني

أنشطة اثرائية - الصف الثاني

الوحدة الأولى: أنا أنظم ملفاتي – الوحدة الثانية: أنا أزور العالم

السؤال الأول: اختر الإجابة الصحيحة بوضع علامة على الإجابة الصحيحة.

	ملف نصي
	ملف صوري
	ملف فيديو

	ملف نصي
	ملف صوري
	ملف فيديو

	صورة
	مجلد
	نص

	متصفح ويب
	معلومات
	شريط عنوان

	رقم 1 يرمز للأيقونة
	رقم 1 يرمز للاسم
	رقم 1 يرمز للامتداد

LIVEWORKSHEETS

		رقم 2 يرمز للأيقونة رقم 2يرمز للاسم رقم 2 يرمز للامتداد
		رقم 3 يرمز للأيقونة رقم 3 يرمز للاسم رقم 3يرمز للامتداد

السؤال الثاني: أكمل الفراغات الآتية بالكلمة المناسبة مما يلي :

المجلد – الفيروسات - لملف الصوري - أيقونة الملف

1- .....تساعد على معرفة نوع الملف.

2- .....هو ملف يتم إنشاؤه باستخدام برنامج الرسام Paint

3- .....هو مكان داخل الحاسوب يستخدم لحفظ وتنظيم الملفات.

4- .....هي برامج مؤذية وخطيرة.

LIVEWORKSHEETS

السؤال الثالث: اكمل الصورة بما يناسب:

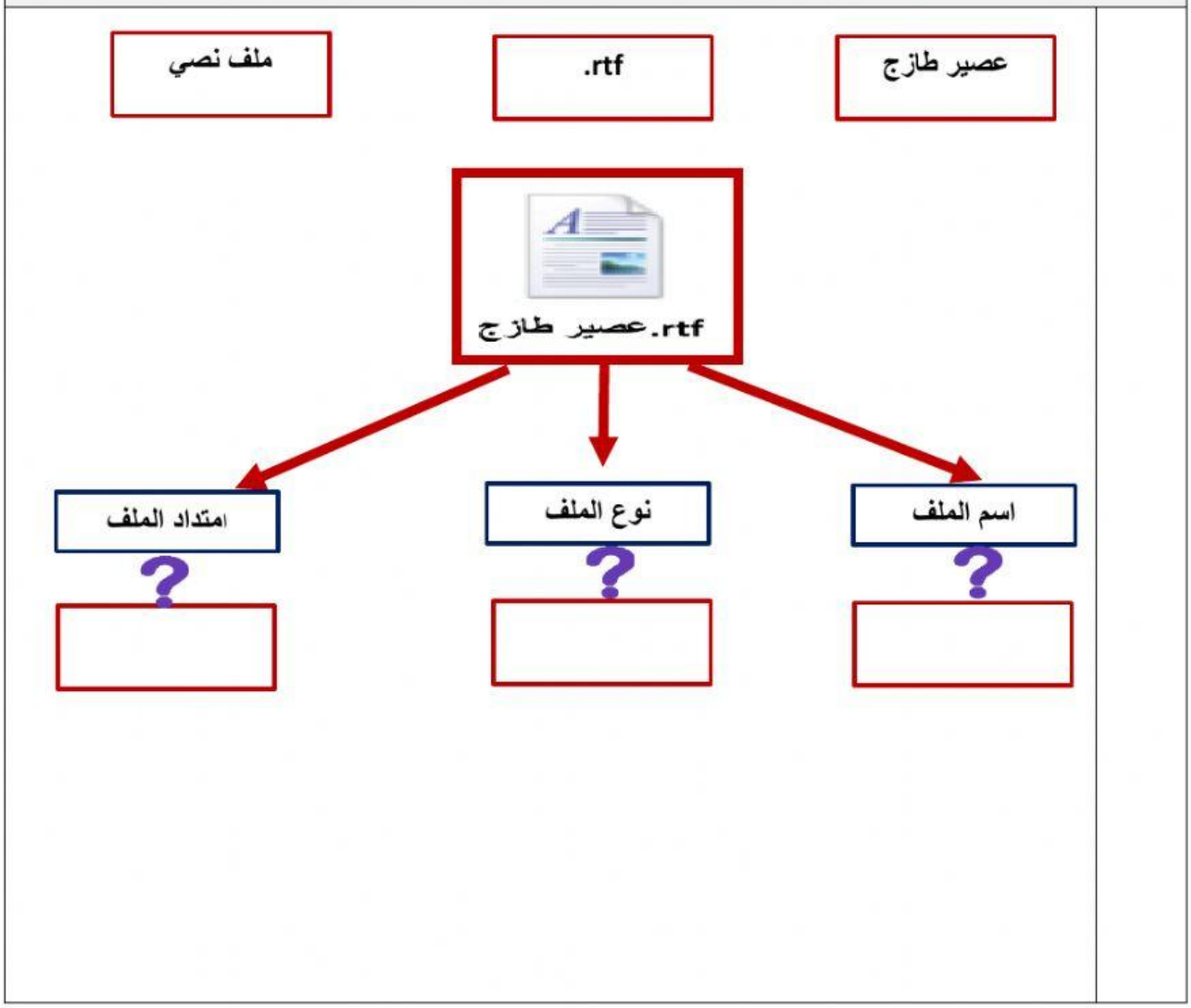

LIVEWORKSHEETS

ملف فيديو

حيوانات

.wmv

حيوانات.wmv

امتداد الملف

نوع الملف

اسم الملف

LIVEWORKSHEETS

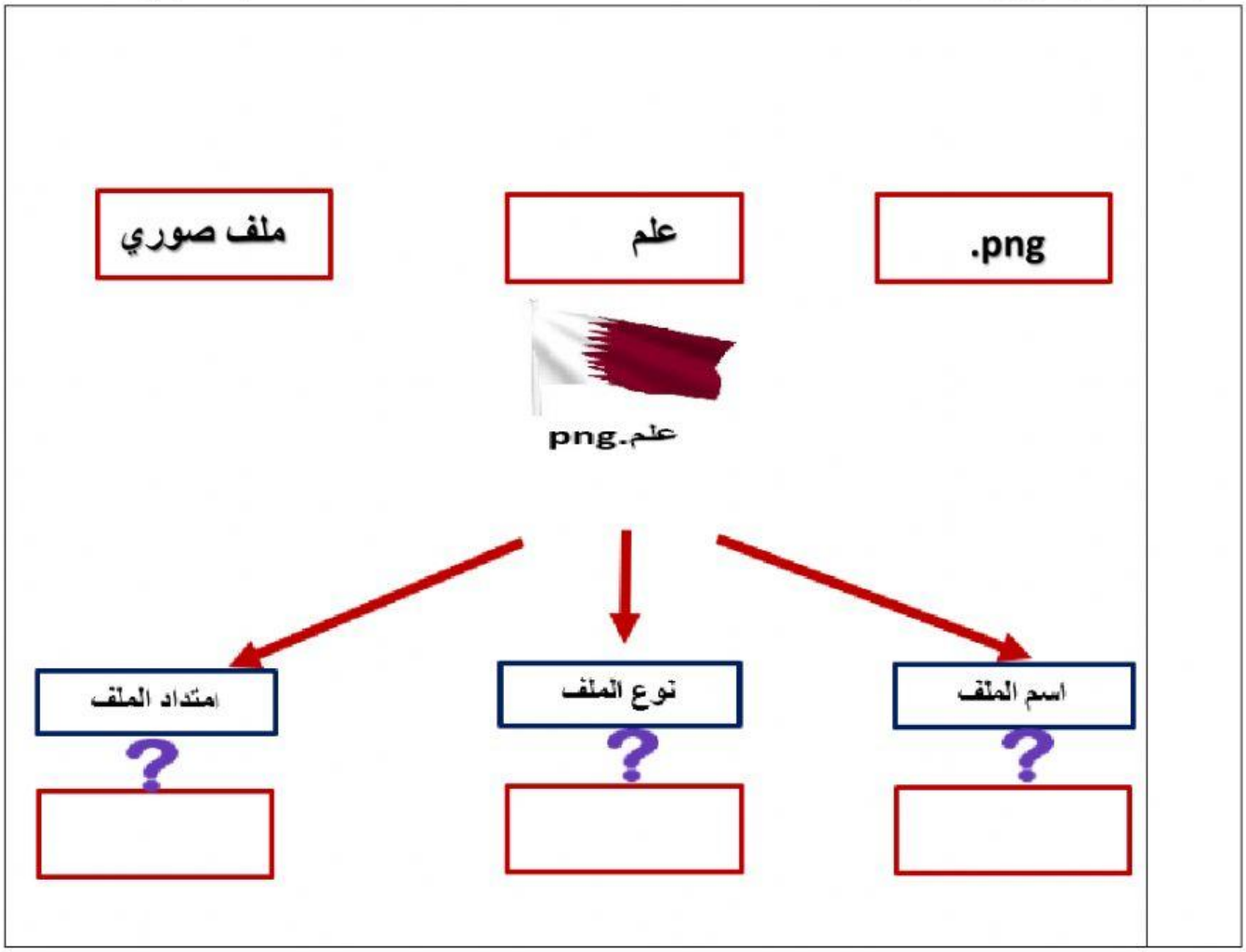

LIVEWORKSHEETS

الفصل الدراسي الثاني
نموذج الأجوبة - الصف الثاني
الوحدة الأولى: أنا أنظم ملفاتي – الوحدة الثانية: أنا أزور العالم

السؤال الأول: اختر الإجابة الصحيحة بوضع علامة على الإجابة الصحيحة.

A	ملف نصي
B	ملف صوري
C	ملف فيديو

A	ملف نصي
B	ملف صوري
C	ملف فيديو

A	صورة
B	مجلد
C	نص

A	متصفح ويب
B	معلومات
C	شريط عنوان

A	رقم 1 يرمز للأيقونة
B	رقم 1 يرمز للاسم
C	رقم 1 يرمز للامتداد

LIVEWORKSHEETS

A	رقم 2 يرمز للأيقونة
B	رقم 2يرمز للاسم
C	رقم 2 يرمز للامتداد

A	رقم 3 يرمز للأيقونة
B	رقم 3 يرمز للاسم
C	رقم 3يرمز للامتداد

السؤال الثاني: أكمل الفراغات الآتية بالكلمة المناسبة مما يلي :

المجلد – الفيروسات - لملف الصوري - أيقونة الملف

1- **أيقونة الملف** تساعد على معرفة نوع الملف.

2- **الملف الصوري** هو ملف يتم إنشاؤه باستخدام برنامج الرسام Paint

3- **المجلد** هو مكان داخل الحاسوب يستخدم لحفظ وتنظيم الملفات.

4- **الفيروسات** هي برامج مؤذية وخطيرة.

LIVEWORKSHEETS

السؤال الثالث: اكمل الصورة بما يناسب:

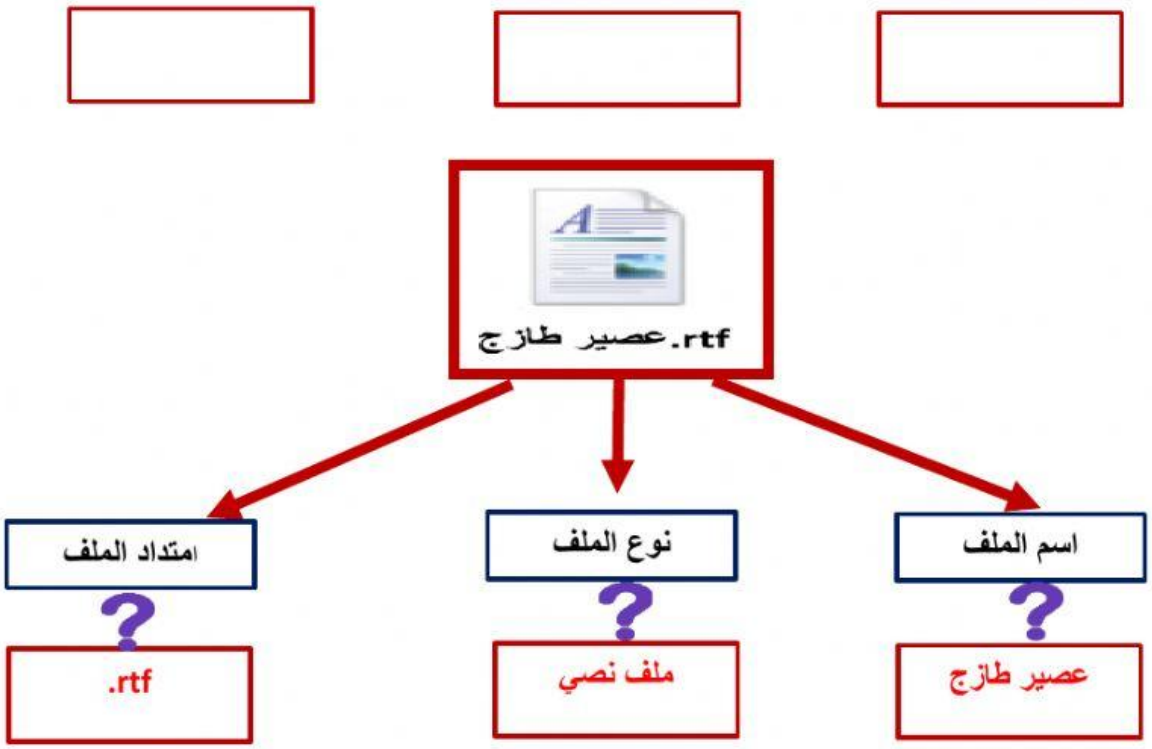

LIVEWORKSHEETS

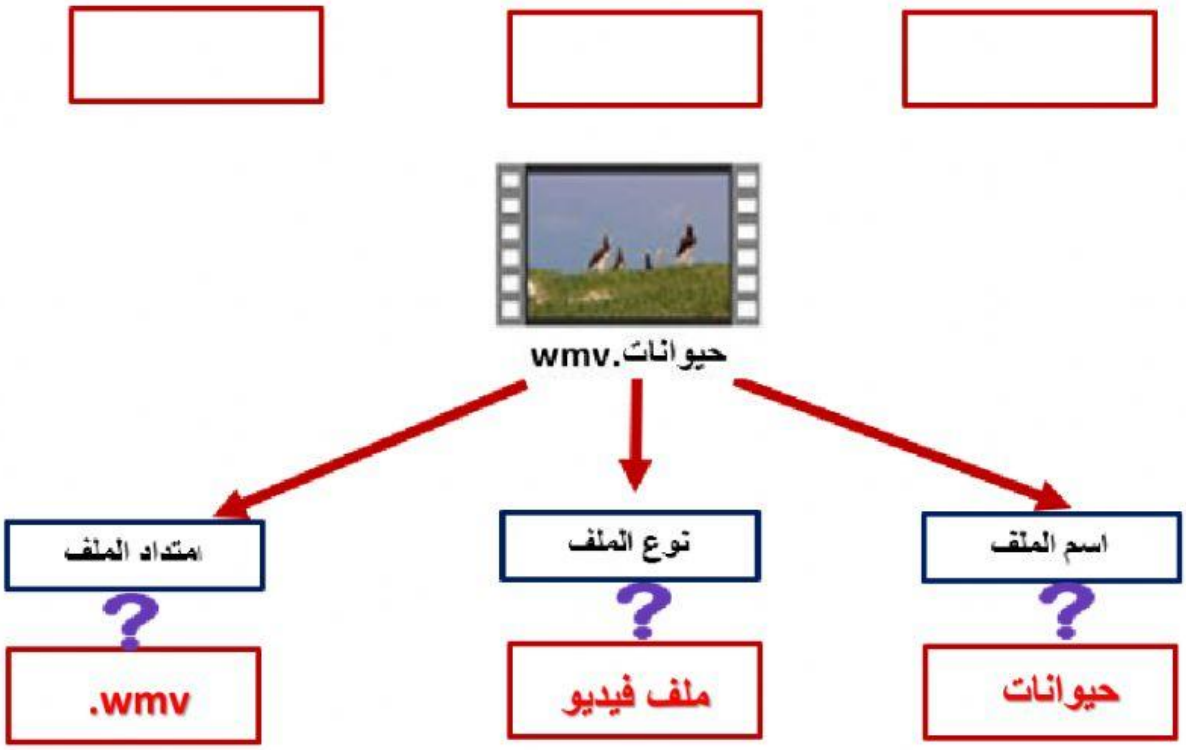

LIVEWORKSHEETS