Agrupamento de Escolas de Pinhal de Frades

Ficha de Avaliação de Geografia

- 7º Ano –

2021 / 2022

Nome_____Nº ____ Turma_____

Classificação_____ Professor(a)_____ Data ___-___-___

Lê com atenção o enunciado do teste e responde com clareza e rigor às questões apresentadas.

GRUPO I

1. **Observa com atenção o mapa presente na figura 1**, que representa uma determinada situação meteorológica, no dia 8 de janeiro de 2021, num determinado continente.

Figura 1 – Situação meteorológica, 8 de janeiro de 2021
www.ipma.pt

1.1 A temperatura máxima e a mínima previstas para Faro na figura 1 são respetivamente …

a) 11ºC e 9ºC

b) 10ºC e 3ºC

c) 7ºC e -2ºC

d) 5ºC e -6ºC

1.2 A temperatura máxima e a mínima previstas para Bragança na figura 1 são respetivamente …

a) 11ºC e 9ºC

b) 10ºC e 3ºC

c) 7ºC e -2ºC

d) 5ºC e -6ºC

1.3 **Identifica** o elemento do clima representado na figura 2.

_____

LIVEWORKSHEETS

1.4 Na figura 1 estão ainda representados os seguintes elementos:

a) Pressão atmosférica _____

b) Temperatura _____

c) Altitude _____

d) Precipitação _____

1.5 Associa os conceitos da coluna A às respetivas definições da coluna B.

Coluna A	Coluna B
1. Clima	**a)** Estado da atmosfera, num determinado lugar, e num curto período de tempo, resultante da conjugação de vários elementos do clima.
2. Estado do tempo	**b)** Sucessão habitual dos estados do tempo, num determinado lugar, durante um longo período de tempo, geralmente 30 anos.

GRUPO II

2. Lê o texto do **documento 1**.

"Em Portugal, o céu vai estar muito nublado no norte do país, ocorrendo precipitações no litoral. A temperatura mínima será de -1 °C nas regiões montanhosas do distrito da Guarda e a máxima de 15 °C, na cidade algarvia de Faro."

Seleciona a opção correta para cada um dos itens.

1. O **documento 1** faz uma descrição do…

A – …clima. ☐
B – …estado do dia natural. ☐
C – …estado do tempo. ☐
D – …estado do clima. ☐

2. Os elementos do clima ausentes do texto são…

A – …vento, nebulosidade, humidade e pressão atmosférica. ☐
B – …vento, humidade, pressão atmosférica e relevo. ☐
C – …pressão atmosférica, relevo, correntes marítimas e humidade. ☐
D – …pressão atmosférica, vento, e insolação. ☐

3. Podemos concluir através da leitura do texto que…

A – …a temperatura diminui de norte para sul. ☐
B – …quanto maior é a altitude, maior é a temperatura. ☐
C – …a humidade é maior no interior do país. ☐
D – …a temperatura diminui de sul para norte. ☐

LIVEWORKSHEETS

GRUPO III

3. Observa a figura 3, que representa as diferentes zonas climáticas.

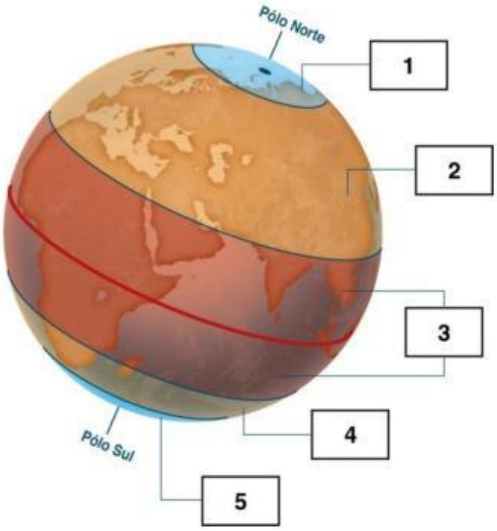

Figura 3 - Zonas Climáticas.

3.1 Elabora a legenda da figura, indicando para cada algarismo a respetiva zona climática.

1 - _____

2 - _____

3 - _____

4 - _____

5 - _____

3.2 Atenta às afirmações que se seguem, **assinalando** com um **V** as alíneas que consideras verdadeiras e com um **F** as alíneas que consideras falsas.

a) As diferentes zonas climáticas são delimitadas pelos trópicos, de câncer e de capricórnio, e pelos círculos polares, ártico e antártico. _____

b) No clima equatorial predomina a floresta tropical. _____

c) À zona temperada correspondem os climas temperados, marítimo, mediterrâneo e desértico. _____

d) Podemos encontrar o clima de altitude apenas na zona temperada do norte. _____

e) Os climas quentes localizam-se na zona quente ou tórrida. _____

f) Os climas frios apresentam uma reduzida precipitação, com exceção do clima de altitude, que apresenta uma precipitação mais abundante, sob a forma de chuva ou neve. _____

LIVEWORKSHEETS

Grupo IV

Observa a **figura 4** que representa uma das maiores florestas do mundo.

Fig. 4 Floresta da Amazónia.

Seleciona a opção correta para cada um dos itens.

4.1 Na região intertropical onde se localiza esta floresta, a temperatura…

A – …é moderada ao longo do ano. ☐
B – …é elevada ao longo do ano. ☐
C – …é baixa durante todo o ano. ☐
D – …regista valores negativos ao longo do ano. ☐

4.2 Nas regiões polares a vegetação é muito reduzida porque…

A – …a temperatura média é elevada. ☐
B – …a precipitação é elevada. ☐
C – …a temperatura média é reduzida. ☐
D – …o vento é fraco. ☐

4.3 Os climas quentes são, respetivamente,…

A – …o equatorial, o desértico quente e o tropical seco. ☐
B – …o equatorial, o tropical seco e o desértico quente. ☐
C – …o tropical seco, o tropical húmido e o desértico quente. ☐
D – …o desértico quente, o tropical húmido e o tropical seco. ☐

4.4 Os climas temperados são, respetivamente…

A – …mediterrâneo, continental e marítimo. ☐
B – …marítimo, continental e mediterrâneo. ☐
C – …mediterrâneo, marítimo e continental. ☐
D – …continental, mediterrâneo e marítimo. ☐

LIVEWORKSHEETS

4.5 O clima que predomina em Portugal é …

A – …temperado Continental ☐

B – …temperado mediterrâneo ☐
C – …temperado marítimo ☐
D – …Polar ☐

GRUPO V

5. Observa com atenção as imagens, A, B, C e D, da figura 5, que representam exemplos de formações vegetais existentes na superfície terrestre.

A – Floresta Boreal

C - Tundra

B - Savana

D – Vegetação distribuída por andares

Figura 5 - Formações vegetais existentes em determinadas zonas climáticas.

5.1 Faz corresponder a cada afirmação a(s) respetiva(s) imagem(ns).

a) Desenvolve-se na zona climática fria. _____
b) É caraterística do clima de altitude. _____
c) A vegetação distribui-se por andares. _____
d) Formação vegetal rasteira nos meses menos frios, quando se dá a fusão do gelo. _____
e) Desenvolve-se na zona climática quente. _____
f) Formada por vegetação rasteira (musgos e líquenes). _____
g) Predominam espécies como as coníferas, abeto, pinheiro e larício. _____
h) É caraterísticas dos climas que apresentam duas estações: húmida e seca. _____

LIVEWORKSHEETS

GRUPO VI

6.1 Identifica as cadeias montanhosas assinaladas no planisfério (fig. 6).

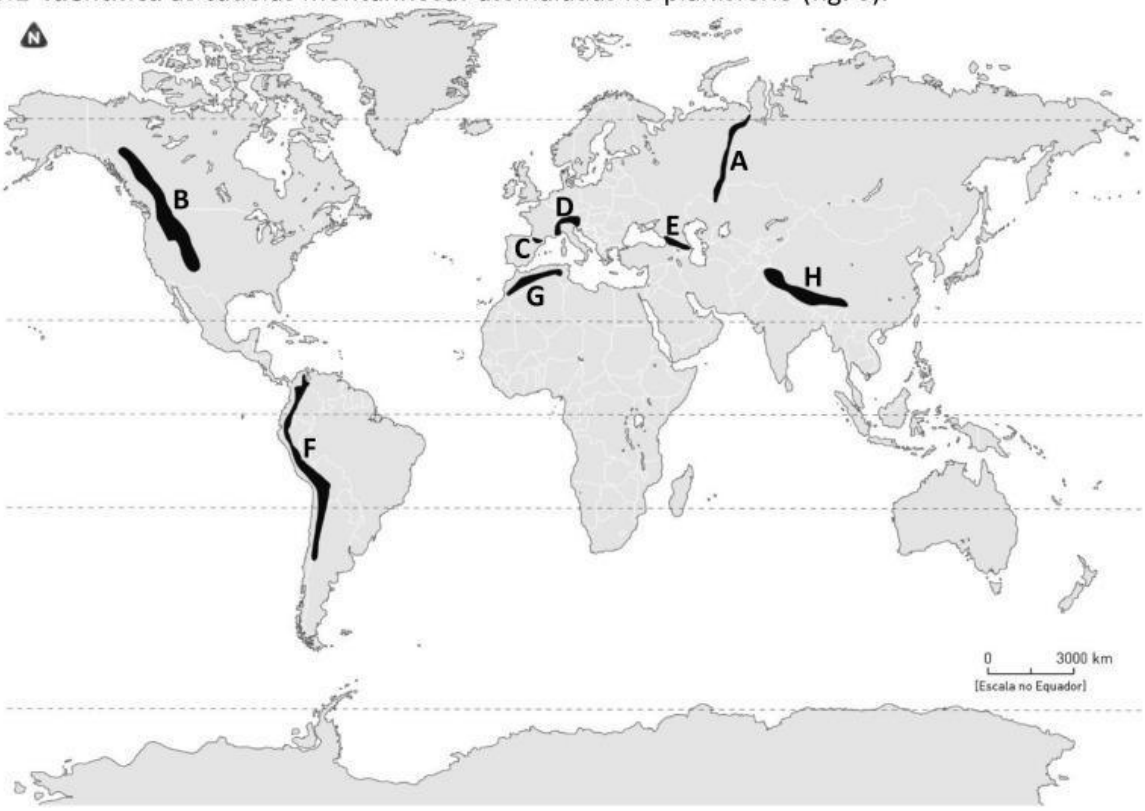

A - _____ B - _____

C-_____ D-_____

E - _____ F - _____

G - _____ H - _____

6.2 Faz a legenda da figura 7.

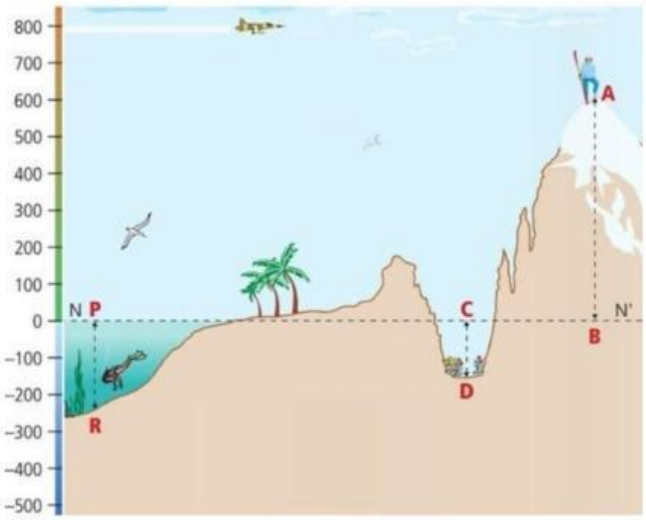

a) Superfície do mar _____

b) Lugar a 250 m de profundidade __

c) Lugar com 600 m de altitude ____

d) Lugar a menos 150 m de altitude _

e) Lugar com 0 metros ____

LIVEWORKSHEETS

6.3 Associa os conceitos da coluna A às respetivas definições na coluna B

Coluna A	Resposta	Coluna B
1-Montanha		A-Relevo acidentado, rochoso e que pode atingir elevadas altitudes
2-Vale		B-Relevo plano que se encontra a baixa altitude e onde os rios correm sem escavar vales.
3-Planalto		C- Relevo plano que se encontra a maior altitude que as planícies e onde os rios escavam vales mais ou menos profundos.
4-Planície		D -Relevo com o formato em V ou U, consoante foi feito por um rio ou um glaciar respetivamente.

GRUPO VII

7. Observa com atenção os vales da figura 8.

Doc. 1 Rio Ob, Rússia.

Doc. 2 Rio Iansequião, China.

Doc. 3 Rio Mosela, Alemanha.

Figura 8 – Vales dos Rios Ob, Russia, Rio Iansequião e Rio Mosela.

7.1 **Identifica** o vale da figura 8 que representa um vale em V fechado. _____

7.2 **Identifica** a figura que representa um vale em V aberto. _____

7.3 **Identifica** a figura que representa um vale em fundo plano. _____

7.4 **Associa** a forma do vale à secção do rio:

1- Secção Superior		A - Vale em fundo plano
2 – Secção Média		B - Vale em V fechado ou em Garganta
3 – Secção inferior		C - Vale em V aberto

LIVEWORKSHEETS

7.5 Os cursos de água são importantes agentes erosivos.

Assinala com X a opção que corresponde às fases do processo de erosão realizado pelo rio.

a) acumulação, transporte e desgaste _____

b) desgaste, acumulação e transporte _____

c) desgaste, transporte e acumulação _____

d) transporte, desgaste e acumulação _____

7.6 **A área drenada por uma rede hidrográfica** designa-se:

a) leito do rio _____

b) bacia hidrográfica ____

c) perfil transversal _____

d) caudal do rio _____

Fim

LIVEWORKSHEETS