MENGENAL BANGUN DATAR

STIMULASI KREATIVITAS

OLEH MEGA KURNIASIH JAYANTI

LIVEWORKSHEETS

Nama : Kelas :

SOAL EVALUASI MATEMATIKA

Silanglah jawaban yang benar !

1. Manakah seperti Segi Tiga?

2. Ada berapa Segi Tiga pada gambar?

2

3

3. Ada berapa Segi Empat pada gambar?



1

2

4. Manakah seperti lingkaran?

5. Manakah seperti Segi Empat?



Uraikanlah gambar tersebut!

Sebutkan bangun yang menyusun gambar

LIVEWORKSHEETS

Susun beberapa bangun datar berikut

Nama Kelompok :

Petunjuk Pengisian :

1. Sambungkan titik hitam ke gambar yang cocok dengan susunan bangun datar

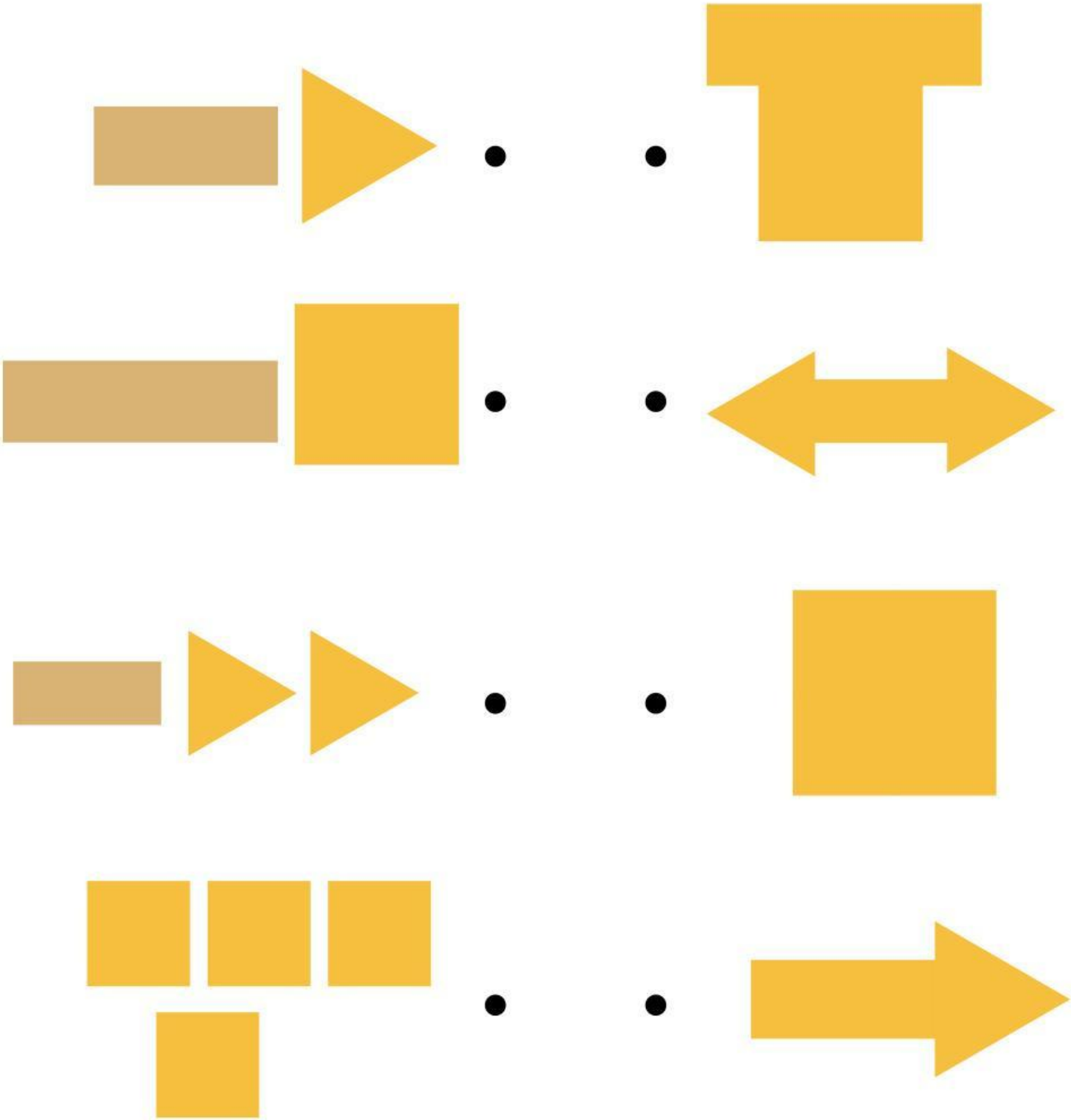

LIVEWORKSHEETS

Susun beberapa bangun datar berikut

Nama Kelompok:

Petunjuk Pengisian :

1. Sambungkan titik hitam ke gambar yang cocok dengan susunan bangun datar

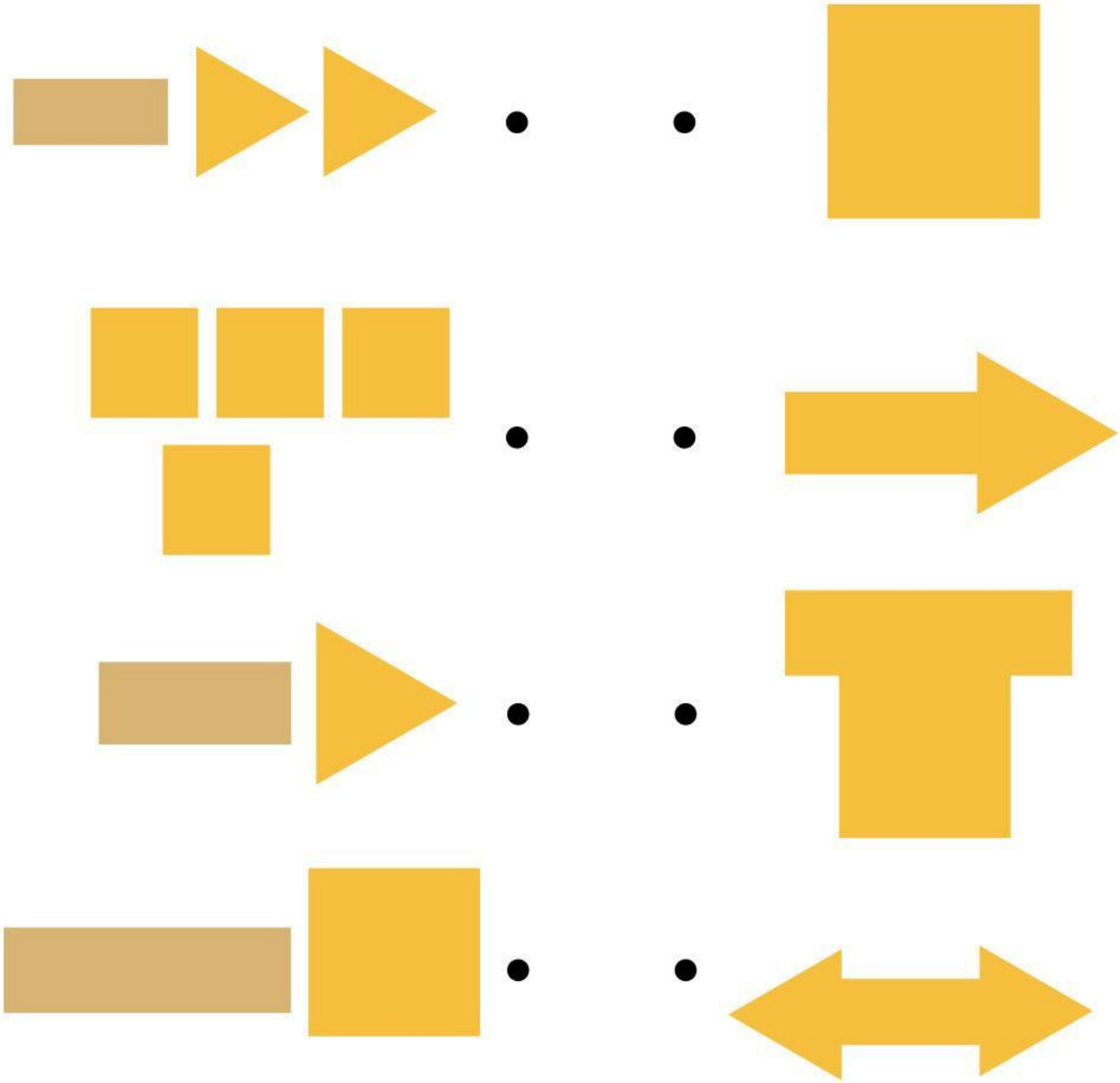

LIVEWORKSHEETS

Susun beberapa bangun datar berikut

Nama Kelompok :

Petunjuk Pengisian :

1. Sambungkan titik hitam ke gambar yang cocok dengan susunan bangun datar

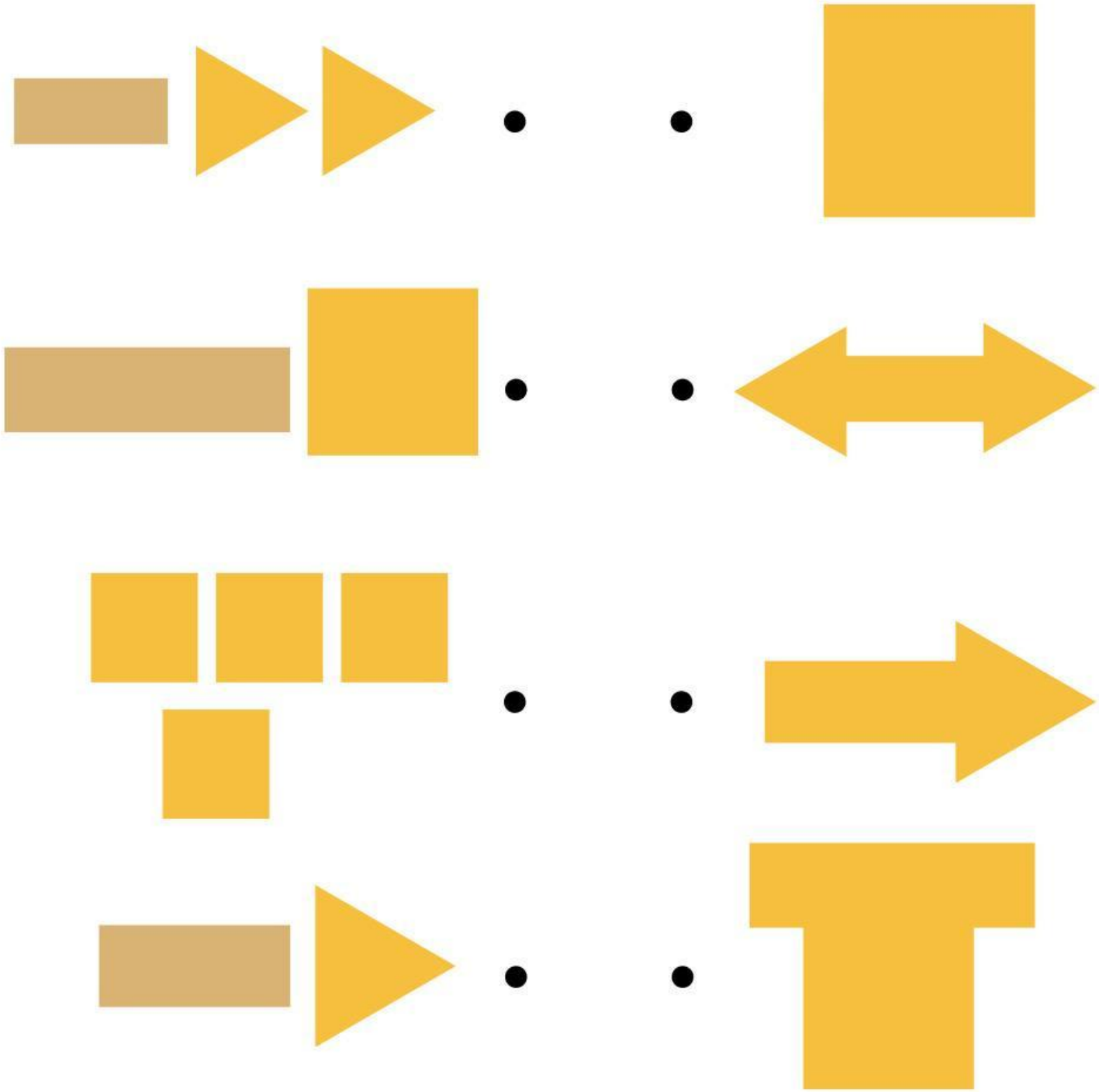

LIVEWORKSHEETS

Refleksi Pembelajaran

Nama: _____ Pelajaran: _____

Kelas: _____ Tanggal: _____

Apakah kalian menyukai cara kita belajar hari ini?_____

Bagian mana dari materi yang menurut kalian sulit?_____

Apa yang akan kalian lakukan untuk dapat lebih memahami materi?_____

_____

Apa kalian punya cara sendiri memahami materi?_____

_____

LIVEWORKSHEETS