3-р ангийн Хүн Орчин хичээлийн 1-р улирлын Теле хичээлийн үр дүнг оношлох ажлын хуудас

2020-2021 оны хичээлийн жил

1. Дараах хүснэгтийг сайтар ажиглаарай.
А. Цэгийн оронд тохирох үгийг нөхөөрэй. Мөн тухайн үйл, мэдрэхгүйн аль эрхтэнтэй холбоотойг ажиглаад, эерэг сайн бол (+), сөрөг муу бол (-) гэж хариултын хоосон нүдэнд тэмдэглэнэ.

Мэдрэхүйн эрхтэн / үүрэг	Зурагт удаан хугацаагаар үзэх	Чихэр, хийжүүлсэн ундаа их хэрэглэх	Өвөл зөөлөн дулаан бээлий өмсөх	Цэвэр ус ууж, сүү цагаан идээ хэрэглэх	Шуугиан , хэт чанга дуу чимээ сонсох	Цэвэр агаар, байгальд аялах	 Ном унших, бичихдээ завсарлан амрах
Нүд / харах	-						
...../ сонсох							
Хэл/							
..... /үнэрлэх						+	
Гар/							

Б. Цэгийн оронд тохирох үгийг нөхөж бичнэ үү.

Үнэрийг мэдрэх чадвар ..... бүрт харилцан ..... байдаг .

2. Таних тэмдгийг ажиглаад хоосон нүдэнд тохирох үгийг бичээрэй.

Төрсөн ах дүү нар				*Ихэр эрэгтэй, эмэгтэй*	*Гэрлэсэн*	

3. Аав хүүдээ хэрэглээ, хадгаламж, тусламж гэсэн 3 дуттуй бэлтгэж өгөөд, мөнгөө 10 хувааж, тавыг нь хэрэглээний дуттуйд, гурвыг нь хадгаламжийн дуттуйд, хоёрыг нь тусламжийн дуттуйд хийж хэвшээрэй гэв. Дараах хүснэгтэд тооцоолол хийж бичээрэй.

Өгсөн мөнгө	ТУСЛАМЖ	ХАДГАЛАМЖ	ХЭРЭГЛЭЭ
10000₮			

4. Зургийг ажиглаад асуултад хариулаарай. Монгол гэрийн хойд болон баруун зүгт юу байна вэ? Бичээрэй.

LIVEWORKSHEETS

5. Зургийг эгц дээрээс нь харж, план зургийг хоосон нүдэнд тохируулан байрлуулаарай.

Бодит зураг				
План зураг				

6. Зургийг ажиглаад даалгаврыг гүйцэтгээрэй.
А. Сургууль орчмын аюулгүй байдлыг аюулгүй байдлыг хангаж буй хэсгийг сонгоорой.

Б. Сургууль орчмын хаана, юу байрлаж байгааг ажиглан зөв холбоорой.

1. Сургуулийн хойд зүгт	a. Өндөр барилга
2. Сургуулийн зүүн өмнө зүгт	в. Тоглоомын талбай
3. Сургуулийн зүүн зүгт	c. Машин зам
4. Сургуулийн баруун зүгт	d. Машины зогсоол

7. Өөрийн гэрээс - сургууль хүрэх замд байдаг гол зүйлсийг бичээд, аюулгүй эсэхийг бичээрэй.



LIVEWORKSHEETS

8. Зураг дээр ургамлын өндрийг 3 аргаар хэмжиж байна. Аль хэмжилт нь зөв бэ? Сонгоорой.

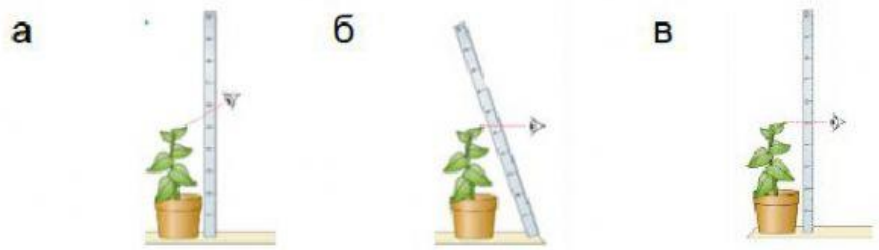

9. Зургийг ажиглаад асуултад хариулна уу.

А. Хоосон нүдний хэсэгт тохирох нэрийг бичнэ үү.

Б. Навчны уртыг хэрхэн хэмжих вэ? Зөв хариултыг сонгож дугуйлна уу.

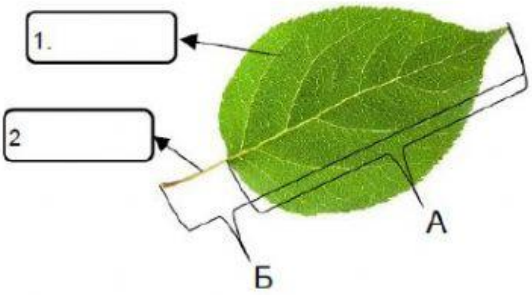

LIVEWORKSHEETS