PENILAIAN HARIAN 2 MATEMATIKA MATERI "SUDUT"

Nama :
Kelas

I. Pilihlah jawaban yang paling tepat dari soal berikut ini!

1. Berikut ini adalah bagian-bagian sudut, kecuali....
   a. Kaki sudut
   b. Titik sudut
   c. Daerah sudut
   d. Besar sudut

2. Gambar yang sesuai dengan aplikasi sudut 90° dari gambar di bawah ini yaitu

a.

b.

c.

d.

3. Berdasarkan gambar di bawah ini, maka nama sudutnya adalah ? ....

   a. Sudut ABC
   b. Sudut ACB
   c. Sudut BCA
   d. Sudut CAB

4. Berdasarkan gambar pada soal no. 3, maka titik sudut terdapat di ....
   a. A
   b. B
   c. C
   d. D

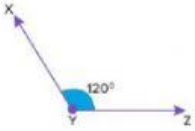

5. Perhatikan gambar di samping! Manakah kaki sudutnya?
   a. XY dan XZ
   b. XZ dan YZ
   c. XY dan YZ
   d. XZ dan XY.

LIVEWORKSHEETS

II. Cocokkan Jawaban dari gambar pertama dengan gambar kedua sesuai dengan pasangannya!

6.

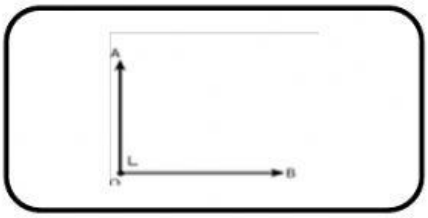

Sudut Lancip

7.

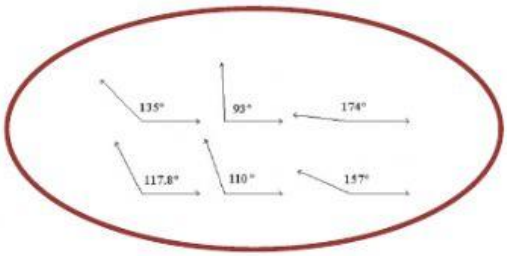

Sudut siku-siku

8.

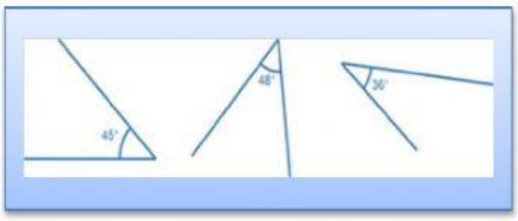

Sudut tumpul

9.

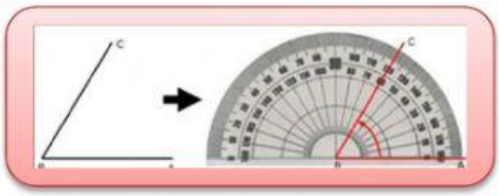

Alat ukur sudut satuan tidak baku

10.

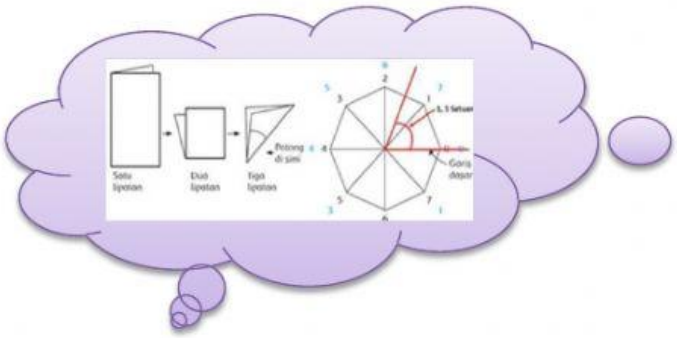

Alat ukur sudut satuan baku

LIVEWORKSHEETS