ورقة عمل

- أي رسم بياني يظهر مقدار قيمة التسارع مساوية للصفر؟

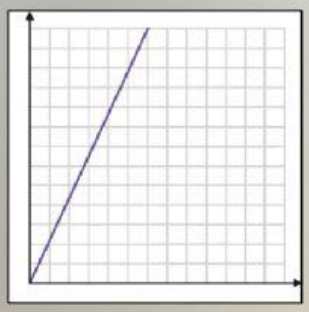

A

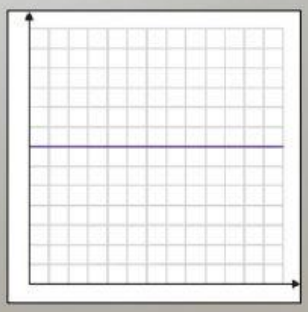

B

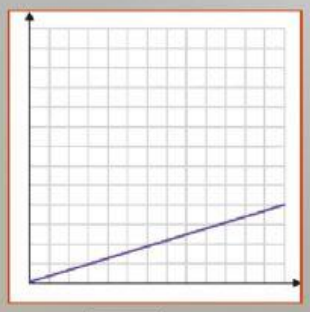

C

- التغير في سرعة المتجهة مع مرور الزمن هو:

التسارع

السرعة

LIVEWORKSHEETS