LEMBAR KERJA PESERTA DIDIK (LKPD)
GEOMETRI (BANGUN RUANG SISI DATAR)

Sebelum mempelajari materi ini, apa yang kalian ketahui mengenai Bangun Ruang Sisi Datar?

CHECK BOX

Berdasarkan gambar-gambar yang sering kita jumpai di bawah ini, manakah yang termasuk bangun ruang sisi datar…

LIVEWORKSHEETS

LIVEWORKSHEETS

Setiap bangun ruang sisi datar memiliki unsur – unsur dan sifat – sifat dari bangun ruang sisi datar itu sendiri. Adapun unsur – unsur bangun ruang sis datar terdiri dari:

1. Bidang atau sisi
2. Rusuk
3. Titik sudut
4. Diagonal bidang
5. Diagonal ruang
6. Bidang diagonal

JOIN ARROW

Pasangkan bangun ruang sisi datar di bawah ini dengan masing – masing jumlah rusuknya!

	9 rusuk
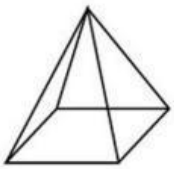	**12 rusuk**
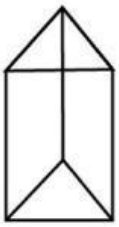	**8 rusuk**

LIVEWORKSHEETS

DRAG AND DROP

Berdasarkan sifat – sifat bangun ruang sisi datar yang ada, letakkan bangun ruang sisi datar sesuai dengan sifat – sifat yang ada ke dalam kotak yang disediakan!

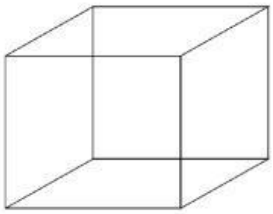

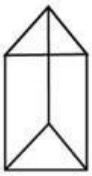

Memiliki 4 diagonal ruang yang sama Panjang dan berpotongan di satu titik	Memiliki 6 sisi (bidang) berbentuk persegi yang saling kongruen.	Umumnya memiliki rusuk tegak, tetapi ada pula yang tidak tegak.

PILIHAN GANDA

Perhatikan gambar – gambar di bawah ini!

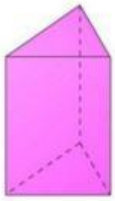

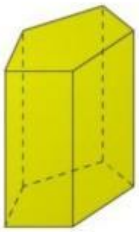

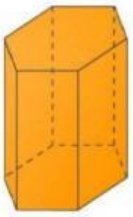

Jika diperhatikan gambar – gambar di atas, merupakan jenis – jenis prisma. Prisma – prisma di atas digolongkan berdasarkan…

- Rusuk Tegaknya
- Banyak Rusuknya
- Bentuk Alasnya
- Jumlah Titik Sudut

LIVEWORKSHEETS

ISIAN SINGKAT

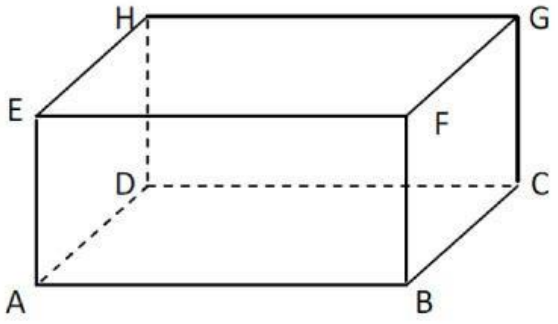

Dari gambar balok di atas, sebutkan 2 diagonal ruang yang ada…

DROP DOWN

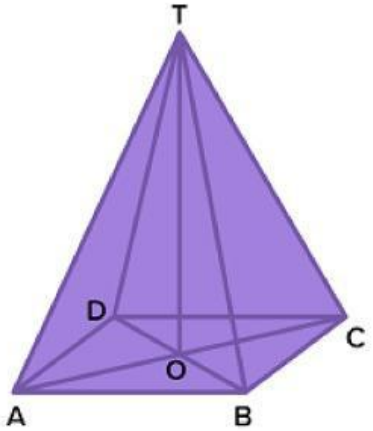

Panjang TO disebut dengan…

LIVEWORKSHEETS

Perhatikan video berikut ini!

Berdasarkan materi yang sudah dipelajari dan video yang kamu tonton, coba simpulkan apa yang kamu dapat hari ini pada kolom di bawah ini.

LIVEWORKSHEETS