FUNÇÕES e SEQUÊNCIAS 7.2

Indica quais das seguintes correspondências são funções. Justifica a tua resposta.

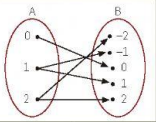	É função Não é função	Porque Tipo de representação:
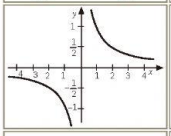	É função Não é função	Porque Tipo de representação:
x | y −2 | 4 −2 | 0 −2 | 1 −2 | 35	É função Não é função	Porque Tipo de representação:
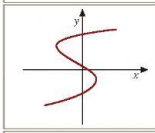	É função Não é função	Porque Tipo de representação:
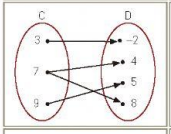	É função Não é função	Porque Tipo de representação:
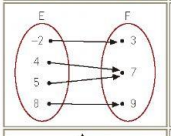	É função Não é função	Porque Tipo de representação:
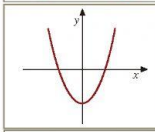	É função Não é função	Porque Tipo de representação:
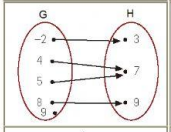	É função Não é função	Porque Tipo de representação:
x | y −2 | 4 0 | 0 2 | 1 4 | 35	É função Não é função	Porque Tipo de representação:
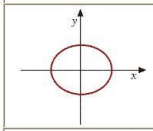	É função Não é função	Porque Tipo de representação:
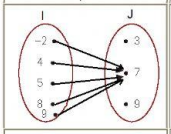	É função Não é função	Porque Tipo de representação:
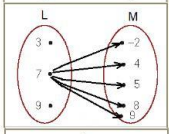	É função Não é função	Porque Tipo de representação:
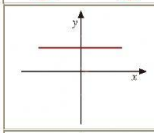	É função Não é função	Porque Tipo de representação:
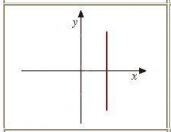	É função Não é função	Porque Tipo de representação:
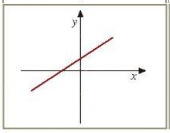	É função Não é função	Porque Tipo de representação:

LIVEWORKSHEETS