LEMBAR KERJA PERSERTA DIDIK

(LKPD)

Penyusun	**:**	**ASTI**
Instansi	**:**	**SD N 04 MUNGKA**
Tahun Penyusunan	**:**	**Tahun 2022**
Jenjang Sekolah	**:**	**SD**
Mata Pelajaran	**:**	**Matematika (Volume 1)**
Fase / Kelas	**:**	**B / 4**
Unit 5	**:**	**Pembagian dengan Bilangan Satu Angka**
Subunit 1	**:**	**Pembagian Bersusun**
Alokasi Waktu	**:**	**1 x Pertemuan**

NAMA KELOMPOK :

ANGGOTA KELOMPOK :

1.
2.
3.
4.
5.

LIVEWORKSHEETS

Petunjuk pengerjaan :

a. **Pahami perintah soal terleebih dahulu kemudian kerjakan sesuai petunjuk yang diberikan!**
b. **Jawablah pertanyaan dengan tepat dan benar!**

1. **Ayo kerjakan soal dibawah ini dengan teliti!**

a. **48 : 8 = 6**

6 × 8 = ☐

b. **48 : 9 = 5 sisa 3**



9 × 5 + 3 = ☐

2. **Kerjakan soal berikut dengan tepat!**

a. **Irwan meiliki permen 7 buah, irwan ingin membagi kepada 3 orang temannya. Berapa permen yang akan diterimah oleh setiap anak dan berapa sisanya ?**

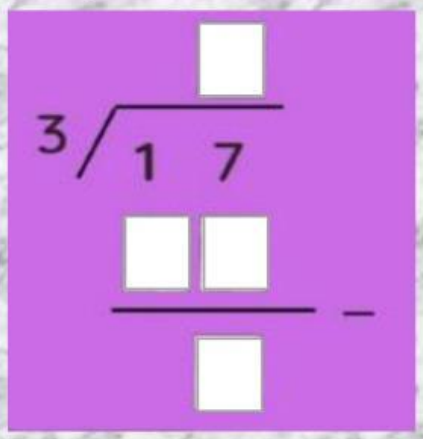

LIVEWORKSHEETS

b. **Nabila diberi 36 coklat oleh pamannya. Nabila ingin membagi 36 coklat tersebut kepada 5 temannya. Berapa coklat yang akan diterimah oleh setiap anak dan berapa sisanya ?**

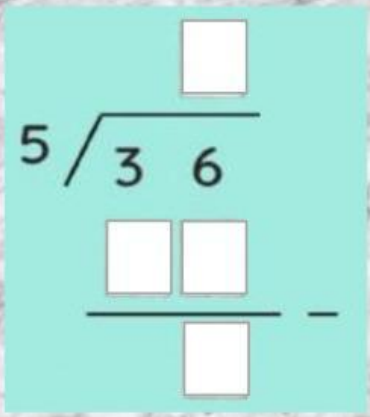

c. **Sulaiman membeli 30 roti, sulaiman ingin membagi roti tersebut kepada 5 orang temannya. Berapa roti yang akan diterimah oleh setiap anak dan berapa sisanya ?**

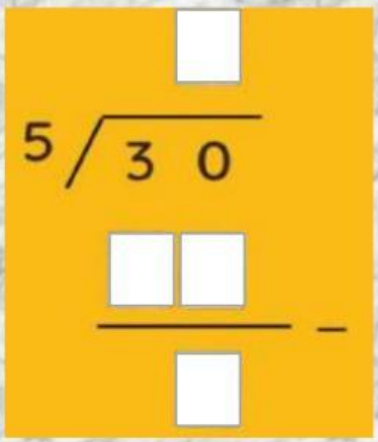

3. **Peserta didik membuat kalimat matematika sesuai dengan pembagian berikut!**
   a. **Zahira memiliki 26 kelereng, zahira ingin membagikan kelereng tersebut kepada 4 orang temannya. Berapa kelerang yang akan diterimah oleh setiap anak dan berapa sisanya ?**

LIVEWORKSHEETS

Kalimat matematika:

[ ] : [ ] = [ ] sisa [ ]

b. Zidan memiliki 23 apel, ia ingin membagikan apel tersebut kepada 5 temannya, Berapa apel yang akan diterimah oleh setiap anak dan berapa sisanya ?

[ ] : [ ] = [ ] sisa [ ]

SELAMAT

MENGERJAKAN :>

LIVEWORKSHEETS