مدرسة محمد الفاتح الابتدائية الأهلية

أ: محمد عبد العظيم

اسم الطالب : ..... المادة :الرياضيات الصف : الثاني .....

الفصل التاسع ـ الأعداد حتى ١٠٠٠ ـ المئات

السؤال الأول: اختر الإجابة الصحيحة من بين الأقواس . (مئة واحدة تساوي ١٠ عشرات)

١ مئات = ١٠ عشرات = ... آحاد (١٠٠ آحاد ١٠ آحاد ١آحاد)



٢ مئات = ... عشرات = ٢٠٠ آحاد (١٠٠عشرات ٢٠ عشرات ١ عشرات)

..... مئات = ٣٠ عشرات = ٣٠٠ آحاد (٣٠٠مئات ٣٠ مئات ٣مئات)

السؤال الثاني: ضع كلمة (صح أو خطأ) أمام الإجابة المناسبة



النموذج يمثل ٤مئات = ٤٠عشرات = ٤٠٠ آحاد (.....)

النموذج يمثل ٨ مئات = ٨٠عشرات = ٨٠٠ آحاد (.....)



النموذج يمثل ٦مئات = ٦٠عشرات = ٦٠٠ آحاد (.....)

LIVEWORKSHEETS