Thứ ..... ngày ..... tháng 11 năm 2023

PHIẾU ÔN HỌC PHẦN 2 - SỐ 7
MÔN: TOÁN

Họ và tên:.....

Lớp: 1A...

Nhận xét của giáo viên: .....

Câu 1: Khoanh vào đáp án đúng. Hình bên là hình:

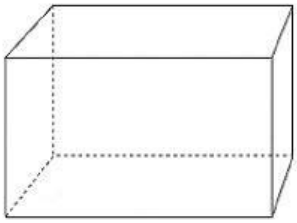

A. Hình hộp chữ nhật B. Hình chóp đáy vuông

C. Hình lập phương

Câu 2. Đánh dấu x ô trống dưới hình đa giác đều; Tô màu vào hình nhiều hơn 4 cạnh:

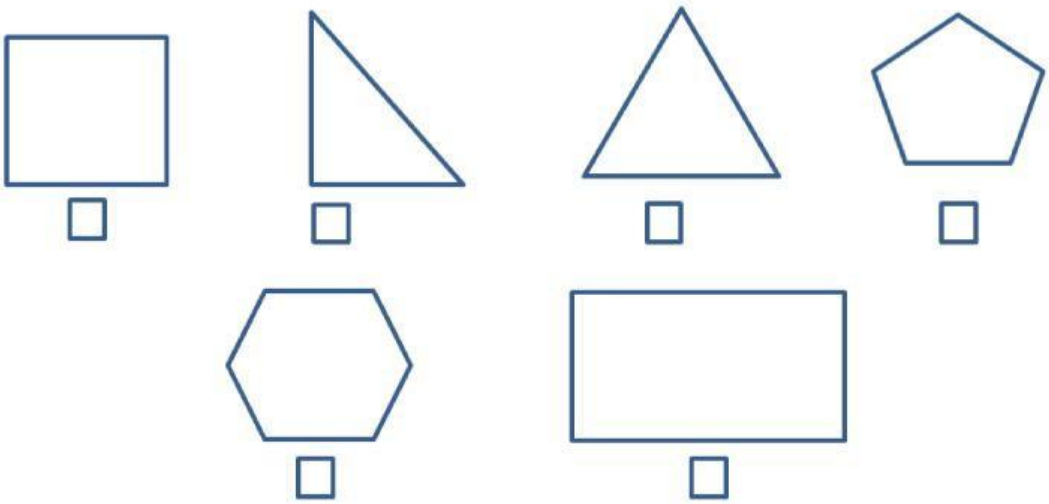

Câu 3. Nối:

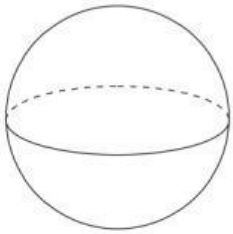

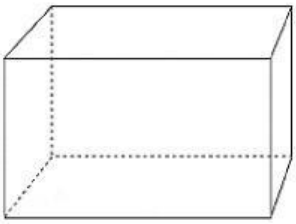

6 mặt, 8 đỉnh, 12 cạnh

0 cạnh, 0 đỉnh, 0 mặt

2 mặt, 0 đỉnh, 0 cạnh

LIVEWORKSHEETS

Câu 4. Nối tên hình phẳng và hình khối với các đồ vật:

Hình chữ nhật	Hình tam giác	Khối lập phương	Khối cầu	Khối hộp chữ nhật

Câu 5. Tô màu vào các hình tam giác:

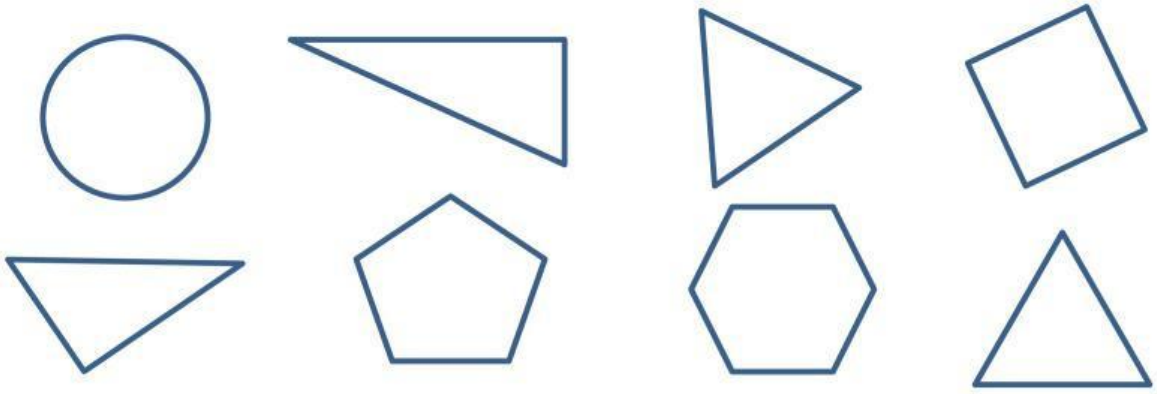

Câu 6. Vẽ trục đối xứng cho các hình sau:

Câu 7. Nối hình có phần tô màu với ô tương ứng:

$\frac{1}{4}$
Không phải $\frac{1}{4}$

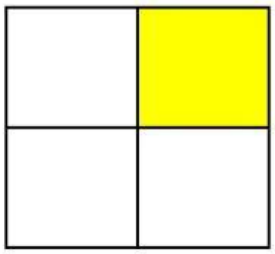

LIVEWORKSHEETS

Câu 8. Vẽ phần hình đối xứng để được hình tổng thể:

Câu 9. Nối các hình để tạo thành 1 hình tổng thể:

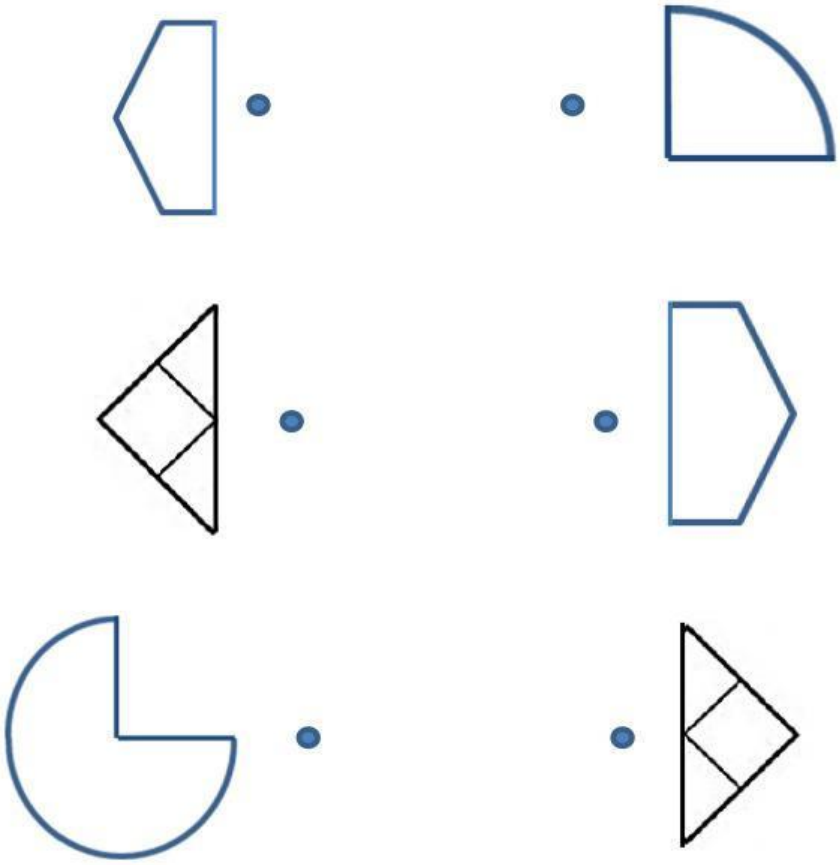

Câu 10. Tô màu các hình đúng với phân số:

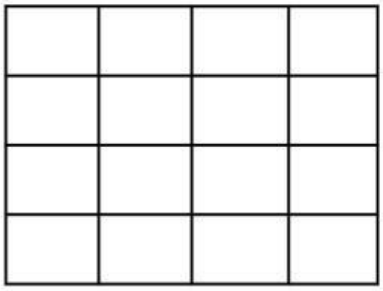

$\frac{1}{4}$

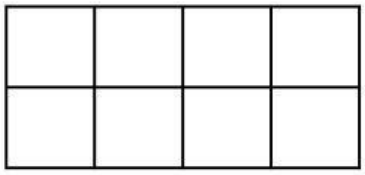

$\frac{1}{}$

LIVEWORKSHEETS

Câu 11. Vẽ 1 hình tam giác

Câu 12. Vẽ 1 đoạn thẳng dài 9 cm:

Câu 13.

a. Đo độ dài bút chì điền số đo vào chỗ chấm:



.....

b. Ước lượng chiều cao của tủ quần áo trong thực tế và khoanh vào số đo thích hợp:

20cm **2m**

LIVEWORKSHEETS