SOAL LKPD NUMERASI

SOAL PILGAN

Bangun ruang dibawah ini, kecuali

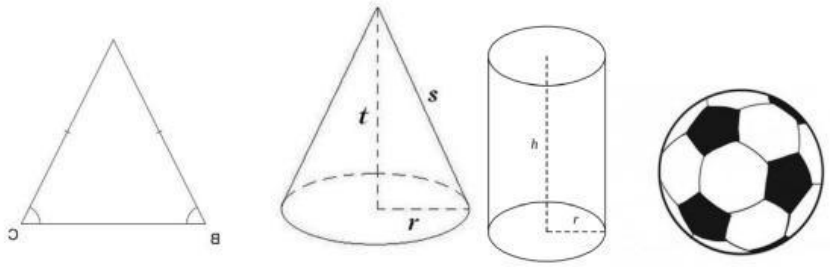

SOAL ISIAN SINGKAT

Sebuah kubus mempunyai volume 1.728 cm3. Panjang rusuk kubus tersebut adalah ….cm

Sudut terbentuk dari dua sinar garis lurus yang ….

SOAL DROP DOWN



Terdapat 4 kantong plastik. Setiap kantong berisi 3 bola, jumlah bola seluruhnya adalah

LIVEWORKSHEETS

sudut pada gambar jam dinding tersebut besarnya.

SOAL CHECK BOX

Bangun datar yang memiliki sisi empat adalah

- Segitiga
- Tabung
- Persegi
- Lingkaran

SOAL JOIN ARROW

Pasangkan sesuai pasangannya!

Persegi Panjang	
Lingkaran	
Segitiga	

LIVEWORKSHEETS

Persegi

SOAL DRAG & DROP

Kelompokkan bangun ruang dibawah ini dengan nama bangun ruang!

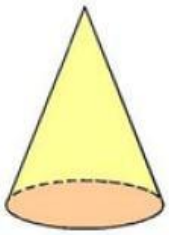



Balok | **Kerucut** | **Tabung**

LIVEWORKSHEETS