التحقق من تقدمي

مراجعة المفردات

اكتب صواب أو خطأ.

1. العدد العشري عدد يستخدم القيمة المكانية والنقطة العشرية لإظهار جزء من الكل. _____
2. في العدد 0.36، يقع العدد 3 في خانة الأجزاء من عشرة. _____
3. في العدد 0.58، يقع العدد 5 في خانة الأجزاء من مئة. _____

مراجعة المفاهيم

اكتب كل عدد عشري.

4. أربعة أعشار _____
5. اثنان وثلاثون جزءًا من مئة _____

ظلل النموذج. ثم اكتب العدد العشري.

6. ثلاثة من عشرة



_____

7. ثمانية من عشرة



_____

اكتب كل عدد عشري.

8.



_____

9.



_____

حقوق الطبع والتأليف © محفوظة لصالح مؤسسة McGraw-Hill Education

برنامج محمد بن راشد للتعلم الذكي
Mohammed Bin Rashid Smart Learning Program

LIVEWORKSHEETS

حل المسائل

10. المسافة بين المتجر ومكتب البريد تساوي أربعة وثلاثين جزءًا من المئة من الكيلومتر. اكتبها على صورة عدد عشري.

11. هناك عشر سمكات في الحوض، وأربعة منهم لونها أزرق. فاكتب عدداً عشريًا لإظهار عدد السمكات الزرقاء من السمك.

12. وجد عُمَر العملات المعدنية المُوضحة في جيبه. فما الجزء الذي تمثله العملات من الدرهم؟ اكتب عدداً عشريًا لتوضيح الإجابة.

13. يشتمل الاختبار عشرة أسئلة. أجابت مبسون على 8 بإجابات صحيحة. اكتب العدد العشري لإظهار أي جزء من الاختبار أجابته إجابة صحيحة.

تمرين على الاختبار

14. أي مما يلي تمثله النقطة على خط الأعداد؟



Ⓐ 4.0

Ⓑ أربعة أعشار

Ⓒ 4 من 5

Ⓓ أربعة أجزاء من مئة

حقوق الطبع والتأليف © محفوظة لصالح مؤسسة McGraw-Hill Education

LIVEWORKSHEETS