NAMA:_____ KELAS:_____

BANDING NOMBOR

Markah

Aktiviti 1

1 Warnakan jawapan yang betul.

a	937	lebih besar	lebih kecil	daripada 1 021.
b	4 516	lebih besar	lebih kecil	daripada 4 261.
c	8 201	lebih besar	lebih kecil	daripada 8 300.
d	9 075	lebih besar	lebih kecil	daripada 6 743.

2 Tulis **lebih besar daripada** atau **lebih kecil daripada**.

a	929		1 001
b	5 861		8 013
c	3 405		3 054
d	9 724		9 459

3 Lengkapkan.

3 301 3 131 3 133

a _____ lebih besar daripada _____.

b _____ lebih kecil daripada _____.

LIVEWORKSHEETS

SUSUN DAN BILANG NOMBOR

Aktiviti 1

Susun nombor dalam:

a

1 445 | 1 435 | 1 465 | 1 455



tertib menaik ____ , ____ , ____ , ____

b

3 702 | 3 802 | 4 002 | 3 902

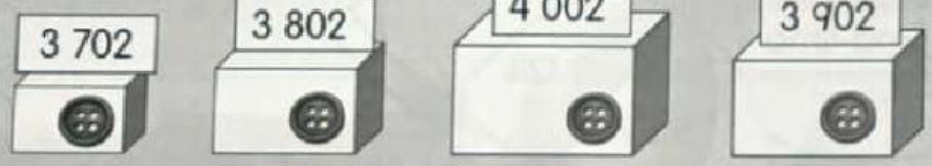

tertib menurun ____ , ____ , ____ , ____

c

5 603 | 5 606 | 5 600 | 5 597



tertib menaik ____ , ____ , ____ , ____

d

9 024 | 9 040 | 9 048 | 9 032

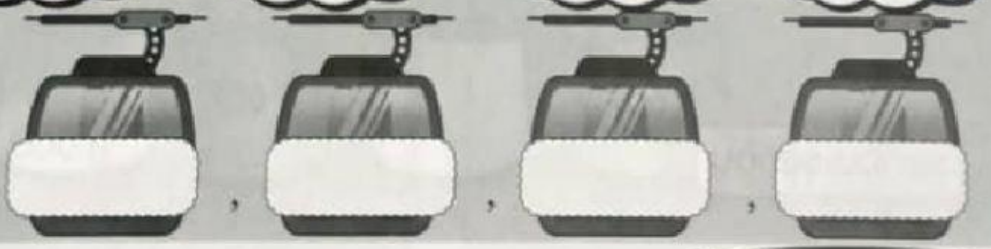

tertib menurun ____ , ____ , ____ , ____

LIVEWORKSHEETS