Quizizz

Pecahan
50 Pertanyaan

NAMA :

KELAS :

TANGGAL :

1. 

Daerah yang di arsir pada gambar diatas menunjukkan pecahan . . . .

A b. $\frac{3}{6}$

B a. $\frac{2}{6}$

C d. $\frac{3}{3}$

2. 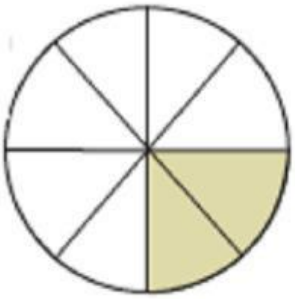

Berapakah nilai pecahan dari gambar di samping?

A $\frac{8}{2}$

B $\frac{2}{8}$

C $\frac{2}{10}$

LIVEWORKSHEETS

3. $\frac{2}{3}$ Gambar yang sesuai dengan pecahan tersebut adalah ....

A

B 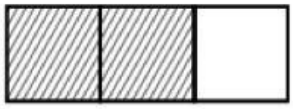

C 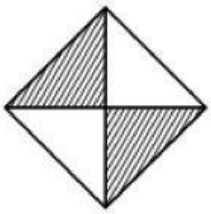

4. Gambar yang menunjukkan pecahan 1/4 adalah

A 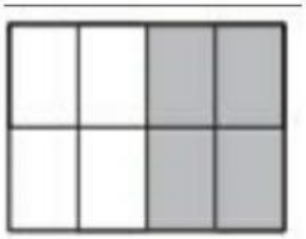

B 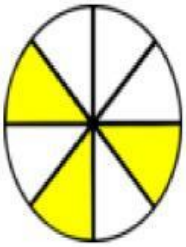

C 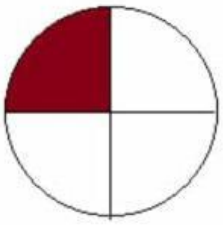

5. Pecahan yang senilai dengan $\frac{1}{2}$ adalah

A $\frac{1}{4}$

B $\frac{2}{1}$

C $\frac{2}{4}$

6. Pecahan senilai $\frac{2}{3}$ dengan …

A 4 /9

B 3 / 6

C 6 / 9

LIVEWORKSHEETS

7. Pecahan yang senilai dengan $\frac{12}{15}$ adalah ....

A $\frac{3}{4}$

B $\frac{4}{5}$

C $\frac{3}{5}$

8. Pecahan $\frac{3}{6} = \frac{A}{24}$, maka nilai A adalah…

A 9

B 6

C 12

9. Berikut ini yang bukan pecahan yang senilai dengan $\frac{2}{3}$ adalah .....

A $\frac{4}{6}$

B $\frac{9}{14}$

C $\frac{6}{9}$

10. Berikut yang merupakan pecahan senilai adalah....

A $\frac{4}{7}$ dan $\frac{1}{4}$

B $\frac{5}{9}$ dan $\frac{10}{16}$

C $\frac{3}{6}$ dan $\frac{1}{2}$

LIVEWORKSHEETS

11. 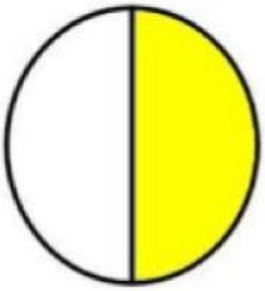 Gambar berikut bernilai pecahan ....

A $\frac{1}{4}$

B $\frac{1}{2}$

C $\frac{1}{3}$

12.  Gambar berikut bernilai pecahan ....

A $\frac{1}{2}$

B $\frac{1}{4}$

C $\frac{1}{3}$

13. Ibu membeli kue bolu. Kue tersebut dipotong menjadi 2 bagian sama besar. Setiap bagian kue bolu yang telah dipotong bernilai pecahan ....

A $\frac{1}{4}$

B $\frac{1}{3}$

C $\frac{1}{2}$

LIVEWORKSHEETS

14. Ina memiliki 4 buah apel. Apel tersebut akan diberikan kepada 4 orang temannya. Apel yang diterima oleh setiap anak akan bernilai pecahan ....

A $\frac{1}{3}$

B $\frac{1}{2}$

C $\frac{1}{4}$

15. Ayah memotong sebuah pepaya menjadi 3 bagian sama besar. Setiap potong pepaya bernilai pecahan ....

A $\frac{1}{4}$

B $\frac{1}{3}$

C $\frac{1}{2}$

16. 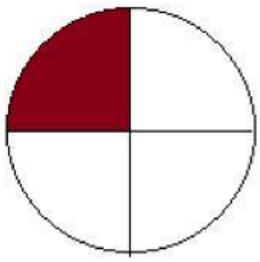

Gambar berikut bernilai pecahan ....

A $\frac{1}{2}$

B $\frac{1}{4}$

C $\frac{1}{3}$

17. Ibu mempunyai 2 buah kue. $\frac{1}{2}$ bagian kue dari kue tersebut adalah ... buah.

A 1

B 2

C 3

LIVEWORKSHEETS

18. Andika mempunyai 4 buah balon. 1 balon telah pecah, maka 1 buah balon yang pecah dapat dinyatakan dengan nilai pecahan ....

A $\frac{1}{4}$

B $\frac{1}{3}$

C $\frac{1}{2}$

19.

Agar mendapatkan kue $\frac{1}{2}$ bagian, maka kita harus membagi kue tersebut menjadi ... bagian sama besar.

A 1

B 3

C 2

20. Siti memiliki kertas berbentuk persegi panjang. Kemudian kertas tersebut ia potong menjadi dua bagian sama besar. setiap potong kertas adalag ... bagian.

A $\frac{1}{3}$

B $\frac{1}{2}$

C $\frac{1}{4}$

21. Bilangan satu dibagi empat hasilnya ... .

A 1/4

B 1/2

C 4

D 1/3

LIVEWORKSHEETS

22. kakak membagi sebuah kue menjadi dua bagian sama besar.
Tiap bagian disebut ... .

A sepertiga
B dua
C setengah
D seperempat

23. Ayah memelihara ayam.
seekor jantan dan seekor betina.
Banyak ayam jantan dari seluruh ayam ayah menunjukkan pecahan ... .

A setengah
B sepertiga
C seperempat
D 1

24. Roti dipotong menjadi tiga bagian sama besar.
tiap bagian nilainya ... .

A seperempat
B sepertiga
C 3
D setengah

25. Di sebuah kolam terdapat 20 ikan
seperempat bagian dari jumlah ikan adalah ... .

A 4
B 5
C 2
D 3

26. Angka 4 pada pecahan 1/4 di sebut ... .

A penyebut
B pembilang
C perempat
D pembanding

27. Siswa kelas 2 terdiri dari 22 siswa.
setengah bagian dari siswa kelas 2 adalah ... .

A 10
B 13
C 11
D 12

LIVEWORKSHEETS

28. Sebuah kue dipotong menjadi empat bagian sama besar.
setiap bagian bernilai ...

A sepertiga
B seperempat
C seperdua
D setengah

29. Sepertiga bagian dari enam potong kue adalah ... .

A 3
B 5
C 2
D 4

30. Beni mempunyai 12 buah apel
Apel tersebut dibagikan kepada dua temannya sama banyak.
Berapa buah apel yang diterima masing-masing anak ?

A 6
B 7
C 4
D 5

31. 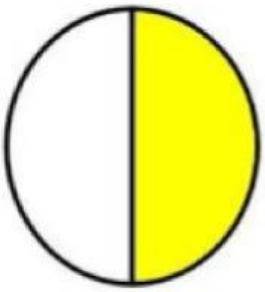
Gambar berikut bernilai pecahan ....

A $\frac{1}{2}$
B $\frac{1}{3}$
C $\frac{1}{4}$

LIVEWORKSHEETS

32.  Gambar berikut bernilai pecahan ....

A $\frac{1}{3}$

B $\frac{1}{4}$

C $\frac{1}{2}$

33. Ibu membeli kue bolu. Kue tersebut dipotong menjadi 2 bagian sama besar. Setiap bagian kue bolu yang telah dipotong bernilai pecahan ....

A $\frac{1}{3}$

B $\frac{1}{2}$

C $\frac{1}{4}$

34. Ina memiliki 4 buah apel. Apel tersebut akan diberikan kepada 4 orang temannya. Apel yang diterima oleh setiap anak akan bernilai pecahan ....

A $\frac{1}{2}$

B $\frac{1}{4}$

C $\frac{1}{3}$

35. Ayah memotong sebuah pepaya menjadi 3 bagian sama besar. Setiap potong pepaya bernilai pecahan ....

A $\frac{1}{4}$

B $\frac{1}{3}$

C $\frac{1}{2}$

LIVEWORKSHEETS

36. 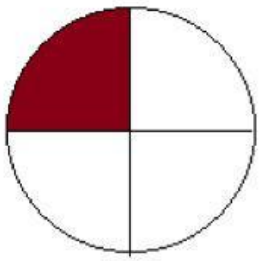

Gambar berikut bernilai pecahan ....

A $\frac{1}{4}$

B $\frac{1}{2}$

C $\frac{1}{3}$

37. Ibu mempunyai 2 buah kue. $\frac{1}{2}$ bagian kue dari kue tersebut adalah ... buah.

A 3

B 1

C 2

38. Andika mempunyai 4 buah balon. 1 balon telah pecah, maka 1 buah balon yang pecah dapat dinyatakan dengan nilai pecahan ....

A $\frac{1}{4}$

B $\frac{1}{2}$

C $\frac{1}{3}$

39.

Agar mendapatkan kue $\frac{1}{2}$ bagian, maka kita harus membagi kue tersebut menjadi ... bagian sama besar.

A 1

B 3

C 2

LIVEWORKSHEETS

40. Siti memiliki kertas berbentuk persegi panjang. Kemudian kertas tersebut ia potong menjadi dua bagian sama besar. setiap potong kertas adalag ... bagian.

A $\frac{1}{2}$

B $\frac{1}{4}$

C $\frac{1}{3}$

41. Bilangan satu dibagi empat hasilnya ... .

A 1/4

B 1/3

C 4

D 1/2

42. kakak membagi sebuah kue menjadi dua bagian sama besar.
Tiap bagian disebut ... .

A sepertiga

B seperempat

C dua

D setengah

43. Ayah memelihara ayam.
seekor jantan dan seekor betina.
Banyak ayam jantan dari seluruh ayam ayah menunjukkan pecahan ... .

A seperempat

B setengah

C 1

D sepertiga

44. Roti dipotong menjadi tiga bagian sama besar.
tiap bagian nilainya ... .

A setengah

B 3

C sepertiga

D seperempat

LIVEWORKSHEETS

45. Di sebuah kolam terdapat 20 ikan
seperempat bagian dari jumlah ikan adalah ... .

A 4
B 3
C 2
D 5

46. Angka 4 pada pecahan 1/4 di sebut ... .

A pembanding
B perempat
C penyebut
D pembilang

47. Siswa kelas 2 terdiri dari 22 siswa.
setengah bagian dari siswa kelas 2 adalah ... .

A 13
B 10
C 11
D 12

48. Sebuah kue dipotong menjadi empat bagian sama besar.
setiap bagian bernilai ...

A sepertiga
B seperdua
C setengah
D seperempat

49. Sepertiga bagian dari enam potong kue adalah ... .

A 2
B 3
C 5
D 4

LIVEWORKSHEETS

50. Beni mempunyai 12 buah apel
Apel tersebut dibagikan kepada dua temannya sama banyak.
Berapa buah apel yang diterima masing-masing anak ?

A 5

B 4

C 6

D 7

LIVEWORKSHEETS