Soal Post Test PPL pertemuan 4_Analisis Data_Microsoft Excel

Silahkan pilih jawaban dari soal-soal berikut dengan yakin dan benar!

1. Perhatikan gambar berikut dengan teliti!

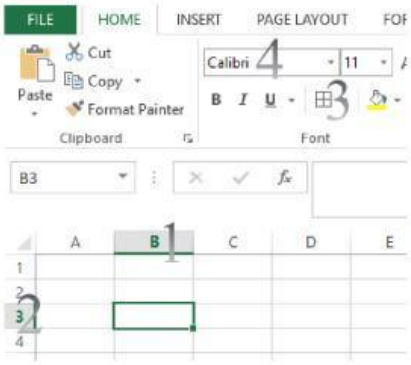

Pada gambar aplikasi pengolah angka berikut, manakah yang menunjukan kolom? …

a. No 1 b. No 2 c. No 3 d. No 4

2. Berikut adalah gambar langkah-langkah untuk membuat border dalam Microsoft Excel.

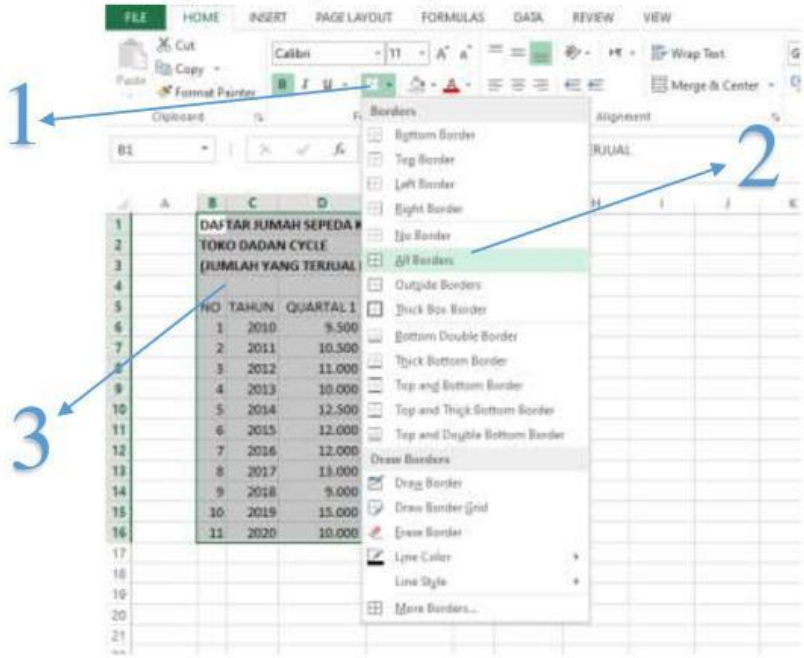

Manakah langkah-langkah yang tepat untuk membuat border!

a. 1-2-3 b. 3-2-1 c. 1-3-2 d. 3-1-2

3. Jodohkan penulisan yang benar operator aritmatika yang benar dalam Microsoft Excel!

PENJUMLAHAN	X
PERKALIAN	+
PENGURANGAN	/
PEMBAGIAN	:
	*
	-

LIVEWORKSHEETS

4. Perhatikan gambar grafik berikut!

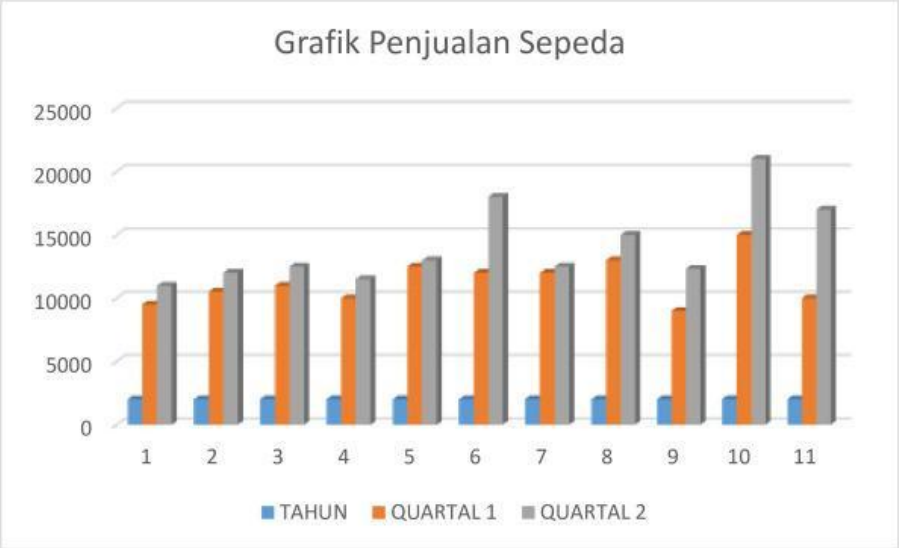

Dari data grafik diatas, tentukan tahun dan quartal penjualan tertinggi! (isi dengan angka)

Jawaban: Tahun ke …… Quartal ke …..

LIVEWORKSHEETS