Nombre y Apellido: _____

Figuras en el Espacio

¡Resolvamos!

1. Para calcular el perímetro de una figura geométrica la operación matemática es: (4 pts.)

   a) División
   b) Multiplicación
   c) Suma
   d) Resta
   e) N.A.

¡Resolvemos!

2. Calcula "x". (4 pts.)

   a) 6
   b) 2
   c) 3
   d) 13
   e) N.A.

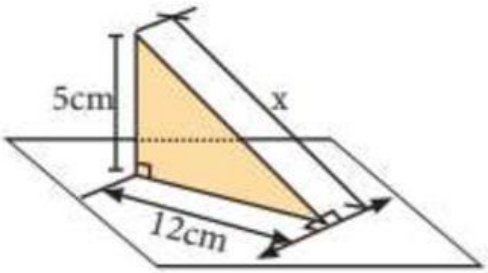

¡Resolvemos!

3. Calcula "x" si T es punto de tangencia. (4 pts)

   a) 9
   b) 2
   c) 3
   d) 13
   e) N.A.

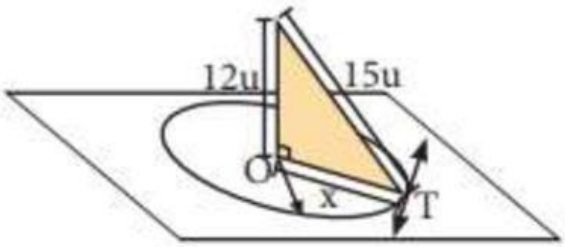

LIVEWORKSHEETS

Nombre y Apellido: _____

¡Resolvemos!

4. Del gráfico, calcular NT sobre el plano P. (NA = 30 m) (4 pts.)

a) 16
b) 12
c) 15
d) 13
e) N.A.

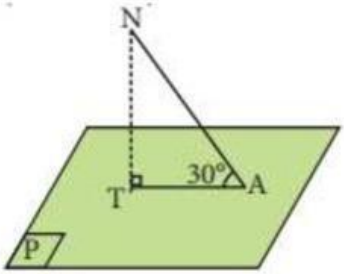

¡Resolvemos!

5. Las rectas paralelas …. (4 pts.)

a) Tienen un solo punto en común
b) Se intersectan
c) No tienen puntos
d) Son rayas largas
e) N.A.

LIVEWORKSHEETS