ESTADO DO CEARÁ
PREFEITURA MUNICIPAL DE JUCÁS
SECRETARIA MUNICIPAL DA EDUCAÇÃO
E.E.I.E.F. MARIA ÁUREA LEAL RODRIGUES GUERRA

Atividade de Geografia 6º ano

Nome:_____

Data:____/____/____ **6º**_____ **Prof: Ana Paula**

1º) Observe as imagens e responda:

(A)



(B)

(C)

(D)

- Qual das imagens apresenta mais elementos artificiais?.

LIVEWORKSHEETS

- Qual das imagens apresentam mais elementos naturais?
- Preencha a tabela com base no que você observou nas imagens, com elementos da natureza e os elementos feito pelo homem (artificiais). Observe o exemplo.

Imagens	Elementos da Natureza.	Elementos feitos pelo homem.
A	Solo	Plantação
B		
C		
D		

2º) Observe as imagens e classifique-as como paisagem natural ou artificias.





LIVEWORKSHEETS

3º) Diante das suas observações cite 3 exemplos de elementos naturais e 3 exemplos de elementos artificiais do seu município.

Elementos Naturais	
Elementos Artificiais	

LIVEWORKSHEETS