ACTIYIDAD EN CLASE.

DESTREZA A TRABAJAR: CN.4. I. IO. Observar y explicar en diferentes ecosistemas las cadenas, redes y pirámides alimenticias, identificar los organismos productores, consumidores y descomponedores y analizar los efectos de la actividad humana sobre las redes alimenticias

ACTIVIDAD 1 1 puntos C/U (Total 6 Puntos)

Preguntas

1. Responde cliqueando sobre el concepto que complete de forma correcta el enunciado.

En una red trófica se le llama productores a:

Los herbívoros Las plantas Los carnívoros Al sol

2. Las redes tróficas se basan en...

relaciones sociales asociaciones gregarias asociaciones familiares relaciones alimentarias

3. ¿Qué tipo de energía se almacena en los seres autótrofos?

Química Lumínica Calórica Potencial

4. Dentro de una red trófica los hongos y las bacterias son....

Productores Consumidores primarios Descomponedores Consumidores terciarios

5. La mayoría de los seres humanos son...

Herbívoros Carnívoros Omnívoros Descomponedor

6. ¿Cómo se le llama al animal que se alimenta principalmente de animales muertos?

Productor Herbívoro Carroñero Omnívoro

ACTIVIDAD 2 1 puntos C/U (Total 4 Puntos)

2. Luego de haber realizado la actividad anterior, responde cliqueando sobre el concepto que complete de forma correcta el enunciado.

En la siguiente imagen de red trófica, el ser humano corresponde a:

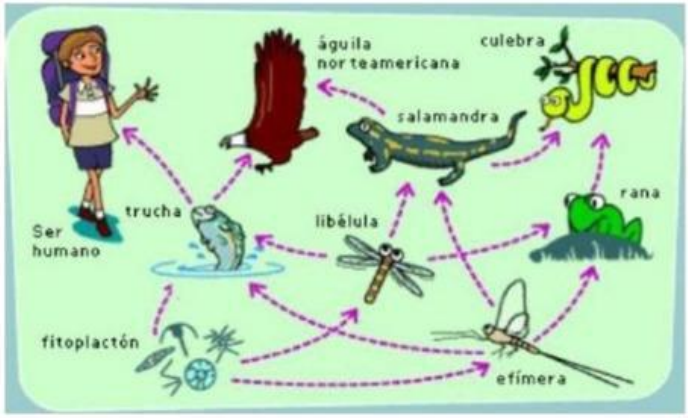

Consumidor primario Productor Consumidor secundario Consumidor terciario

LIVEWORKSHEETS

En la imagen, el productor es …

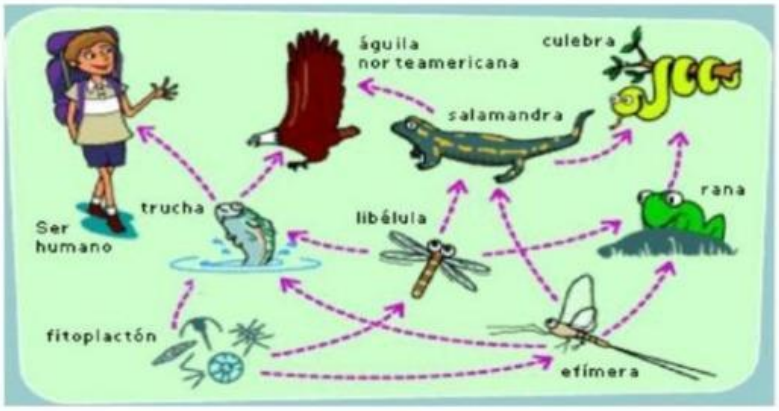

Fitoplancton | Ser humano | Rana | Libélula

En la imagen de la red trófica la culebra es...

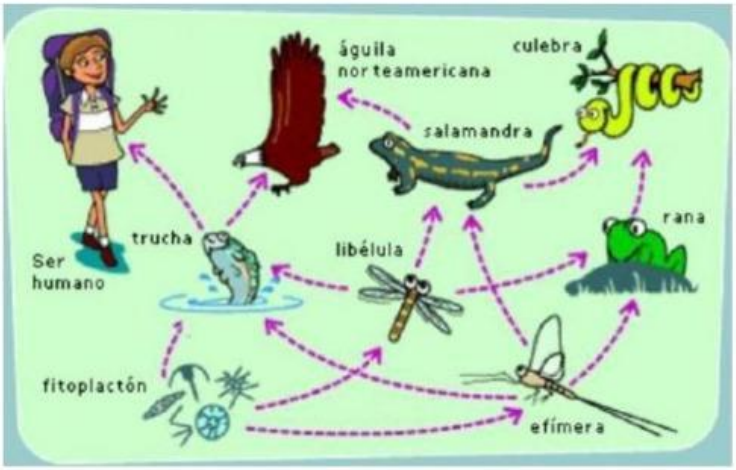

Productor | Consumidor terciario | Consumidor secundario | Consumidor primario

En la siguiente red trófica

La paloma es un consumidor secundario | El saltamontes es carnívoro | El sapo es un herbívoro | El halcón es un productor

LIVEWORKSHEETS