נקודות החיתוך של הפרבולה עם ציר ה-X ועם ציר ה-Y

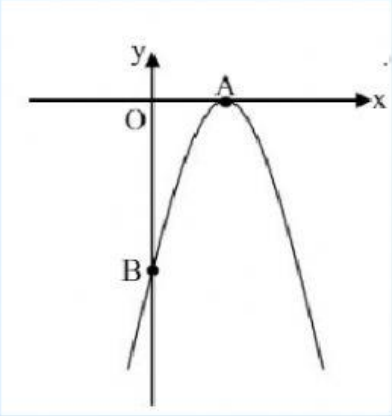

1. נתונה הפרבולה $y = -3x^2 + 12x - 12$

מצאו את נקודת החיתוך של הפרבולה עם ציר ה-Y

נקודה B (,).

ואת נקודת החיתוך של הפרבולה עם ציר ה-X

נקודה A (,).

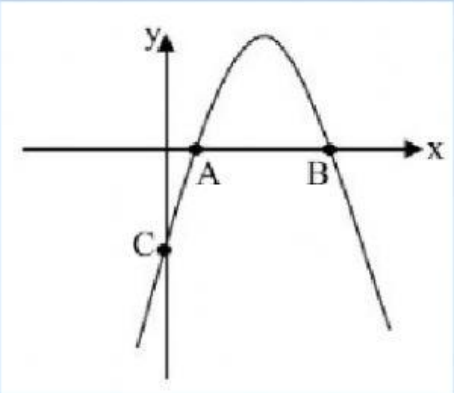

2. נתונה הפרבולה $y = -x^2 + 6x - 5$

מצאו את נקודת החיתוך של הפרבולה עם ציר ה-Y

נקודה C (,).

ואת נקודות החיתוך של הפרבולה עם ציר ה-X

נקודות A ו C (,) , (,).

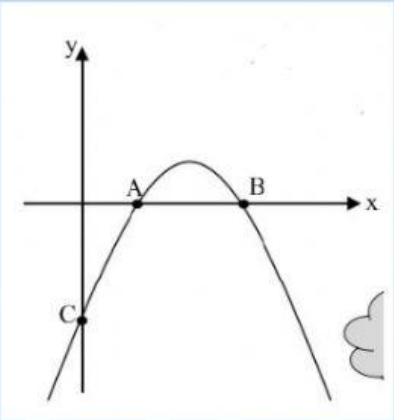

3. נתונה הפרבולה $y = -x^2 + 8x - 12$

מצאו את נקודת החיתוך של הפרבולה עם ציר ה-Y

נקודה C (,).

ואת נקודות החיתוך של הפרבולה עם ציר ה-X

נקודות A ו C (,) , (,).

בהצלחה!

LIVEWORKSHEETS