בס"ד

ט' הקבצה א' –אפרת דהן

דף עבודה דלתון- רישומים

שאלה 1

בסרטוטים שלפניכם כמה דלתונים. על-סמך הנתונים הרשומים בסרטוטים קבעו את הערכים של x ו-y (הנתונים בס"מ).

א.

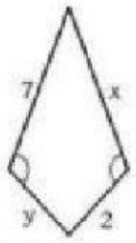

ב.

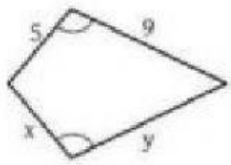

ג.

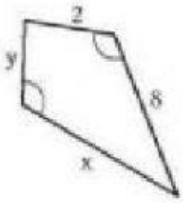

ד.

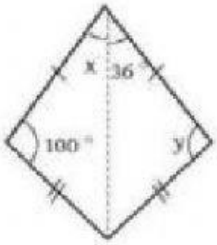

ה.

ו.

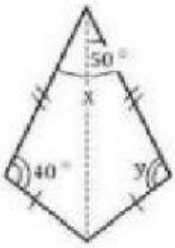

שאלה 2

המרובע ABCD הוא דלתון (BC=DC, BA=DA).

נתון: BD=18 ס"מ, $\measuredangle B=105^\circ$, $\measuredangle C_1=20^\circ$.

חשבו:

א. OD.

ב. OB.

ג. $\measuredangle D$.

ד. $\measuredangle C$.

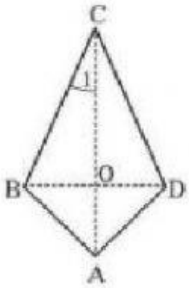

שאלה 3- רישום שטח והיקף

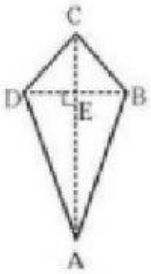

נתון: DB=6 ס"מ

AC=13 ס"מ

AB= 10.44 ס"מ

DC=4.24 ס"מ

שטח הדלתון

היקף הדלתון

LIVEWORKSHEETS