اختر الإجابة الصحيحة في كل مما يلي :

1) أذا كان $f(x) = 6x + 7$ فإن $f(-3) =$:

أ) 24

ب) 11-

ت) 11

2) إذا كان $g(x) = x^2 - 4$ فإن $g(5) =$:

أ) 21

ب) 6

ت) 29

3) هل العلاقة {(2, -4), (2 , 5) , (1, 5 -) , (2,2) } اقتران :

أ) نعم

ب) لا

4) هل العلاقة $y = 0.4x - 6$ اقتران :

أ) نعم

ب) لا

5) هل العلاقة $x = 5$ اقتران :

أ) نعم

ب) لا

LIVEWORKSHEETS

6) أي العلاقات التالية اقتران :

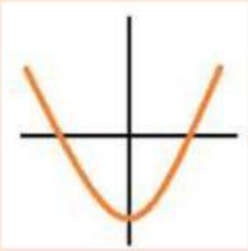

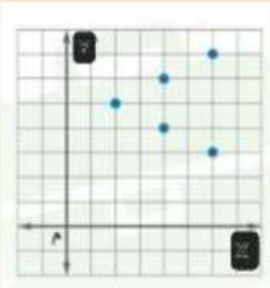

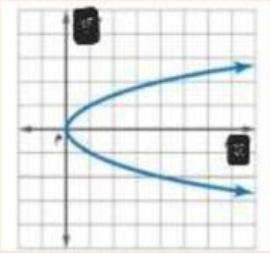

7) مجال الاقتران التالي

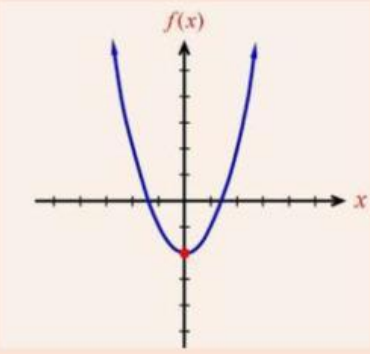

أ) $(-\infty, \infty)$

ب) $(-2, \infty)$

ت) $[-2, \infty)$

LIVEWORKSHEETS

8) مدى الاقتران التالي :

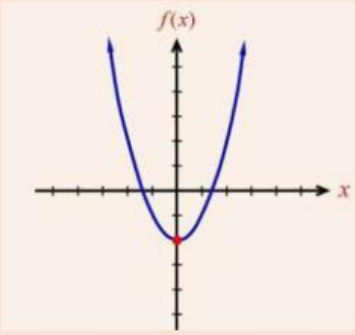

أ) $(-2, \infty)$

ب) $[-2, \infty)$

ت) $(-\infty, -2]$

9) أي العلاقات التالية ليس اقتران :

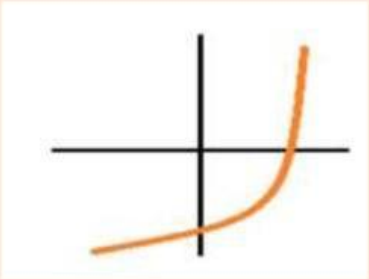

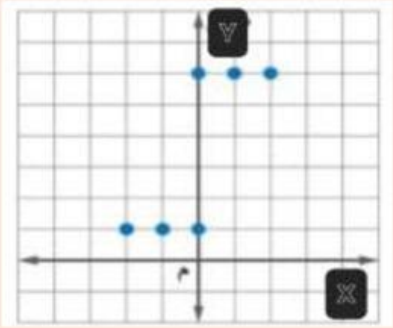

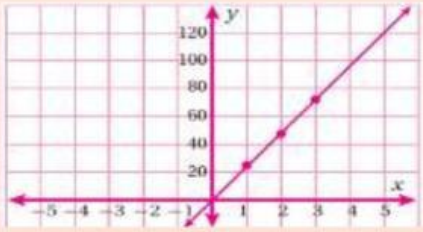

LIVEWORKSHEETS

10) إذا كان $f(x)=2x-3$ و $g(x)=2x^3$ فإن $f(7)-g(2)=$:

أ) -5

ب) 5

ج) 27

انتهت الأسئلة

معلمة المادة : دعاء أبوعوض

LIVEWORKSHEETS