דף שבועי מספר 1

שאלה 1 (12 נקודות)

פתרו.

א $47 + (23 + 7 \times 6) =$ ☐

ב $125 + 5 \times (88 - 3) =$ ☐

ג $128 + 16 : 2 + 13 \times 2 =$ ☐

שאלה 2 (12 נקודות)

השלימו בכל תרגיל את המספרים 4, 0 ו־8 במקומות המתאימים כך שהתרגיל יתאים לתוצאה.

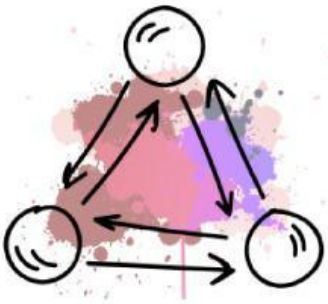

א ☐ × ☐ + ☐ = 4

ב ☐ : (☐ × ☐) = 0

ג ☐ − (☐ × ☐) = 8

שאלה 3 (12 נקודות)

השלימו את המספרים החסרים.

שאלה 4 (16 נקודות)

התבוננו בלוח וענו על השאלות.

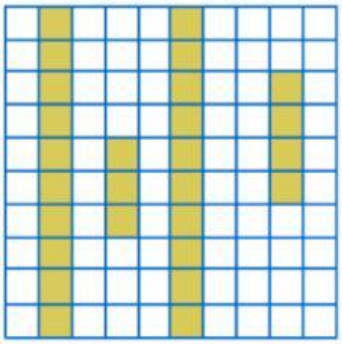

א איזה חלק מהלוח צבוע? $\frac{\square}{\square}$

ב כמה אחוזים מהלוח צבועים? ☐%

ג מה המספר העשרוני המתאים לחלק הצבוע? ☐

LIVEWORKSHEETS

שאלה 5 (16 נקודות)

מצאו את החוקיות ב**סדרה א** והשלימו על פיה את **סדרה ב**.

א	1.14	1.15	1.16	1.17	1.18
ב	2.07				

שאלה 6 (16 נקודות)

לפניכם סרטוט מוקטן של מלבן.

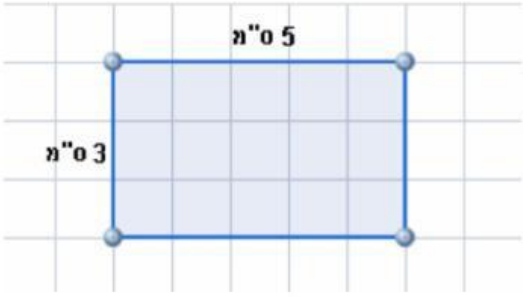

א מה היקף המלבן? ס"מ.

מה שטח המלבן? סמ"ר.

ב נעמה האריכה כל צלע ב- 2 ס"מ כך שנוצר מלבן חדש.

מה היקף המלבן החדש? ס"מ.

מה שטח המלבן החדש? סמ"ר.

יחד נצליח!

LIVEWORKSHEETS