Grupa **A** Klasa .....

Imię i nazwisko .....

Liczba punktów ..... / **20**

1 **Zaznacz na mapie odpowiednimi cyframi obszary występowania wymienionych poniżej społeczności etnicznych.** (... / 3 p.)

1 – Kaszubi
2 – Łowiczanie
3 – Podhalanie

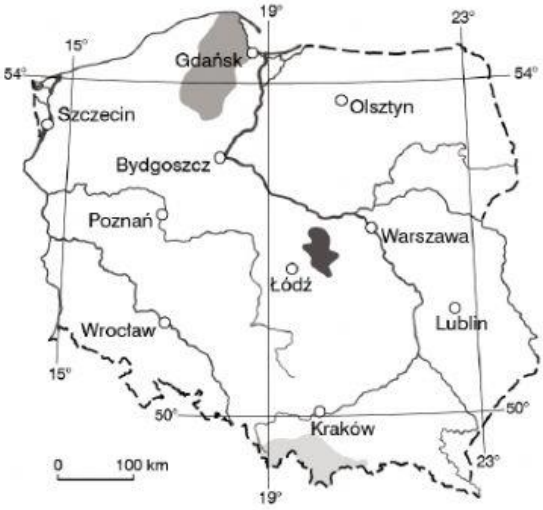

2 **Podkreśl właściwe informacje w poniższych zdaniach.** (... / 3 p.)

1. Przynależność do Kościoła Katolickiego w Polsce deklaruje **poniżej** / **powyżej** 90% społeczeństwa.
2. Największe skupiska wyznawców judaizmu znajdują się w **Warszawie i Krakowie** / **Białymstoku i Bohonikach**.
3. W Niemczech drugą (po katolikach) pod względem liczebności grupą wyznaniową stanowią **muzułmanie** / **protestanci**.

3 **Podkreśl podpunkty, w których przedstawiono przyczyny bezrobocia.** (... / 2 p.)

A. Emigracja młodych ludzi w celach zarobkowych.
B. Brak środków finansowych na utrzymanie rodzin.
C. Likwidacja nierentownych zakładów przemysłowych.
D. Ograniczanie zatrudnienia w celu obniżenia kosztów produkcji.
E. Wzrost przestępczości oraz inne problemy społeczne.

4 **Na podstawie mapy zaznacz zdanie zawierające prawdziwe informacje.** (... / 1 p.)

A. Najwyższa stopa bezrobocia występuje w województwie śląskim.
B. W województwie mazowieckim stopa bezrobocia jest wyższa niż w województwie podkarpackim.
C. Wysoką stopą bezrobocia charakteryzują się województwa wschodniej Polski.

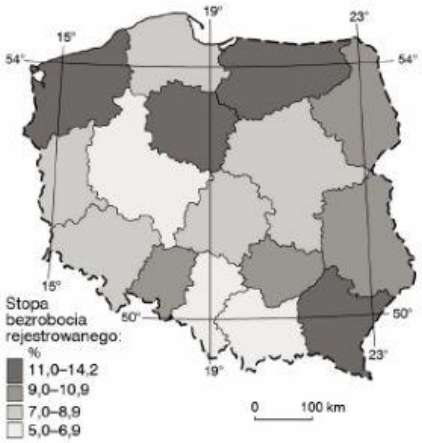

5 **Podkreśl nazwy dominujących funkcji wymienionych miast.** (... / 2 p.)

Warszawa
A.administracyjna B. religijna C. turystyczna
Zakopane
A. przemysłowa B. transportowa C. turystyczna

LIVEWORKSHEETS

6 **Na podstawie mapy salda migracji wewnętrznych w województwie małopolskim zaznacz punkt, w którym znalazła się błędna informacja.** (... / 1 p.)

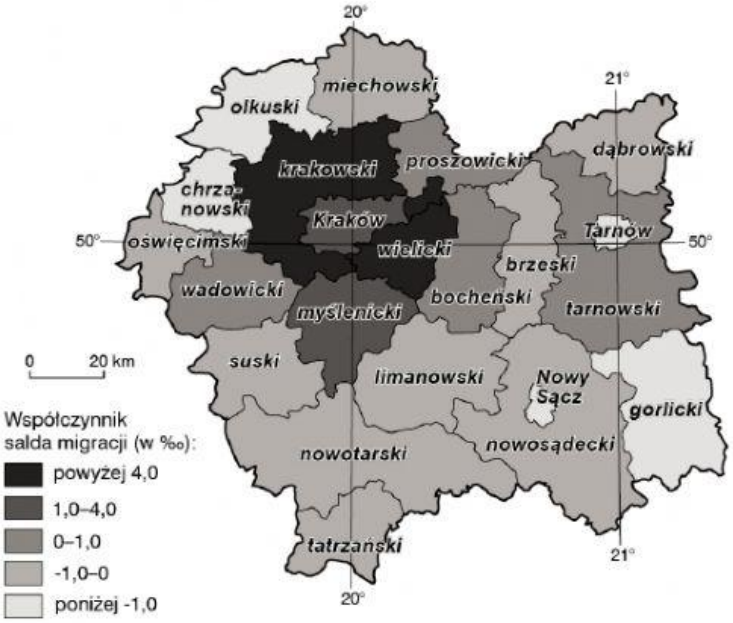

A. W większości powiatów oddalonych od Krakowa saldo migracji jest ujemne.
B. W powiatach sąsiadujących z Krakowem odnotowuje się najwyższe saldo migracji.
C. W 15 powiatach saldo migracji jest ujemne.
D. W powiatach zachodniej części województwa więcej ludzi z nich wyjeżdża, niż do nich przybywa.

7 **Oceń prawdziwość informacji. Wybierz P, jeśli informacja jest prawdziwa, lub F, jeśli jest fałszywa.** (... / 3 p.)

1.	Większość miast w Polsce założono w średniowieczu.	**P**	**F**
2.	Współcześnie miasta pełnią kilka funkcji jednocześnie.	**P**	**F**
3.	Proces rozwoju istniejących miast i powstawania nowych nazywamy wskaźnikiem urbanizacji.	**P**	**F**

8 **Przyporządkuj właściwe definicje do podanych terminów.** (... / 3 p.)

1. Mniejszość narodowa.
2. Społeczność etniczna.
3. Mniejszość etniczna.

A. Grupa ludzi trwale zamieszkujących dane państwo, lecz różniących się od większości jego mieszkańców przynależnością narodową, historią i kulturą.
B. Grupa ludzi, którzy zamieszkują obszar danego kraju, nie utożsamiają się z innym narodem, ale zachowują historyczną, kulturową i językową odrębność wobec reszty mieszkańców tego państwa.
C. Grupa ludzi wywodząca się z różnych regionów kraju posiadająca swoje tradycje na które składają się oryginalne stroje, muzyka, rzemiosło artystyczne oraz taniec.
D. Grupa ludzi trwale zamieszkująca dane państwo, nie różniąca się od większości jego mieszkańców przynależnością narodową, historią i kulturą.

9 **Podaj nazwę województwa o największej stopie bezrobocia w Polsce oraz przyczynę występowania tego problemu.** (... / 2 p.)

LIVEWORKSHEETS