ВИВЧАЄМО АРИФМЕТИЧНІ ДІЇ ДОДАВАННЯ І ВІДНІМАННЯ

- додати
- відняти
- вираз, значення виразу

1 Запиши склади чисел.

4	2 / 3 / 1	3	1 2
2	1	5	2 3 / 4 1

4 Щоб показати, скільки всього фігур, треба об'єднати фігури чи вилучити частину фігур? Скільки всього фігур на малюнку?

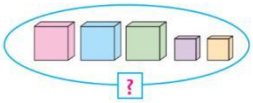

Рівність

3 + 2 = 5

Вираз

Об'єднати → додати.
Усього 3 і 2 буде 5. Усього 5 кубиків.
До 3 додати 2 буде 5.

Обери правильну відповідь.



+ =

+ =

5 Щоб показати, скільки фігур залишилося, треба об'єднати фігури чи вилучити частину фігур? Скільки фігур залишилось?

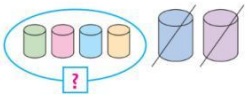

Рівність

6 − 2 = 4

Вираз

Вилучити → відняти.
Залишилось 6 без 2. Залишилось 4 циліндри.
Від 6 відняти 2 буде 4.

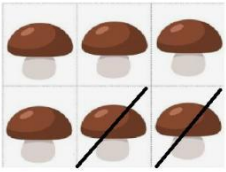

Скільки всього грибочків?

Скільки вилучили (відняли)?

- =

Скільки всього сонечок?

Скільки вилучили (відняли)?

- =

6 Перевір, чи правильно складено рівності за малюнками.

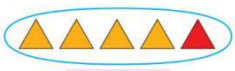

4 + 1 = 5

5 − 3 = 2

Значення виразу

7 Перевір, чи правильно записано вирази до кісточок доміно. Знайди значення виразів.

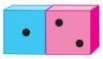

1 + 2 = .
3 − 1 = .



2 + 3 = .
5 − 2 = .



2 + 2 = .
4 − 2 = .

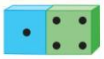

4 + 1 = .
5 − 1 = .

LIVEWORKSHEETS