1. Зургийг ажиглаарай. Аль нь харилцан үйлчлэлийн хүч их вэ?

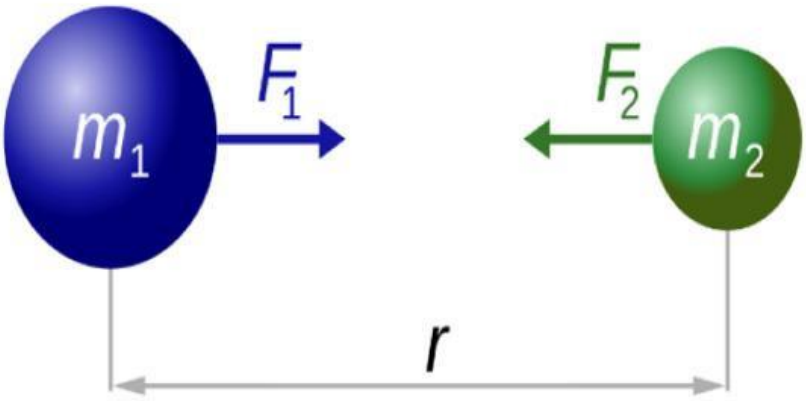

Харилцан үйлчлэлийн хүч бага

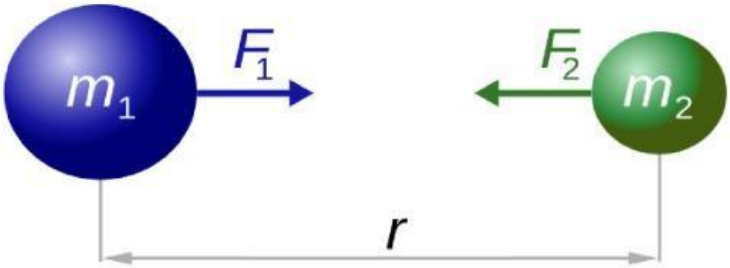

Харилцан үйлчлэлийн хүч их

2. Биеүүдийн харилцан үйлчлэлийн хүчийг жишнэ үү

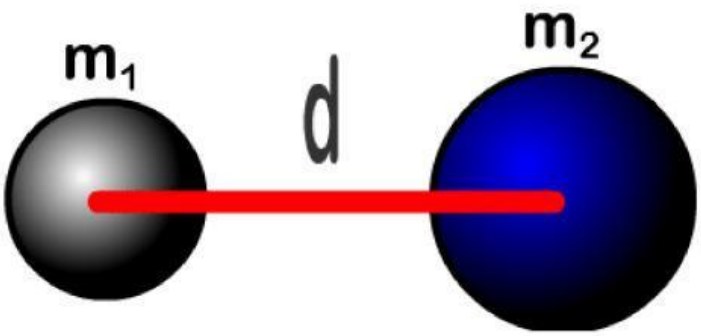

A. $F_1 > F_2$

B. $F_1 < F_2$

C. $F_1 = F_2$

LIVEWORKSHEETS

3. Аль зураг дээр биеүүдийн харилцан үйлчлэлийн хүч хамгийн их байх вэ?

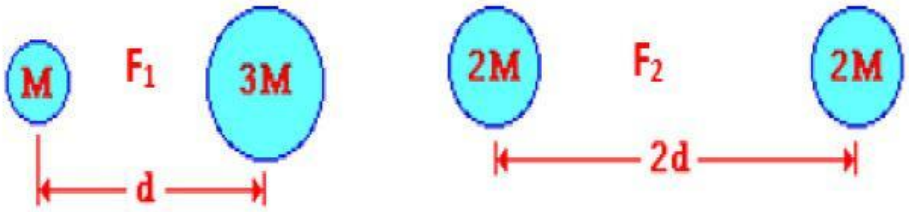

A. F_1 B. F_2 C. Тэнцүү

4. Биеүүдийн масс m_1=4кг, m_2=3кг ба хоорондын зай нь 2м бол харилцан үйлчлэлийн хүчийг ол. $G=6.67*10^{-11}$ $Нм^2/кг^2$

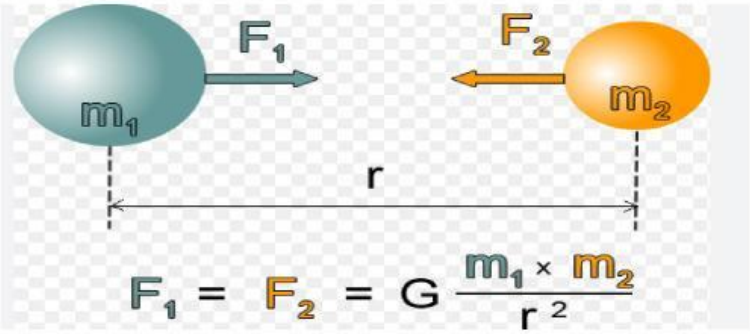

A. $20*10^{-11}$Н
B. $40*10^{-11}$Н
C. $80*10^{-11}$Н

LIVEWORKSHEETS

5. Зураг дээр байгаа өгөгдлийг ашиглаад харилцан үйлчлэлийн хүчийг олно уу. $G=6.67*10^{-11}$ Нм^2/кг^2

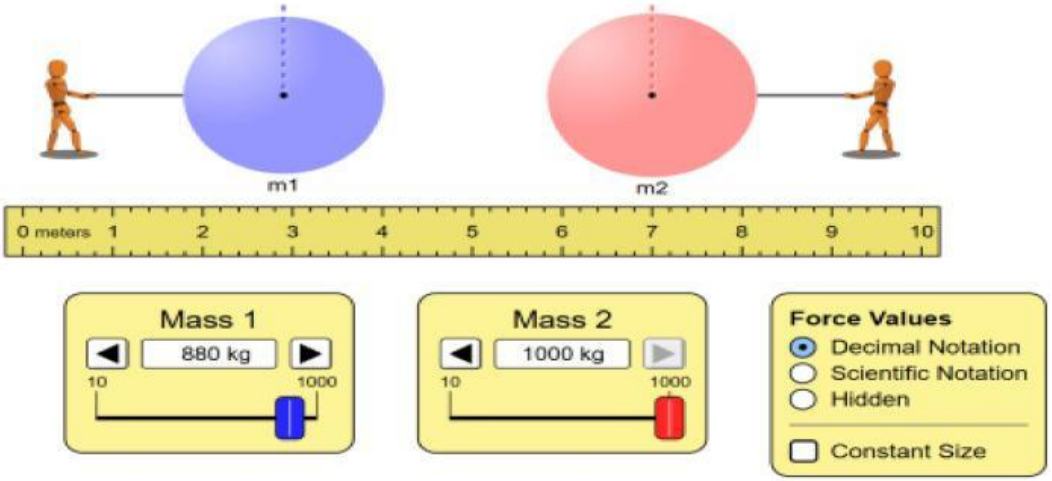

A. $\approx 37 \cdot 10^{-7}$Н

B. $\approx 12 \cdot 10^{-7}$Н

C. $\approx 65 \cdot 10^{-7}$Н

LIVEWORKSHEETS