Interpretação de gráficos e tabelas

Nome: _____

Ano/turma: _____ Profª: _____

01-O gráfico abaixo representa a produção, em toneladas, de feijão em uma fazenda no período de 2004 a 2008.

a- Qual foi a produção, em toneladas, em 2004? E em 2005?

_____

b-Quando as produções foram as mesmas?

_____

c-Qual foi a produção total no período de 2004 a 2008?

_____

02-Observe o gráfico:

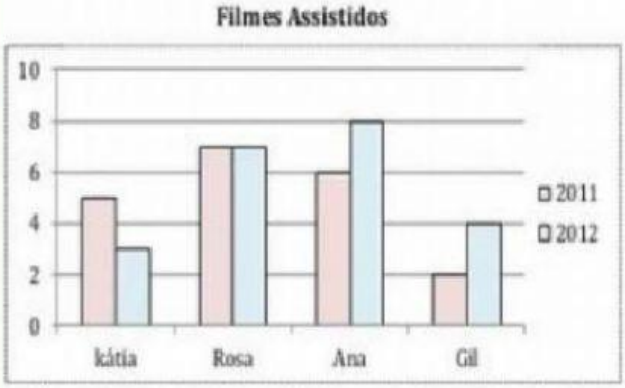

a- Em quais desses anos Kátia assistiu mais filmes?

_____

b- Quantos filmes Rosa assistiu a mais que Gil em 2012?

_____

03-Samuel e Guilherme jogam futebol em equipes diferentes. O desempenho de cada equipe no campeonato é mostrado nos gráficos abaixo:

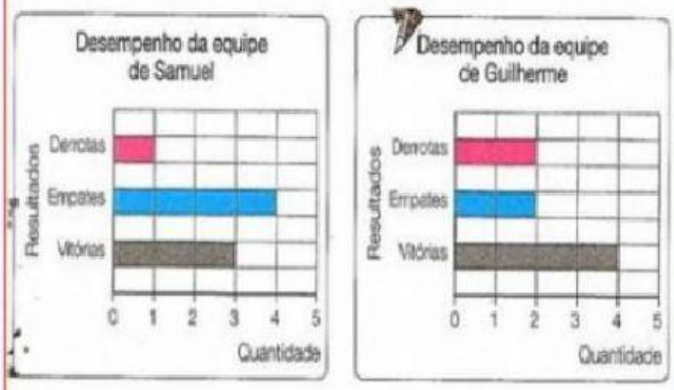

a- Quantas derrotas teve a equipe de Guilherme?

_____

b- Quantos empates teve a equipe de Samuel?

_____

c- Quantas vitórias teve a equipe de Guilherme?

_____

d- Quantas derrotas teve a equipe de Samuel?

_____

04-Observe o gráfico e responda:

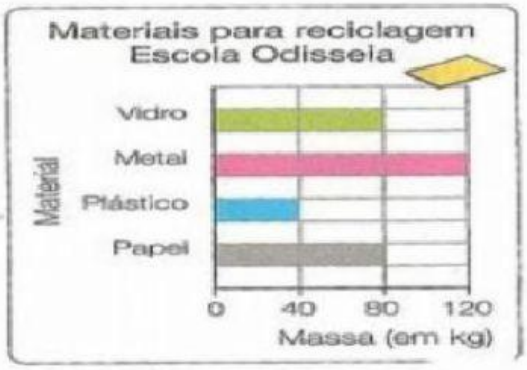

a- Quantos quilos de vidro recolheram?

_____

b- Qual foi o material mais recolhido?

_____

c- Qual o material menos recolhido?

_____

d- Qual foi o material que pesou 40 kg?

_____

LIVEWORKSHEETS