ใบงานที่ 2 เรื่อง ชนิดของพันธะโคเวเลนต์

ชื่อ.....ชั้น.....เลขที่.....

คำชี้แจง : ให้นักเรียนเติมคำในช่องว่างให้สมบูรณ์

1. พันธะที่ตำแหน่ง a b c และ d ในสูตรโครงสร้างเป็นพันธะชนิดใด

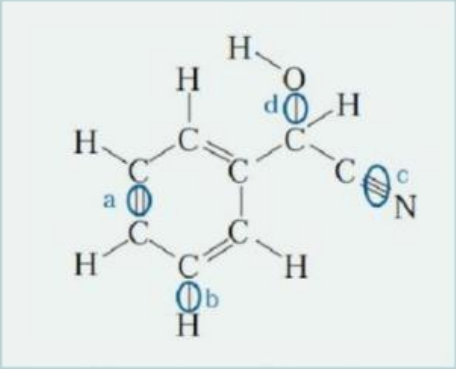

a = _____

b = _____

c = _____

d = _____

2. จากสูตรโครงสร้างของแนพทาลีนหรือลูเหม็นและพาราเซตามอลจงนับจำนวนพันธะแต่ละชนิดว่ามีกี่พันธะ

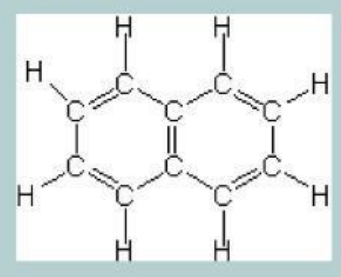

พันเดี่ยว= _____ พันธะ

พันธะคู่ = _____ พันธะ

พันธะสาม = _____ พันธะ

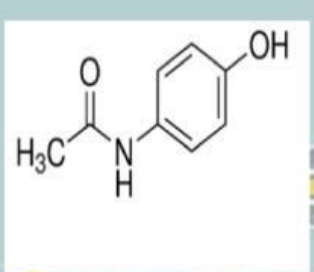

พันเดี่ยว= _____ พันธะ

พันธะคู่ = _____ พันธะ

พันธะสาม = _____ พันธะ

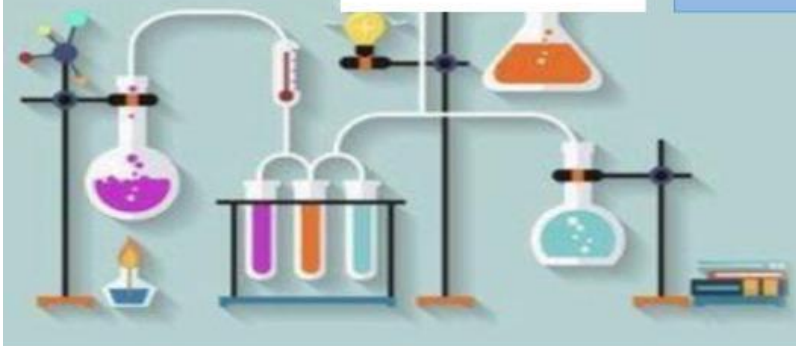

LIVEWORKSHEETS