DOKUMEN SEKOLAH

SANGAT RAHASIA

P 1

PEMERINTAH KABUPATEN SINJAI
DINAS PENDIDIKAN
SD NEGERI 69 BALANG - BALANG
Jl. Balakia No. A.18 Kel. Balakia, Kec. Sinjai Barat ✉ 92653 Manipi

SOAL PENILAIAN TENGAH SEMESTER (PTS)

Tema : **2. Udara Bersih Bagi Kesehatan**
Kelas/ Smt : **V (Lima)/ Ganjil**
Tahun Pelajaran: **2023/2024**

Nama Siswa : **.....**

Mapel	KD	No. Soal	Nilai	Ketuntasan	TTD Guru	TTD Orang Tua
PPKn	3.2	1,4,13				
Indonesia	3.2	2,5,14				
IPA	3.2	7,8,10				
IPS	3.3	6,9,11				
SBdP	3.2/3.3	3,12,15				

A. PILIHAN GANDA

Jawablah pertanyaan di bawah ini dengan memberi tanda silang (×) pada pilihan jawaban yang paling benar!

1. Perhatikan teks bacaan di bawan ini!

Hari Menanam Pohon

Indonesia dikatakan sebagai paru-paru dunia. Sebutan itu disematkan karena di Indonesia terdapat hutan yang sangat luas. Daun-daun di hutan mengeluarkan oksigen berlimpah. Oksigen merupakan unsur penting bagi kehidupan.

Namun, sayangnya, hutan kita semakin berkurang akibat kebakaran atau penebangan pohon di hutan secara liar. Oleh karena itu, pemerintah bersama rakyat berusaha mengurangi kerusakan hutan. Salah satu upaya yang dilakukan yaitu menanam kembali pohon di lingkungan.

Berdasarkan teks bacaan di atas "Hari Menanam Pohon". adalah kegiatan menjaga lingkungan sekitar dengan cara menanam pohon merupakan salah satu ... kita sebagai warga masyarakat.

A. hak

B. tanggung jawab

C. gotong royong

D. kerja sama

LIVEWORKSHEETS

2. Bacalah teks di bawah ini !

Hari Menanam Pohon

Indonesia dikatakan sebagai paru-paru dunia. Sebutan itu disematkan karena di Indonesia terdapat hutan yang sangat luas. Daun-daun di hutan mengeluarkan oksigen berlimpah. Oksigen merupakan unsur penting bagi kehidupan.

Namun, sayangnya, hutan kita semakin berkurang akibat kebakaran atau penebangan pohon di hutan secara liar. Oleh karena itu, pemerintah bersama rakyat berusaha mengurangi kerusakan hutan. Salah satu upaya yang dilakukan yaitu menanam kembali pohon di lingkungan.

Tanggal 28 November diperingati sebagai Hari Menanam Pohon. Peringatan hari Menanam Pohon pada tahun 2015 diawali sejak tanggal 26 November. Presiden melakukan penanaman pohon di Taman Hutan Rakyat Sultan Adam, Kalimantan Selatan. Ada 10.000 pohon ditanam di hutan itu. Pohon yang ditanam pun bermacam-macam, termasuk pohon-pohon yang buahnya dapat dimakan.

Kita dapat berperan serta untuk mengembalikan paru-paru dunia. Menanam pohon tidak hanya dapat dilakukan di hutan. Kita dapat menanam pohon di lingkungan sekitar kita. Semakin banyak pohon di lingkungan kita, semakin banyak pasokan oksigen bagi kehidupan.

Berdasarkan teks berjudul " Hari Menanam Pohon ", mengapa kita harus menanam pohon ?

A. Supaya kelestarian lingkungan terjaga dan ketersediaan oksigen berlimpah.

B. Karena indonesia dikatakan sebagai paru-paru dunia

C. Karena oksigen merupakan unsur penting bagi kehidupan

D. Untuk mengembalikan paru-paru dunia

3. Perhatikan teks lagu berikut !

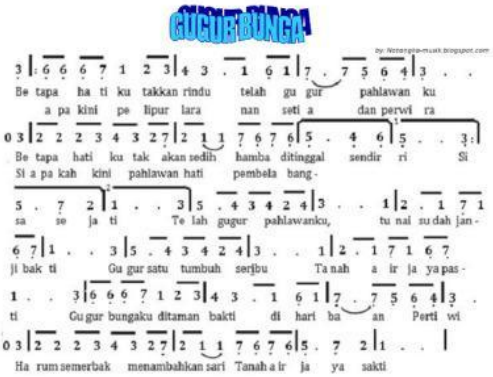

Judul lagu ... merupakan salah satu judul lagu yang sejenis dengan gambar teks lagu di atas.

A. Indonesia raya

B. Hari merdeka

C. Garuda pancasila

D. Terima kasihku

LIVEWORKSHEETS

B. PILIHAN GANDA KOMPLEKS

Berilah tanda centang (✓) pada jawaban yang benar!

4. Perhatikan pernyataan berikut!
   (i) Mendapatkan perlindungan hukum.
   (ii) Membantu tetangga yang terkena musibah.
   (iii) Bebas memilih, memeluk dan menjalankan agama.
   (iv) Mematuhi aturan atau norma yang berlaku dalam masyarakat.

   Berdasarkan pernyataan di atas manakah yang termasuk hak sebagai warga masyarakat? Beri tanda centang (✓) pada kolom benar atau salah!

Pernyataan	Benar	Salah
(i)		
(ii)		
(iii)		
(iv)		

5. **Bacalah teks berikut!**

   Pernapasan Ikan

   Ikan merupakan salah satu hewan yang hidup di air. Ikan bernapas menggunakan insang. Pada pernapasan ikan, mula-mula insang dalam keadaan tertutup. Air yang mengandung oksigen akan masuk melalui mulut ikan. Lalu, mulut ikan tertutup dan air akan mengalir ke bagian insang yang terbuka. Di dalam insang inilah terjadi pertukaran oksigen dengan karbondioksida

   Berilah tanda centang pada pasangan pertanyaan dan jawaban yang sesuai dengan teks bacaan di samping !

Pertanyaan dan jawaban	B	S
Pertanyaan : apa alat pernapasan ikan ? Jawaban : ikan hidup di air		
Pertanyaan : di mana terjadinya pertukaran oksigen dan karbondioksida pada ikan ? Jawaban : di insang		
Pertanyaan : Bagaimana proses masuknya oksigen pada ikan ? Jawaban : ketika mulut ikan tertutup, air mengalir ke bagian insang yang terbuka.		
Pertanyaan : kapan air keluar dari tubuh ikan saat bernapas ? Jawaban : ketika mulut ikan tertutup, air mengalir ke bagian insang yang terbuka.		

6. Bacalah ilustrasi berikut dan perhatikan gambar yang ada di sampingnya !

   Ayahku adalah seorang nelayan. Ayahku ke laut untuk menangkap ikan pada malam hari dan kembali pada pagi hari. Ayahku menangkap ikan menggunakan jala, ayahku dan teman-temannya adalah nelayan tradisional yang mengandalkan kondisi alam bila melaut. Apabila kondisi alam sedang tidak baik maka ayahku dan teman-temannya tidak pergi melaut. Hasil tangkapan ikan ayahku dijual di tempat pelelangan ikan. Ayahku gigih dalam bekerja, dari hasil menangkap ikan itulah beliau menghidupi kami sekeluarga.

   Berdasarkan ilustrasi di atas, Berilan tanda (√) pada kolom benar atau salah yang dianggap sesuai dengan jenis kegiatan ekonomi beserta contoh kegiatannya !

Jenis kegiatan ekonomi beserta contoh kegiatan	Benar	Salah
Perkebunan : budi daya ikan nila		
Kehutanan : menanam pohon jati		
Pertambangan : pengolahan batu bara		
Pelayanan Jasa : menjual hasil pertanian		

LIVEWORKSHEETS

C. MENJODOHKAN

7. Perhatikan gambar berikut!

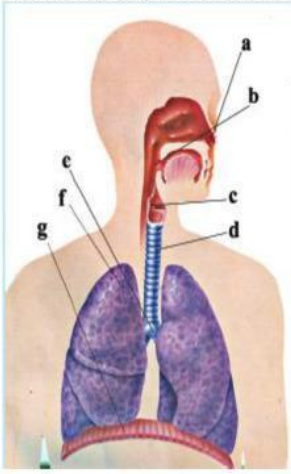

Berdasarkan gambar di samping, pasangkanlah huruf gambar yang sesuai ciri/fungsi yang dimiliki!

Huruf gambar	
a	●
c	●
d	●
e	●

	Ciri/fungsi
●	percabangan dari trakea serta terdiri atas kiri dan kanan
●	terdapat jaringan yang disebut silia yang akan bergerak dan mendorong keluar debu-debu dan bakteri yang masuk.
●	terdapat rambut-rambut pendek dan tebal untuk menyaring dan menangkap kotoran yang masuk bersama udara
●	terdapat di bagian belakang faring yang terdiri atas sembilan susunan tulang rawan berbentuk kotak

8. Perhatikan gambar di bawah ini!

(a)

(b)

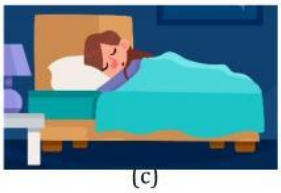
(c)

(d)

Berdasarkan gambar di atas, pasangkanlah huruf gambar dengan cara memelihara organ pernapasan yang sesuai!

Gambar	
a	●
b	●
c	●
d	●

	Cara memelihara organ pernapasan
●	Menjaga kesehatan organ pernapasan
●	Menghindari zat yang dapat merusak organ pernapasan
●	Menjaga kesehatan lingkungan sekitar
●	Menjaga kesehatan organ pernapasan

LIVEWORKSHEETS

9. Perhatikan beberapa usaha ekonomi yang dikelola secara kelompok berikut!
   (a) Firma
   (b) Persekutuan komanditer
   (c) Perseroan terbatas
   (d) Badan usaha milik negara

   Pasangkan antara bentuk usaha ekonomi bersama dengan pengertiannya berikut ini dengan menggunakan garis!

   Berdasarkan gambar di atas, pasangkanlah huruf gambar sesuai dengan penyebab utamanya !

Bentuk usaha ekonomi bersama	
a	●
b	●
c	●
d	●

Pengertian	
●	Usaha bersama yang modalnya berupa kumpulan saham
●	Perusahaan yang seluruh atau sebagian modalnya milik negara
●	Usaha ekonomi nbersama yang didirikan oleh sekurang-kurangnya dua sekutu
●	Usaha ekonomi yang didirikan oleh sekurang-kurangnya dua orang yang menyetorkan modal

D. ISIAN SINGKAT

Isilah titik-titik berikut ini dengan jawaban yang tepat !

10. Perhatikan gambar berikut !



Alat pernapasan pada hewan di atas adalah .....

11. Perhatikan gambar berikut !

Berdasarkan gambar di atas, merupakan jenis kegiatan ekonomi di bidang .....

12. Perhatikan gambar berikut !

Properti tari yang di gunakan pada gambar di atas adalah .....

LIVEWORKSHEETS

E. URAIAN

Jawablah pertanyaan berikut dengan tepat!
Bacalah ilustrasi di bawah ini !

Pada hari Minggu, warga di daerah tempat tinggal Edo mengadakan kerja bakti. Mereka membersihkan sampah-sampah yang menumpuk. Selama ini bau busuk dari tumpukan sampah telah mencemari udara di lingkungan tempat tinggal itu. Warga harus menutup hidung saat melewati tumpukan sampah.

Dalam kegiatan musyawarah dan kerja bakti itu seluruh warga ikut berperan serta. Keikutsertaan warga dalam musyawarah dan kerja bakti merupakan salah satu bentuk tanggung jawab warga dalam menjaga kebersihan lingkungan.

13. Berdasarkan ilustrasi di atas tuliskan 4 bentuk kewajiban yang dapat diterima oleh warga negara di lingkungan tersebut !
    Jawaban :

    a. .....

    b. .....

    c. .....

    d. .....

14. Bacalah teks di bawah ini !

Hari Menanam Pohon

Indonesia dikatakan sebagai paru-paru dunia. Sebutan itu disematkan karena di Indonesia terdapat hutan yang sangat luas. Daun-daun di hutan mengeluarkan oksigen berlimpah. Oksigen merupakan unsur penting bagi kehidupan.

Namun, sayangnya, hutan kita semakin berkurang akibat kebakaran atau penebangan pohon di hutan secara liar. Oleh karena itu, pemerintah bersama rakyat berusaha mengurangi kerusakan hutan. Salah satu upaya yang dilakukan yaitu menanam kembali pohon di lingkungan.

Tanggal 28 November diperingati sebagai Hari Menanam Pohon. Peringatan hari Menanam Pohon pada tahun 2015 diawali sejak tanggal 26 November. Presiden melakukan penanaman pohon di Taman Hutan Rakyat Sultan Adam, Kalimantan Selatan. Ada 10.000 pohon ditanam di hutan itu. Pohon yang ditanam pun bermacam-macam, termasuk pohon-pohon yang buahnya dapat dimakan.

Kita dapat berperan serta untuk mengembalikan paru-paru dunia. Menanam pohon tidak hanya dapat dilakukan di hutan. Kita dapat menanam pohon di lingkungan sekitar kita. Semakin banyak pohon di lingkungan kita, semakin banyak pasokan oksigen bagi kehidupan.

Berdasarkan teks berjudul " Hari Menanam Pohon ", tuliskan informasi yang terdapat dalam cerita tersebut!
Jawaban :

.....

.....

.....

.....

LIVEWORKSHEETS

15. Perhatikan tangga nada diatonis berikut!

C	D	E	F	G	A	B	C'	atau	1	2	3	4	5	6	7	i
1	1	$\frac{1}{2}$	1	1	1	$\frac{1}{2}$			do	re	mi	fa	so	la	si	do

Berdasarkan urutan tangga nada diatonis di atas, tuliskan 3 ciri-ciri tangga nada diatonis tersebut beserta salah satu contoh judul lagu nasional!

Jawaban :

a. .....

b. .....

c. .....

Contoh judul lagu nasional : .....

" SELAMAT BEKERJA "

LIVEWORKSHEETS