LEMBAR KERJA PESERTA DIDIK

Materi : Bilangan Pecahan
Sub Materi : Operasi Perkalian Pecahan
Kelas/Semester : VII
Alokasi waktu : 2 x 40 menit

Tujuan Kegiatan : Setelah melakukan kegiatan berikut, siswa diharapkan dapat menentukan konsep matematis pada operasi perkalian bilangan pecahan dengan tepat

Nama Kelompok :
Anggota Kelompok :
1.
2.
3.
4.

LIVEWORKSHEETS

AKTIVITAS 1

a. Najwa memiliki sebuah piring yang akan diisi $\frac{1}{2}$ bagian telur, dalam satu piring hanya dapat terisi 6 buah dari $\frac{1}{2}$ bagian telur. Jika telur tersebut digabungkan, berapa butir telur yang terdapat dalam satu piring?

Jawab :

b. Farhan memiliki enam kelereng. Sebanyak $\frac{1}{3}$ dari kelereng Farhan diberikan kepada Adit. Berapakah kelereng yang diterima oleh Adit?



Jawab :

LIVEWORKSHEETS

c. **Dewi memiliki sebuah brownies yang dipotong menjadi tiga bagian. Lalu $\frac{1}{2}$ dari $\frac{1}{3}$ bagian brownies tersebut diberikan kepada Rini. Berapakah bagian brownies yang diterima oleh Rini?**

Tonton video ini sebagai ilustrasi :

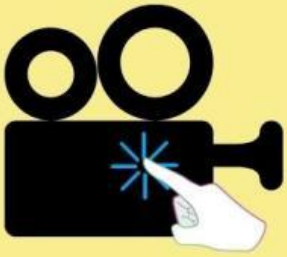

Jawab :

AKTIVITAS 2

Tentukanlah hasil dari perkalian pecahan dengan bilangan bulat dan bilangan bulat dengan pecahan di bawah ini :

a. $\frac{1}{2} \times 3 = \ldots$

b. $\frac{2}{3} \times 6 = \ldots$

c. $9 \times \frac{1}{4} = \ldots$

d. $7 \times \frac{1}{5} = \ldots$

LIVEWORKSHEETS

AKTIVITAS 3

Tentukanlah hasil perkalian bilangan pecahan dengan pecahan di bawah dengan menggunakan gambar!

a. Berapa bagian $\frac{1}{3}$ dari $\frac{1}{2}$



$\frac{1}{2}$

$\frac{1}{3}$ dari $\frac{1}{2} = \frac{1}{3} \times \frac{1}{2} =$ $= \ldots.$

b. Berapa bagian $\frac{2}{3}$ dari $\frac{1}{4}$ …

$\frac{2}{3}$ dari $\frac{1}{4} = \frac{2}{3} \times \frac{1}{4} = \ldots.$

AKTIVITAS 4

Tentukanlah hasil dari perkalian bilangan pecahan di bawah dengan bantuan geogebra
(Link: https://www.geogebra.org/m/s7gc5d7t)

a. $\frac{2}{5} \text{ x } \frac{5}{6} = \ldots\ldots$

b. $\frac{4}{6} \text{ x } \frac{9}{8} = \ldots\ldots$

c. $\frac{5}{6} \text{ x } \frac{13}{9} = \ldots\ldots$

d. $\frac{7}{8} \text{ x } \frac{14}{17} = \ldots\ldots$

e. $\frac{6}{8} \text{ x } \frac{16}{32} = \ldots\ldots$

LIVEWORKSHEETS

AKTIVITAS 5

Berdasarkan aktivitas diatas, diskusikan hasil pengamatan bersama teman-teman sekelompokmu. Tulislah kesimpulan cara menentukan hasil operasi perkalian bilangan pecahan.

Kesimpulan:

- mengalikan bilangan pecahan dengan bilangan bulat atau sebaliknya, bisa dilakukan dengan cara:

.....

.....

.....

- mengalikan bilangan pecahan dengan bilangan pecahan, bisa dilakukan dengan cara:

.....

.....

.....

Sehingga diperoleh rumus perkalian bilangan pecahan seperti berikut ini:

$$\frac{a}{b} \times c = \cdots$$

$$c \times \frac{a}{b} = \cdots$$

$$\frac{a}{b} \times \frac{c}{d} = \cdots$$

LIVEWORKSHEETS