บทที่ ๔ ความคล้าย

ใบงาน ๑ รูปเรขาคณิตที่คล้ายกัน

ชื่อ.....ชั้น.....เลขที่.....

จุดประสงค์การเรียนรู้ : ระบุเงื่อนไขที่ทำให้รูปหลายเหลี่ยมสองรูปคล้ายกัน
และบอกสมบัติของรูปหลายเหลี่ยมที่คล้ายกัน

คำชี้แจง : ให้นักเรียนตอบว่ารูปเรขาคณิตต่อไปนี้คล้ายกันหรือไม่

1. 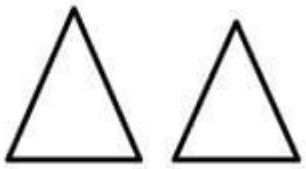

2. 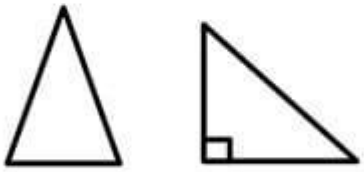

3. 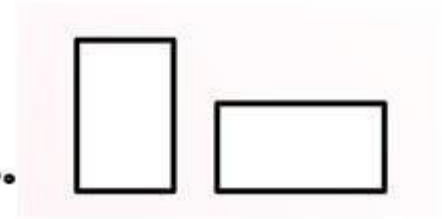

4. 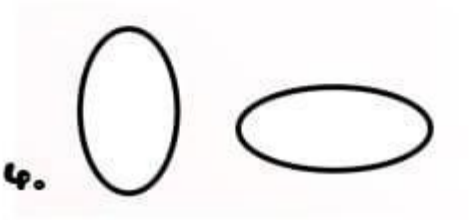

5. 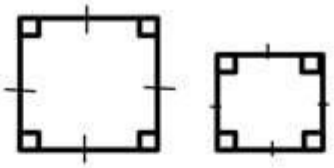

6. 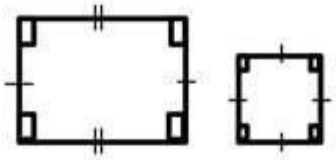

7. 

8. 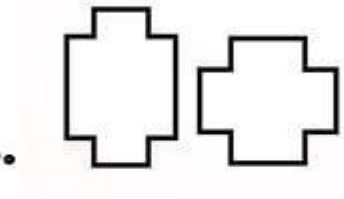

9.

10. 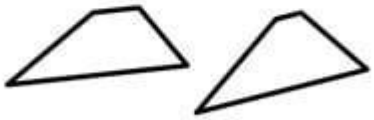

LIVEWORKSHEETS