EVALUASI KE 1_ BAB 1

KONSEP WILAYAH DAN TATA RUANG

A. Petunjuk soal : Soal no 1 -10, Pilihlah 1 jawaban yang paling benar

1. Wilayah (region) yang dicirikan berdasarkan keseragaman atau homogenitas tertentu yang umumnya didasarkan pada kesamaan kondisi fisik atau topografi di suatu wilayah di sebut ...
   a. Nodal
   b. Formal
   c. Fungsional
   d. Seragam
   e. Hemogenous
2. Wilayah (region) yang ditandai dengan interaksi keruangan yang berhubungan dengan pusatkegiatannya disebut ...
   a. Nodal
   b. Formal
   c. Fungsional
   d. Seragam
   e. Hemogenous
3. Bagian dari permukaan bumi yang memiliki ciri tersebut diri berdasarkan lingkup pengamatan atas satu atau lebih kenampakan dan dapat dibedaakan dengan yang lain disebut ...
   a. Daerah
   b. Zona
   c. Wilayah
   d. Area
   e. Kawasan
4. Teori yang menggambarkan bahwa pusat pertumbuhan terbentuk dari suatu proses dan tidakterjadi secara serentak melainkan muncul ditempat tempat tertentu dengan kecepatan dan intensitas yang berbeda di sebut ...

LIVEWORKSHEETS

a. Teori grafitasi

b. Teori interaksi

c. Teori titik henti

d. Teori tempat sentral

e. Teori kutub pertumbuhan

5. Teori yang menyatakan bahwa semakin besar pusat pelayanan maka semakin luas penduduk yang dapat dilayani, sebaliknya semakin kecil pusat pelayanan semakin sedikit juga penduduk yang dapat dilayani adalah ....
   a. Teori grafitasi

   b. Teori interaksi

   c. Teori titik henti

   d. Teori tempat sentral

   e. Teori kutub pertumbuhan

6. Pertumbuhan wilayah yang ada di Indonesia terjadi dengan tidak merata. Hal ini di sebabkankarena perbedaan ....
   a. Kondisi fisik/ alami dari suatu wilayah

   b. Sarana transportasi wilayah

   c. Potensi wilayah

   d. Jumlah penduduk wilayah

   e. Lokasi wilayah

7. Arah kebijakan pembangunan di Indonesia adalah mendayagunakan semua sumber daya alam, dan sumber daya manusia serta sumber pembangunan lainnya dengan tetap memperhatikan ...
   a. Keadaan lokasi pembangunan

   b. Kedaan lingkungan abiotik

   c. Keadaan lingkungan biotik

   d. Kelestarian lingkungan

   e. Keadaan jumlah penduduk

LIVEWORKSHEETS

8. Kalimantan Selatan merupakan kota pengembangan yang menginduk pada pusat pertumbuhankota ...
   a. Medan
   b. Jakarta
   c. Surabaya
   d. Makasar
   e. Samarinda
9. Berikut ini yang merupakan bentuk pembangunan pedesaan kecuali ...
   a. Pemantapan dalam bidang ketahanan pangan
   b. Penciptaan kegiatan ekonomi lokal yang beragam
   c. Meningkatkan kelestarian lingkungan hidup
   d. Peningkatan dan memperluas lapangan kerja
   e. Pembangunan sarana prasarana untuk kegiatan ekonomi
10. Teori yang di gunakan untuk menganalisis besarnya interaksi antar wilayah secara kuantitatif disebut ...
   a. Teori grafik
   b. Teori potensi penduduk
   c. Teori titik henti
   d. Teori gravitasi
   e. Teori interaksi
11. Berikut ini yang menjadi indikator keberhasilan pembangunan yang ada di suatu wilayah perkotaan adalah ...
   a. Tingkat perekonomian yang merata dan kelestarian lingkungan hidup
   b. Tingkat perekonomian yang belum merata dan kelestarian lingkungan hidup
   c. Keseimbangan pembangunan dan tingkat perekonomian yang tidak stabil
   d. Keseimbangan pembangunan dan tidak optimal dalam pemanfaatan ruang
   e. Optimalisasi pemanfaatan ruang dan tingkat perekonomian tidak stabil

LIVEWORKSHEETS

B. Petunjuk soal : Soal berilah tanda √ pada pernyataan tersebut yang benar

12. Penduduk kota A berjumlah 18.000 jiwa, kota B = 2.000 jiwa. Jarak kota A ke kota B adalah 20 Km. Jika pemerintah membangun sekolah, lokasi ideal yang baik berdasarkan teori titik henti adalah 5 Km dari Kota A

13. Kekuatan interaksi wilayah ini dengan menggunakan teori grafik adalah 0,76

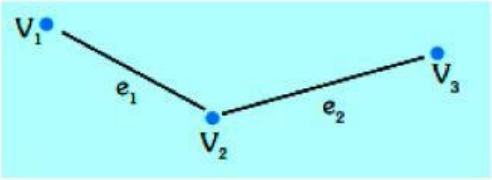

14. Penduduk kota A adalah 30.000 orang, penduduk kota B adalah 20.000 dan jarak antara kota A dan B adalah 20 km. Kekuatan Interaksi antar kota tersebut adalah 1.500.000

15. Penduduk kota A berjumlah 10.000 jiwa, kota B = 2.500 jiwa. Jarak kota A ke kota B adalah 30 Km. Jika pemerintah membangun sekolah, lokasi ideal yang baik berdasarkan teori titik henti adalah 100 Km dari Kota B

16. Kekuatan interaksi wilayah ini dengan menggunakan teori grafik adalah 1,6

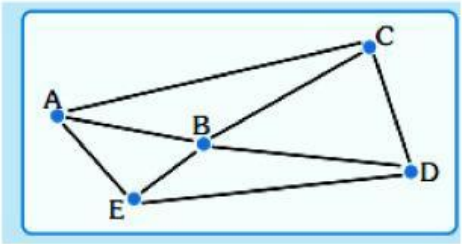

LIVEWORKSHEETS

C. Petunjuk soal : Soal No 17 -19 Pilihlah jawaban yang paling benar

17. Perhatikan peta pembangunan wilayah indonesia berikut ini

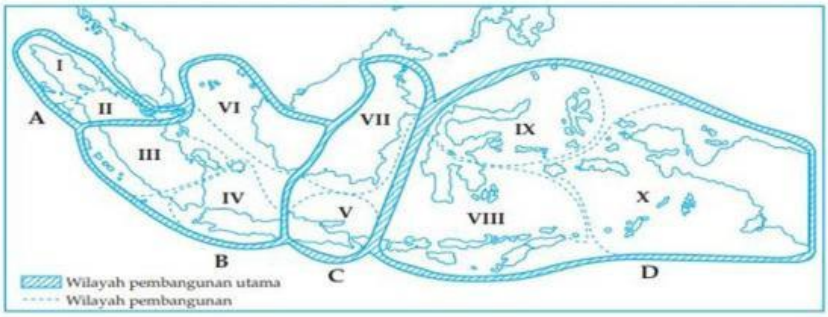

Salah satu propinsi bagian dari wilayah pembangunan utama VII adalah ...

18. . Perhatikan peta pembangunan wilayah indonesia berikut ini

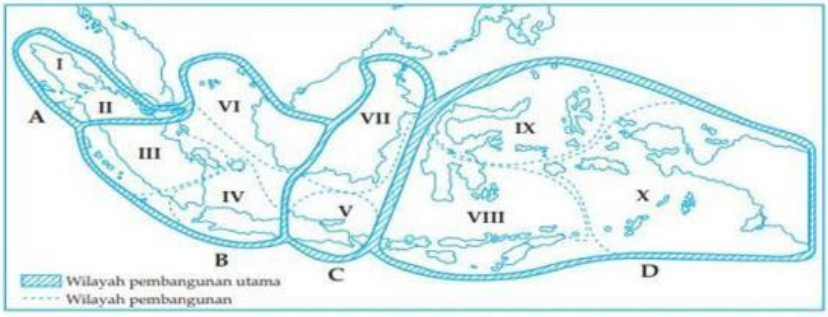

Salah satu propinsi bagian dari wilayah pembangunan utama IX adalah ...

19. Perhatikan peta pembangunan wilayah indonesia berikut ini

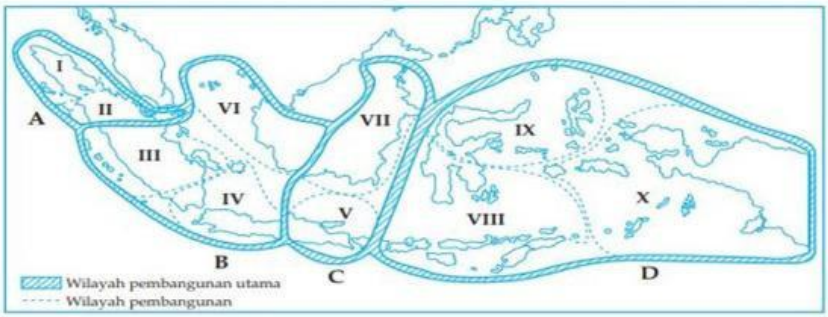

Salah satu propinsi bagian dari wilayah pembangunan utama III adalah ...

LIVEWORKSHEETS

D. Petunjuk soal : Soal No 20 Pilihlah jawaban yang paling benar

ciri atau karakteristik dari wilayah tersebut adalah ...

ciri atau karakteristik dari wilayah tersebut adalah ...

- **SELAMAT MENGERJAKAN** -

LIVEWORKSHEETS