Nome: _____

DESCRITOR

DD3 - Identificar propriedades de triângulos pela comparação de medidas de lados e ângulos.

Assinale a melhor alternativa:

Observe os triângulos abaixo.

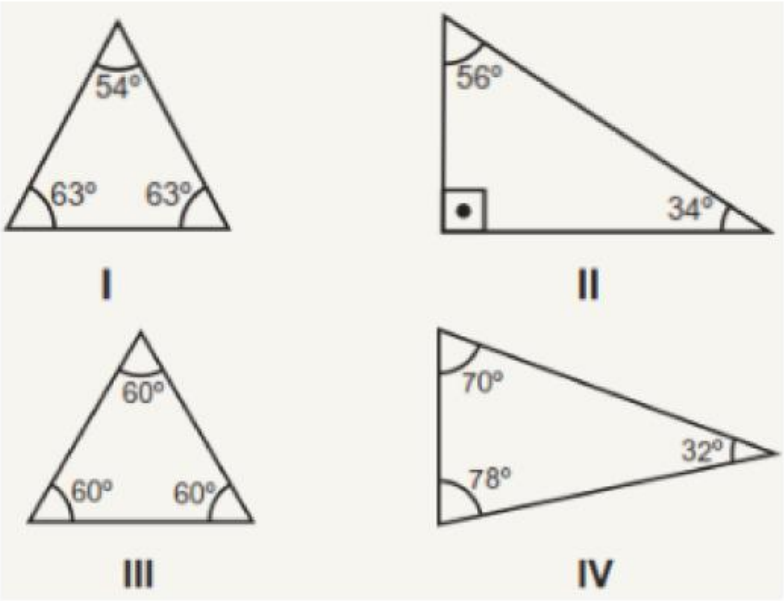

1- Qual desses triângulos é equilátero?

A) I

B) II

C) III

D) IV

LIVEWORKSHEETS

2- Na figura abaixo, o valor de X é

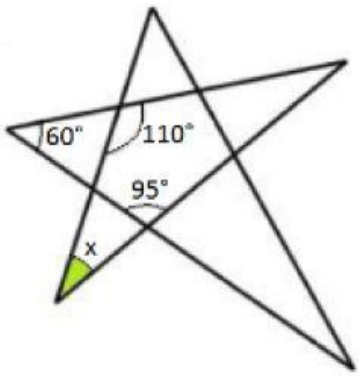

(A) 45°
(B) 55°
(C) 35°
(D) 65°

Observe as figuras.

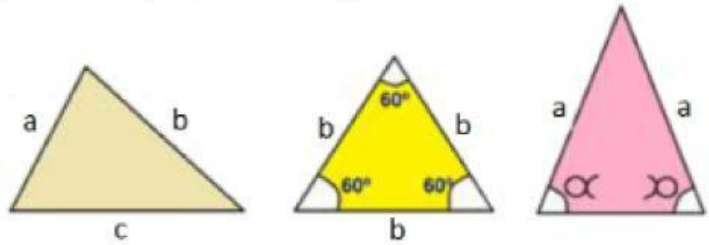

3- Quanto aos lados das figuras acima podemos afirmar que os triângulos são respectivamente
(A) escaleno, equilátero, isósceles.
(B) retângulo, equilátero, isósceles.
(C) acutângulo, equilátero, obtusângulo.
(D) isósceles, escaleno, equilátero.

LIVEWORKSHEETS

4- Uma casa de 6 m de altura produz uma sombra de 3,5 m de comprimento. No mesmo instante em que um edifício produz uma sombra de 35 m de comprimento, a altura do edifício é de:

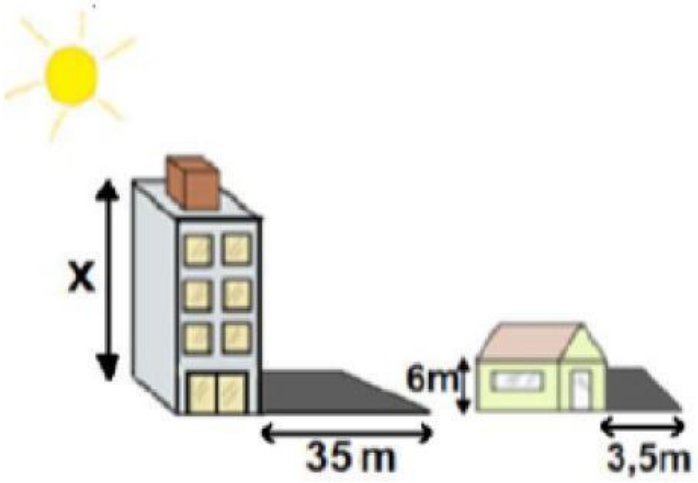

(A) 60 m
(B) 65 m
(C) 50 m
(D) 55 m

5- Observe abaixo o desenho do escorregador de um parque aquático.

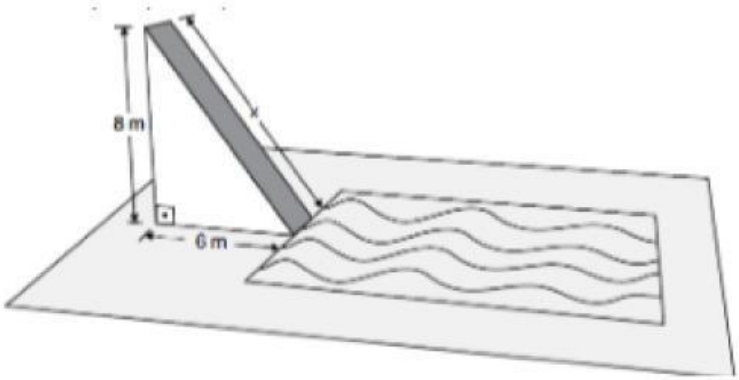

De acordo com esse desenho, qual é a medida x, em metros, do comprimento desse escorregador?

A) 10
B) 14
C) 50
D) 100

LIVEWORKSHEETS