test: **stavba atomu**

Doplňte tabulku:

Značka	Název prvku	Nukleonové číslo	Protonové číslo	Počet protonů	Počet neutronů	Počet elektronů
Pb					*125*	
	vápník	*40*				
		28				*14*
K					*20*	
					30	*26*
	jód	*127*				
Au					*118*	

Doplňte do modelu atomu správně elektrony a prvek pojmenujte:
(do políčka v jednotlivých vrstvách napište počet elektronů, které daná vrstva obsahuje)

1.

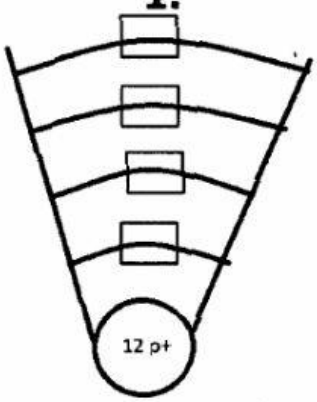

2.

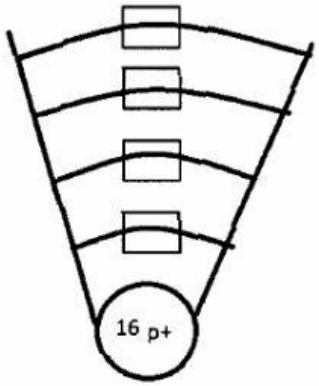

3.

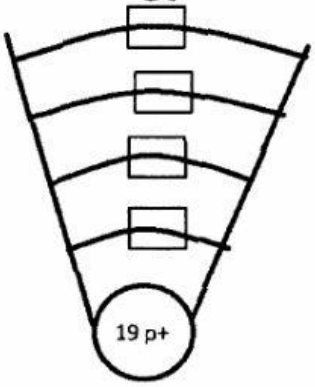

	značka prvku	název prvku	počet vrstev elektronového	počet valenčních elektronů
1.				
2.				
3.				

LIVEWORKSHEETS