დავალება 1 - 25

რიცხვი **„სამოცი ათას სამას ხუთი“** ციფრებით ასე ჩაიწერება:

პასუხი:

- 600305
- 60305
- 6305
- 63005

დავალება 2 - 25

მოცემული ოთხი ფიგურიდან მხოლოდ ერთი არაა ოთხკუთხედი. რომელი ფიგურა <u>არაა</u> ოთხკუთხედი?

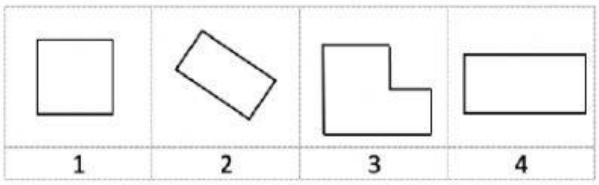

პასუხი:

- 1
- 2
- 3
- 4

დავალება 3 - 25

თეამ გვარები: მაღრაძე, გრძელიძე, შაწიძე და მალაშხია ანბანის მიხედვით ჩამოწერა. ვინ იქნება თეას სიაში **მეოთხე**?

პასუხი:

- მაღრაძე;
- გრძელიძე;
- შაწიძე;
- მალაშხია.

დავალება 4 - 25

ნახატზე დახატულია პატარა კუბიკები და მათგან შედგენილი სვეტები, კედლები და დიდი კუბები. თითოეული სვეტი 10 კუბიკისაგან შედგება, კედელი – 100 კუბიკისაგან, ხოლო დიდი კუბი – 1000 კუბიკისაგან. სულ რამდენი პატარა კუბიკია მოცემული ნახატზე?

პასუხი: ჩაწერე ციფრებით

დავალება 5 - 25

თუ $422 : \square = 211$, მაშინ $\square$–ით დაფარული რიცხვი ტოლია

პასუხი:

- 422 + 211;
- 422 – 211;
- 422 · 211;
- 422 : 211.

LIVEWORKSHEETS

დავალება 6 - 25

მოცემული ფიგურებიდან რომელია სამკუთხა პრიზმა?

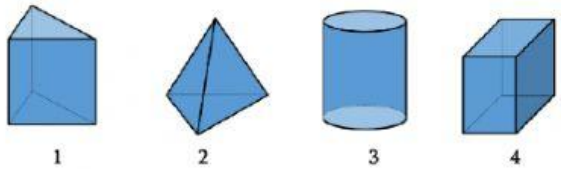

პასუხი:

- 1
- 2
- 3
- 4

დავალება 7 - 25

თუმური, ანა, გვანცა, სანდრო, მერაბი და-ძმანი არიან. თუმური უმცროსია ანაზე, მაგრამ უფროსია მერაბზე, გვანცა უმცროსია მერაბზე, მაგრამ უფროსია სანდროზე. და-ძმებიდან რომელია ყველაზე უფროსი?

პასუხი:

- ანა;
- გვანცა;
- თუმური;
- მერაბი.

დავალება 8 - 25

საახალწლო კოზეტი 17 საათსა და 45 წუთზე დაიწყო და 1 სთ და 30 წთ გაგრძელდა. რომელ საათზე დამთავრებულა კოზეტი?

პასუხი:

- 19 საათსა და 45 წუთზე;
- 19 საათსა და 15 წუთზე;
- 18 საათსა და 45 წუთზე;
- 18 საათსა და 15 წუთზე.

დავალება 9 - 25

ოთხ დიდ და ერთ პატარა თაროზე სულ 96 წიგნი აწყვია. დიდ თაროებზე დაწყობილი წიგნების რაოდენობები ერთმანეთის ტოლია. ჩამოთვლილთაგან რომელი გამოსახულება გვიჩვენებს, თუ რამდენი წიგნია თითოეულ დიდ თაროზე, თუ პატარა თაროზე 16 წიგნია?

პასუხი:

- 96-16:4
- (96+16):4
- (96-16):4
- 96:4-16

დავალება 12 - 25

ნახატზე მოცემულია მართკუთხედი და ორი სახაზავი. ქვემოთ ჩამოთვლილ სიდიდეთაგან რომელი გვიჩვენებს, რამდენი მილიმეტრით წაკლებია ამ მართკუთხედის სიგანე სიგრძეზე?

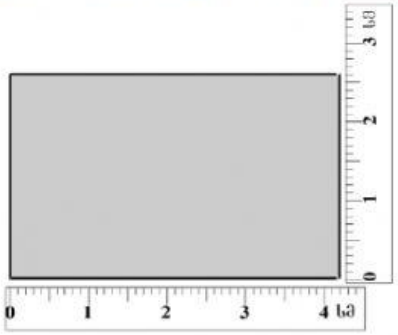

პასუხი:

- 10 მმ;
- 16 მმ;
- 24 მმ;
- 26 მმ.

LIVEWORKSHEETS

დავალება 11 - 25

სამკუთხედს და კვადრატს ტოლი პერიმეტრები აქვთ. სამკუთხედის თითოეული გვერდი 12 სმ-ის ტოლია. რის ტოლია კვადრატის გვერდის სიგრძე?

პასუხი: [ჩაწერე ციფრებით] სმ.

დავალება 13 - 25

წრე გაყოფილია ოთხ ტოლ წაწილად. წრის რა წაწილია გამუქებული?

პასუხი:

- ○ წახევარი;
- ○ მესამედი;
- ○ მეოთხედი;
- ○ მეხუთედი.

დავალება 14 - 25

სვეტოვან დიაგრამაზე მოცემულია ეკას მიერ ტყეში დაკრეფილი სხვადასხვა სახეობის სოკოების რაოდენობები.

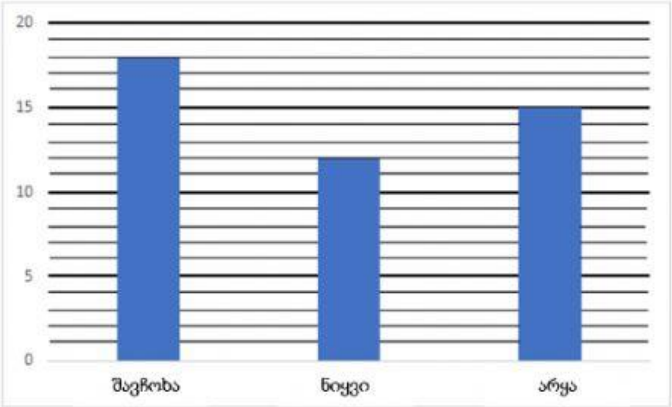

რამდენით მეტი შავჩხა დაკრიფა ეკამ, ვიდრე არყა?

პასუხი: [ ] -ით.

დავალება 15 - 25

თუ ერთ შესაკრებს გავადიდებთ 5-ით, ხოლო მეორეს შევამცირებთ 7-ით, მაშინ ჯამი:

პასუხი:

- ○ შემცირდება 2-ით;
- ○ გადიდდება 12-ით;
- ○ შემცირდება 12-ით;
- ○ გადიდდება 2-ით.

LIVEWORKSHEETS

ქეთიმ, გვანცამ, სანდრომ და ვაჟამ უღელტეხილამდე მისასვლელად ჯერ ტყე უნდა გაიარონ, შემდეგ კი - მთის ფერდობი. ცხრილში მოცემულია, რა დრო დასჭირდა თითოეულ მათგანს ტყისა და მთის ფერდობის გასავლელად.

	ქეთი	გვანცა	სანდრო	ვაჟა
ტყე	45 წთ	50 წთ	45 წთ	45 წთ
მთის ფერდობი	55 წთ	45 წთ	45 წთ	50 წთ

რომელს დასჭირდა ყველაზე მეტი დრო უღელტეხილამდე მისასვლელად?

დავალება 16 - 25

პასუხი:

- ○ ქეთის;
- ○ გვანცას;
- ○ სანდროს;
- ○ ვაჟას.

რომელ შემთხვევაშია წამთიანი გაყოფა **სწორად** შესრულებული?

დავალება 17 - 25

პასუხი:

- ○ 26:5 = 4 (წამთი 6);
- ○ 43:7 = 5 (წამთი 8);
- ○ 29:10 = 2 (წამთი 9);
- ○ 61:10 = 5 (წამთი 11).

დათო ქუთაისიდან ქობულეთში მოტოციკლით ჩავიდა და გაიარა 69 კმ. ლანჩხუთიდან ქობულეთამდე 36 კმ-ია. სახაზზე მოცემული სქემის მიხედვით გაარკვიეთ ქუთაისიდან ლანჩხუთამდე გზის სიგრძე.

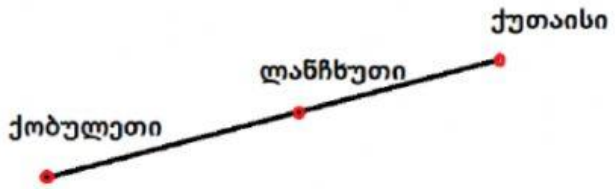

დავალება 18 - 25

პასუხი:

- ○ 105 კმ;
- ○ 36 კმ;
- ○ 33 კმ;
- ○ 30 კმ.

სქემაზე მოცემულია შესაბამისობა ქვეყნებსა და დედაქალაქებს შორის. რომელი ქვეყნის დედაქალაქია თეირანი?

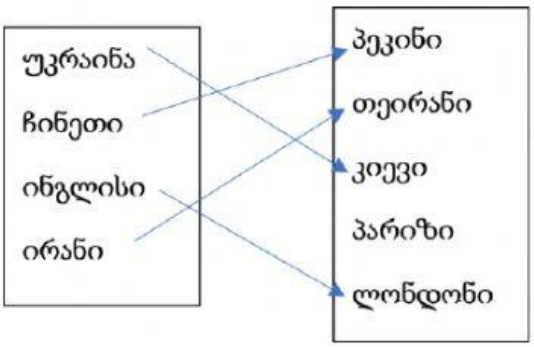

დავალება 19 - 25

პასუხი:

- ○ უკრაინის;
- ○ ჩინეთის;
- ○ ინგლისის;
- ○ ირანის.

LIVEWORKSHEETS

დიაგრამაზე გამოსახულია ბაღში სხვადასხვა ხეის რაოდენობები. ჩამოთვლილთაგან რომელი პასუხია სწორი?

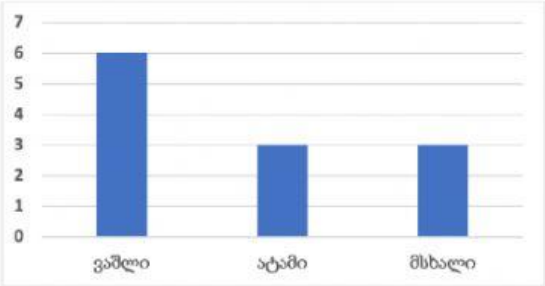

დავალება 20 - 25

პასუხი:

- ○ ბაღში ხეების ნახევარი ვაშლისაა;
- ○ ბაღში ხეების ნახევარი ატმისაა;
- ○ ბაღში ხეების ნახევარზე მეტი მსხლისაა;
- ○ ბაღში ვაშლის ხეები ნახევარზე მეტია.

ვაგონში 3010 ყუთია. თითოეულ ყუთში 80 რვეულია. სულ რამდენი რვეულია ამ ვაგონში?

დავალება 21 - 25

პასუხი: ჩაწერე ციფრებით

ცარიელი უჯრებიდან თითოეულში ჩასვით თითო ციფრი ისე, რომ სწორი ტოლობა მიიღოთ.

$4026 = \square \cdot 1000 + \square \cdot 100 + \square \cdot 10 + \square$

დავალება 22 - 25

პასუხი:

პირველი უჯრა	ჩაწერე ციფრებით
მეორე უჯრა	ჩაწერე ციფრებით
მესამე უჯრა	ჩაწერე ციფრებით
მეოთხე უჯრა	ჩაწერე ციფრებით

რის ტოლია უმცირესი სამნიშნა რიცხვისა და უდიდესი ორნიშნა რიცხვის სხვაობა?

დავალება 23 - 25

პასუხი: ჩაწერე ციფრებით -ის

ჯგუფმა ლაშქრობისას გაიარა 8 კილომეტრი და 75 მეტრი. სულ რამდენი მეტრი გაიარა ამ ჯგუფმა?

დავალება 24 - 25

პასუხი: ჩაწერე ციფრებით მეტრი.

შეავსეთ ცხრილი ფიგურების მიხედვით:

დავალება 25 - 25

პასუხი:

ფიგურა	რაოდენობა
სამკუთხედი	
წრე	
კვადრატი	

LIVEWORKSHEETS

ჩამოთვლილთაგან რომელ შემთხვევაშია დალაგებული რიცხვები ზრდის მიხედვით?

დავალება 1 - 25

პასუხი:

- 70070, 70707, 77007, 77700;
- 77007, 70707, 77700, 70070;
- 70070, 77700, 70707, 77007;
- 70707, 77007, 77700, 70070.

ნიკას ეზოს მართკუთხედის ფორმა აქვს. ეზოს ორი მეზობელი გვერდის სიგრძეთა ჯამი 24 მეტრია. რამდენი მეტრია ეზოს პერიმეტრი?

დავალება 2 - 25

პასუხი:

- 12
- 24
- 36
- 48

მაკა თაეის დაბადების დღეზე სიმაღლეს ზომავდა. მოწაფემები დიაგრამაზეა წარმოდგენილი. რომელ ასაკში მოიმატა მაკამ სიმაღლეში ყველაზე მეტად?

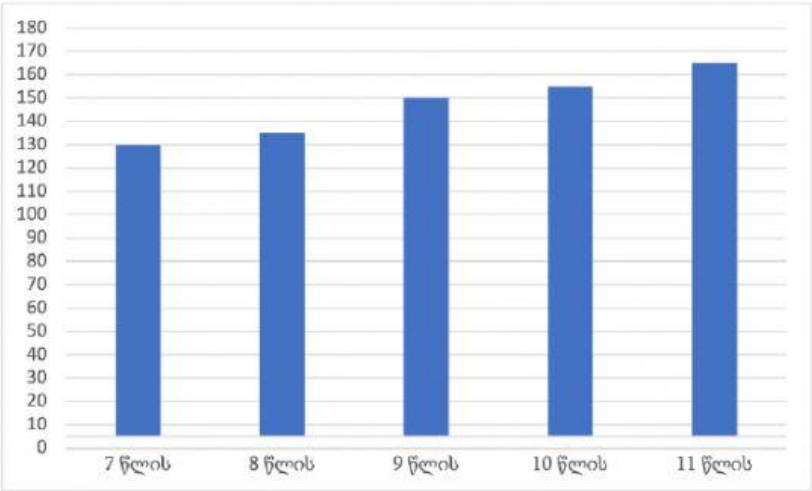

დავალება 3 - 25

პასუხი:

- 7-დან 8 წლამდე;
- 8-დან 9 წლამდე;
- 9-დან 10 წლამდე;
- 10-დან 11 წლამდე;

რიცხვი 20036 შედგება:

დავალება 4 - 25

პასუხი:

- 2 ათასეულის, 3 ათეულისა და 6 ერთეულისაგან;
- 2 ათიათასეულისა და 36 ათეულისაგან;
- 20 ასეულისა და 36 ერთეულისაგან;
- 200 ასეულისა და 36 ერთეულისაგან.

LIVEWORKSHEETS

რიცხვი 20036 შედგება:

დავალება 4 - 25

პასუხი:

- 2 ათასეულის, 3 ათეულისა და 6 ერთეულისაგან;
- 2 ათიათასეულისა და 36 ათეულისაგან;
- 20 ასეულისა და 36 ერთეულისაგან;
- 200 ასეულისა და 36 ერთეულისაგან.

ნახაზზე მოცემულ პრიზმაში რომელი წახნაგებია არამოსაზღვრე?

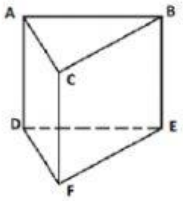

დავალება 5 - 25

პასუხი:

- ACFD და CBEF;
- ABC და DEF;
- ABC და ABED;
- BCFE და ACFD.

სვეტოვან დიაგრამაზე მოცემულია მაღაზიაში რამდენიმე ხილის ფასი ლარებში.

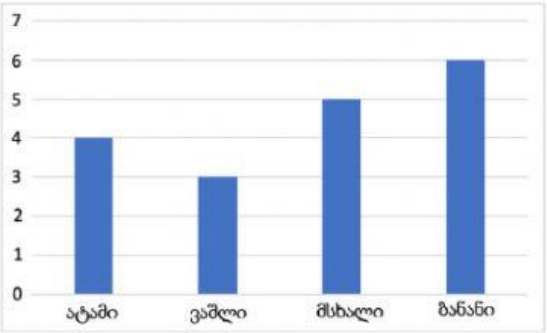

სულ რამდენი ლარი უნდა გადაიხადოთ 1 კილოგრამ ატამში და 1 კილოგრამ მსხალში?

დავალება 6 - 25

პასუხი: [ჩაწერე ციფრებით] ლარ

რა რიცხვია 52 437-ის უახლოესი ასეული?

დავალება 7 - 25

პასუხი:

- 52 000
- 52 400
- 52 500
- 52 000

LIVEWORKSHEETS

დავალება 8 - 25

სქემის მიხედვით რამდენი განსხვავებული გზით შეიძლება A-დან B პუნქტამდე მისვლა?

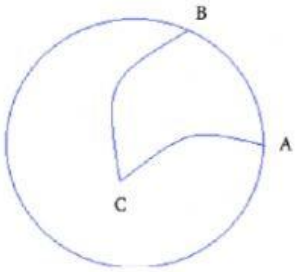

პასუხი:

- 1 გზით;
- 2 გზით;
- 3 გზით;
- 4 გზით.

დავალება 9 - 25

რომელი ციფრი უნდა ჩავწეროთ ცარიელ უჯრაში, რომ სწორი ტოლობა მიიღოთ?

$$\begin{array}{r} -\,7\square6 \\ 352 \\ \hline 364 \end{array}$$

პასუხი: ჩაწერე ციფრებით

დავალება 10 - 25

მართკუთხედი დაყოფილია სამ ტოლ კვადრატად. კვადრატის გვერდის სიგრძეა 5 სმ. რის ტოლია მართკუთხედის პერიმეტრი?

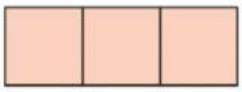

პასუხი: ჩაწერე ციფრებით სმ.

დავალება 11 - 25

7 კილოგრამი და 30 გრამი ტოლია:

პასუხი: ჩაწერე ციფრებით გრამის.

დავალება 12 - 25

რამდენი წიბო აქვს ნახატზე მოცემულ პრიზმას?

პასუხი: ჩაწერე ციფრებით

დავალება 13 - 25

28000 : 70 =

პასუხი: ჩაწერე ციფრებით

LIVEWORKSHEETS

სკოლაში ყველა მეოთხე კლასის მოსწავლე გამოკითხეს, თუ ვის რომელი ნაყინი უყვარდა ყველაზე მეტად. შედეგები ცხრილის სახითაა წარმოდგენილი (= 5 მოსწავლეს):

ნაყინი	მოსწავლეების რაოდენობა
ვანილის	
შოკოლადის	
მარწყვის	

სულ რამდენი მოსწავლეა კლასში?

დავალება 14 - 25

პასუხი: ჩაწერე ციფრებით

რამდენი სანტიმეტრია ნახევარი მეტრი?

დავალება 15 - 25

პასუხი: ჩაწერე ციფრებით სანტიმეტრი.

6363 : 63 =

დავალება 16 - 25

პასუხი: ჩაწერე ციფრებით

რამდენი წვერო აქვს ნახატზე მოცემულ პირამიდას?

დავალება 17 - 25

პასუხი: ჩაწერე ციფრებით

67 - 12 + 8 =

დავალება 18 - 25

პასუხი: ჩაწერე ციფრებით

ლიამ, სანდრომ და ნანამ წიყარები შეაგროვეს. ლიამ 10 წიყარა შეაგროვა, სანდრომ – 2-ჯერ ნაკლები, ვიდრე ლიამ, ნანამ კი – 6-ით მეტი, ვიდრე სანდრომ. რამდენი წიყარა შეუგროვებია ნანას?

დავალება 19 - 25

პასუხი: ჩაწერე ციფრებით წიყარა.

LIVEWORKSHEETS