Прізвище, ім'я_____ клас _____

Практична робота

Визначення абсолютних і відносних висот та глибин географічних об'єктів з використанням шкали висот та глибин

Завдання 1. З яких елементів складається географічна карта?. Заповніть схему, та покажіть елементи на карті.

1.Картографічне зображення

2. Математична основа

3. Допоміжне оснащення

4. Легенда карти

5. Додаткові данні

1

2

3

4

5

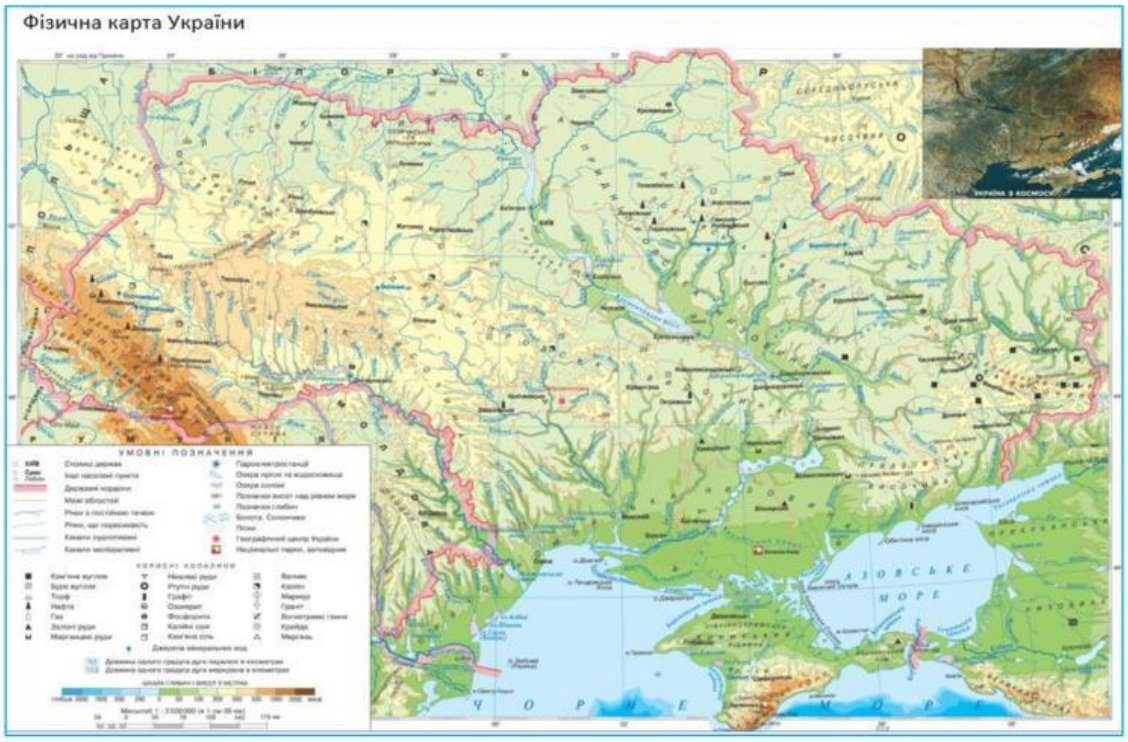

Завдання 2. Знайдіть географічні об'єкти на карті Підпишіть їх назви та визначіть абсолютну висоту, запишіть дані у таблицю.

LIVEWORKSHEETS

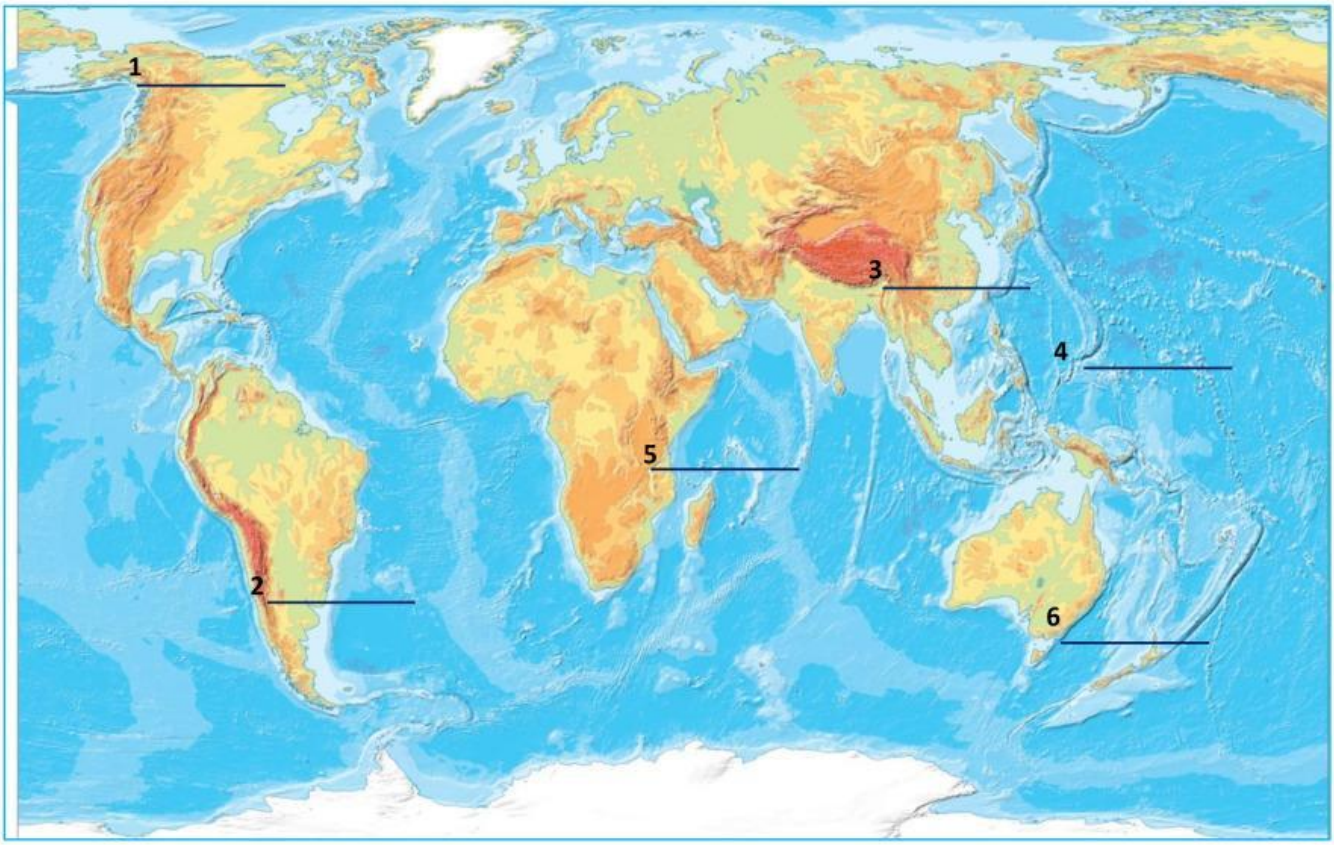

г. Деналі (Мак-Кінлі) г. Аконкаґуа г. Джомолунгма

г. Кіліманджаро Маріанський жолоб г. Косцюшко

Назва об'єкта	Абсолютна висота	Назва об'єкта	Абсолютна висота
г. Деналі (Мак-Кінлі)	м	г. Джомолунгма	м
г. Аконкаґуа	м	г. Кіліманджаро	м
Маріанський жолоб	м	г. Косцюшко	м

Завдання 3. Використовуючи фрагменти карт та шкалу висот та глибин встановіть, який об'єкт вищий чи глибший і поставте галочку ✓

Північне море		Чорне море	
Альпи		Кавказ	
Чорне море		Каспійське море	
Альпи		Карпати	
Середземне море		Біскайська затока	

LIVEWORKSHEETS



Миколаїв		Кривий Ріг	
Кропивницький		Херсон	
Львів		Луцьк	
Ужгород		Рівне	

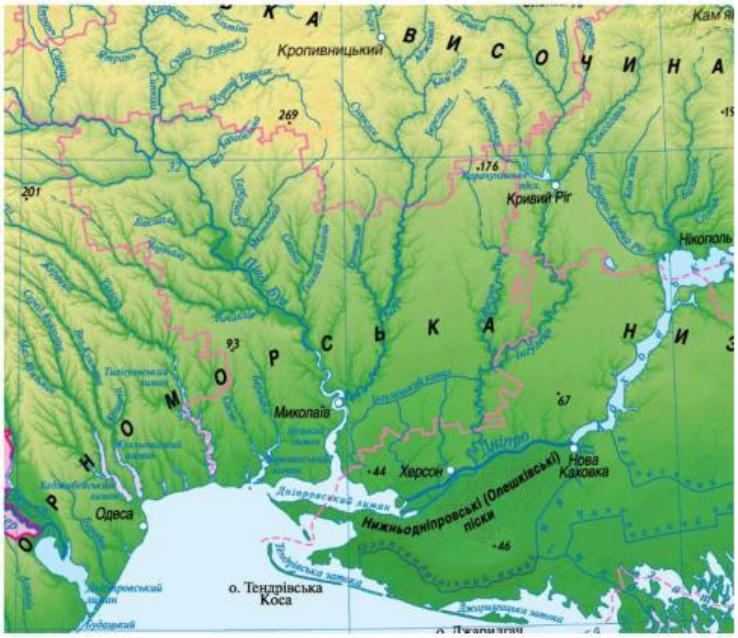

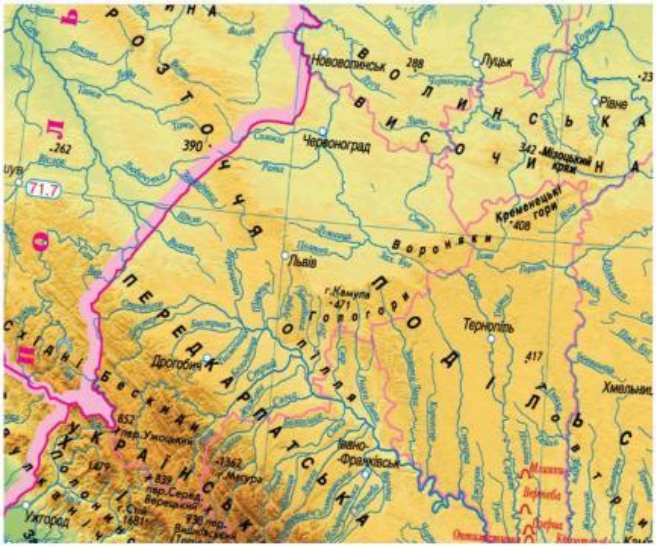

Завдання 4. Використовуючі дані завдання 2, розрахуйте відносну висоту географічних об'єктів

г. Джомолунгма – г. Аконкаґуа [м] ± [м] = [м]

г. Деналі – г. Косцюшко [м] ± [м] = [м]

г. Кіліманджаро – Маріанський жолоб [м] ± [м] = [м]

LIVEWORKSHEETS