مَبْنَى ٱلْأَعْداد 11–20

1. أُرْسُموا ٱلْأَصابِع ٱلَّتي يَجِب أَنْ نَرْفَعَها بِحَيْث نَحْصُل عَلى ٱلْعَدَد ٱلْمُلائِم، وَأَكْمِلوا ٱلتَّمْرين.

اب



10 + _____ = 14

أ



10 + _____ = 12

اد



10 + _____ = 15

اج



10 + _____ = 13

او



5 + _____ = 15

اهـ

1 + _____ = 11

يَتْبَع ◄

מסה مركز التكنولوجيا التربوية

© جميع الحقوق محفوظة لمركز التكنولوجيا التربوية

LIVEWORKSHEETS

مَبْنَى ٱلْأَعْداد 11–20

2. أُمْحوا أَصابِع بِخَطّ حَتّى تَصِلون إلى **10**.
أَكْمِلوا ٱلتَّمْرين.

أ

15 – ____ = 10

ب



13 – ____ = 10

ج

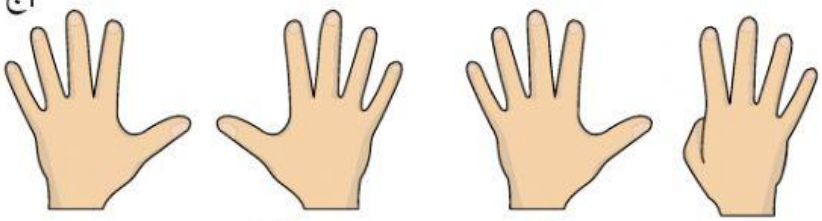

19 – ____ = 10

د

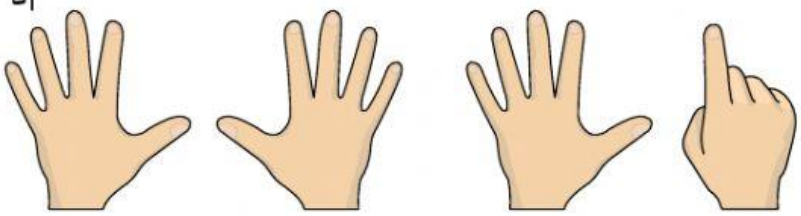

____ – ____ = 10

يَتْبَع ◄

מסה
مركز التكنولوجيا التربوية
© جميع الحقوق محفوظة لمركز التكنولوجيا التربوية
LIVEWORKSHEETS

مَبْنَى ٱلْأَعْداد 11–20

3. أُمْحوا أَصابِع بِخَطّ حَتّى تَصِلون إلى ٱلْعَدَد ٱلْمُلائِم.
أَكْمِلوا ٱلتَّمْرين.

أ

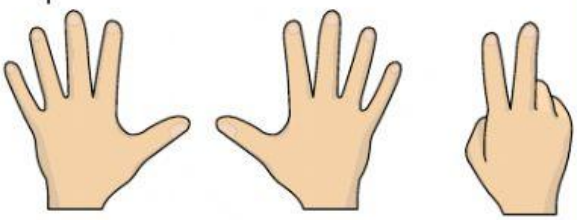

12 – ____ = 2

اب

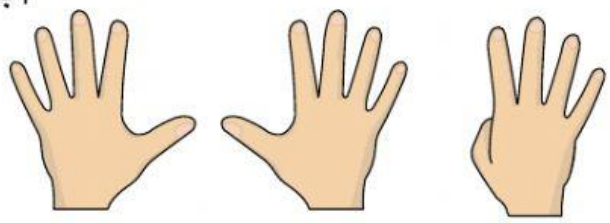

14 – ____ = 4

اج

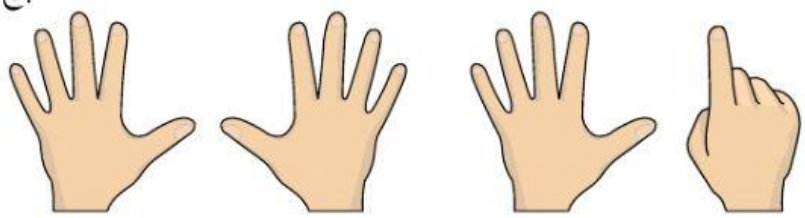

16 – ____ = 6

اد

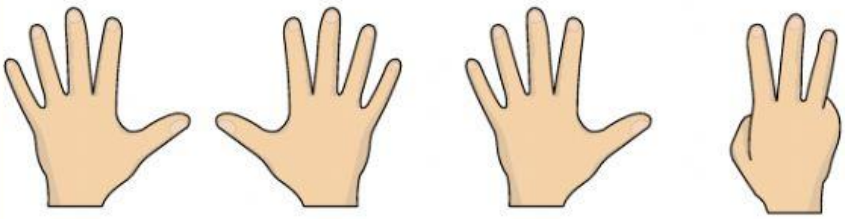

____ – ____ = 8

מסה
مركز التكنولوجيا التربوية
© جميع الحقوق محفوظة لمركز التكنولوجيا التربوية
LIVEWORKSHEETS