ชื่อ-สกุล..... ชั้น.....เลขที่.....

ให้นักเรียนเติมส่วนประกอบที่เป็นรูปเรขาคณิตสองมิติ ที่ได้จากการคลี่รูปปริซึมที่กำหนดให้ต่อไปนี้

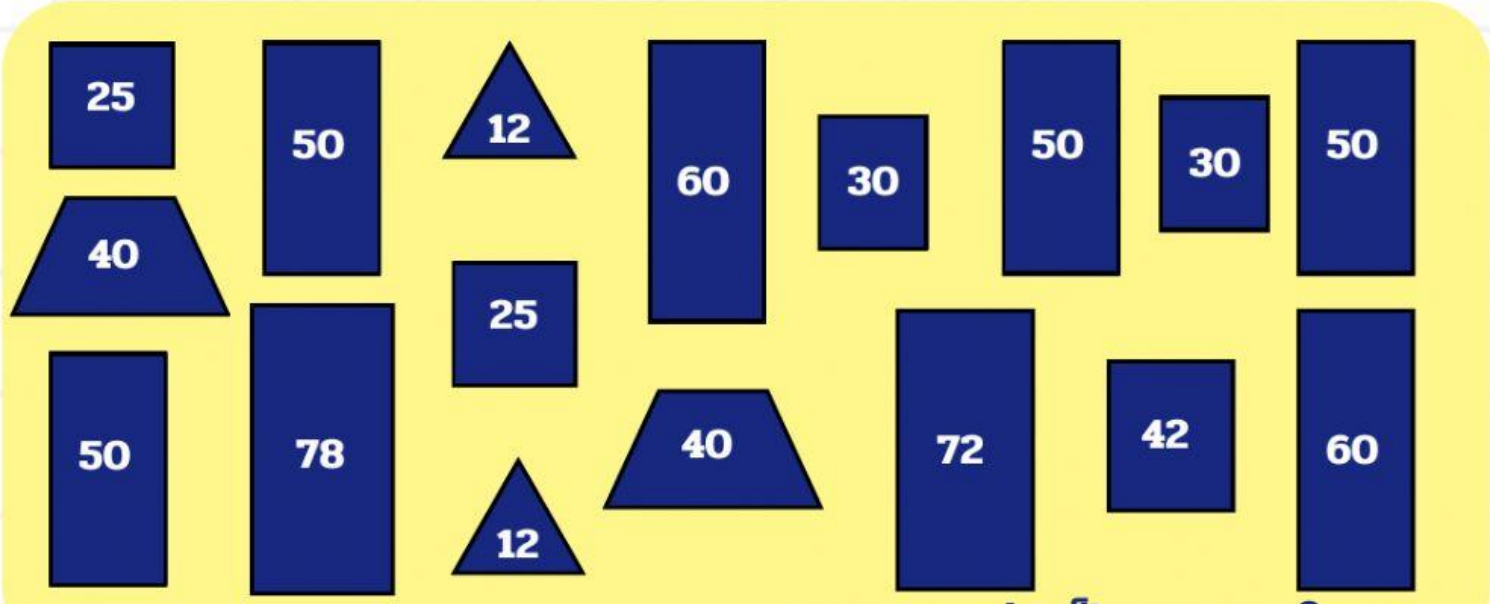

หมายเหตุ : หน่วยเป็นตารางเซนติเมตร

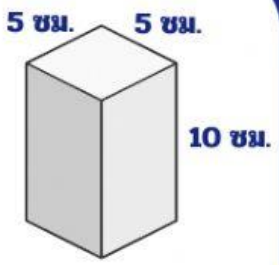

ฐาน

ฐาน หน้าข้าง หน้าข้าง หน้าข้าง หน้าข้าง

พื้นที่ผิว

_____ ตร.ซม

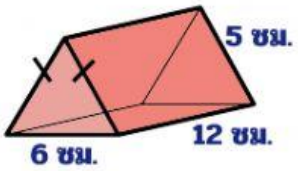

ฐาน

ฐาน หน้าข้าง หน้าข้าง หน้าข้าง

พื้นที่ผิว

_____ ตร.ซม

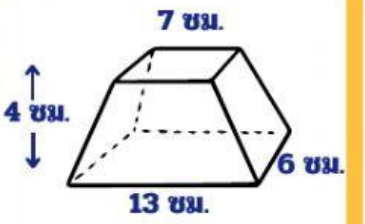

ฐาน

ฐาน หน้าข้าง หน้าข้าง หน้าข้าง หน้าข้าง

พื้นที่ผิว

_____ ตร.ซม

LIVEWORKSHEETS