ชื่อ.....ชั้น.....เลขที่.....

ใบงาน	เรื่อง เนื้อเยื่อลำเลียงน้ำและเนื้อเยื่อลำเลียงอาหาร

1. การลำเลียงน้ำ ธาตุอาหาร และอาหารไปยังส่วนต่าง ๆ ของพืช ต้องอาศัยเนื้อเยื่อที่ทำหน้าที่เฉพาะในการลำเลียงสาร เรียกว่า **มัดท่อลำเลียง (Vascular bundle)** มี 2 ประเภท คือ

1. เนื้อเยื่อลำเลียงน้ำ หรือ .....ทำหน้าที่.....
.....

2. เนื้อเยื่อลำเลียงอาหาร หรือ .....ทำหน้าที่.....
.....

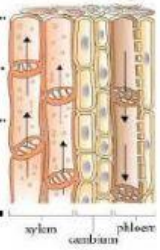

2. ลักษณะของเนื้อเยื่อลำเลียงน้ำและเนื้อเยื่อลำเลียงอาหารของรากพืชใบเลี้ยงเดี่ยวและพืชใบเลี้ยงคู่

การเรียงตัวลักษณะนี้พบที่
.....

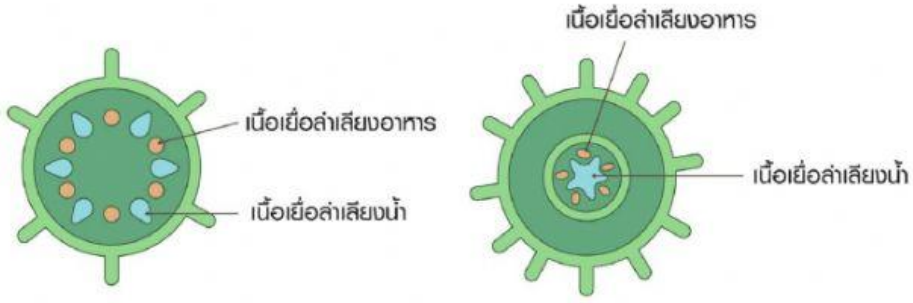

LIVEWORKSHEETS

ชื่อ.....ชั้น.....เลขที่.....

3. ลักษณะของเนื้อเยื่อลำเลียงน้ำและเนื้อเยื่อลำเลียงอาหารของลำต้นพืชใบเลี้ยงเดี่ยวและพืชใบเลี้ยงคู่

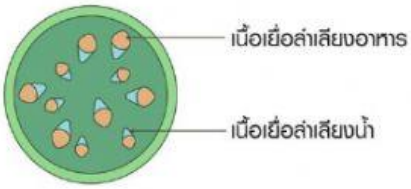

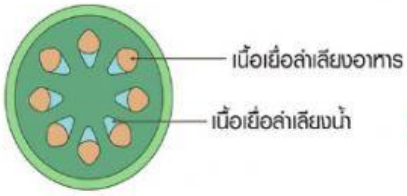

การเรียงตัวลักษณะนี้พบที่

.....



ทิศทางการลำเลียงน้ำของพืช.....

.....

ทิศทางการลำเลียงอาหารของพืช.....

.....

LIVEWORKSHEETS