姓名：_____ 班级：_____ 日期：_____

科学 3A · 课堂评估 5

主题一：科学探究
第 1 课：科学技能

表现标准：TP2, TP4
学习标准：1.1.5

观察下图，预测接下来会发生的情况，然后针对你的预测作出解释。在正确的答案下画线。

1.

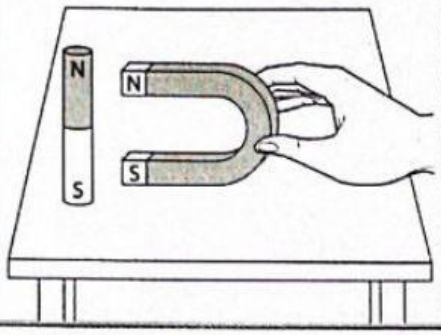

(a) 接下来会发生什么情况？
磁铁会（互相吸引 * 互相推开）。

(b) 为什么？
磁铁同极会（相吸 * 相斥）。

2.

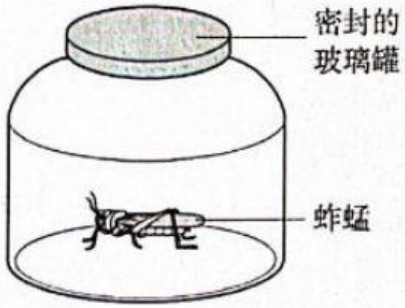

(a) 3 小时后，蚱蜢会怎样？
蚱蜢（会死亡 * 还活着）。

(b) 为什么？
蚱蜢缺乏（水 * 空气）。

3.

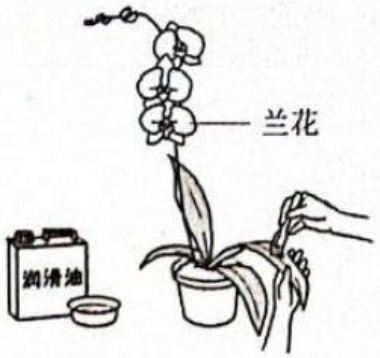

(a) 一个星期后，兰花会怎样？
兰花会（枯萎 * 长高）。

(b) 为什么？
兰花缺乏（水 * 空气）。

TP2	掌握		尚未掌握	

TP4	掌握		尚未掌握	

LIVEWORKSHEETS