1 以下是有关微生物Y的资料。

- 形态多样
- 体积最小的微生物
- 须依靠其他生物来存活

Y是哪种微生物？

A 细菌　　B 病毒

C 真菌　　D 原生动物

2 图1显示一些微生物。

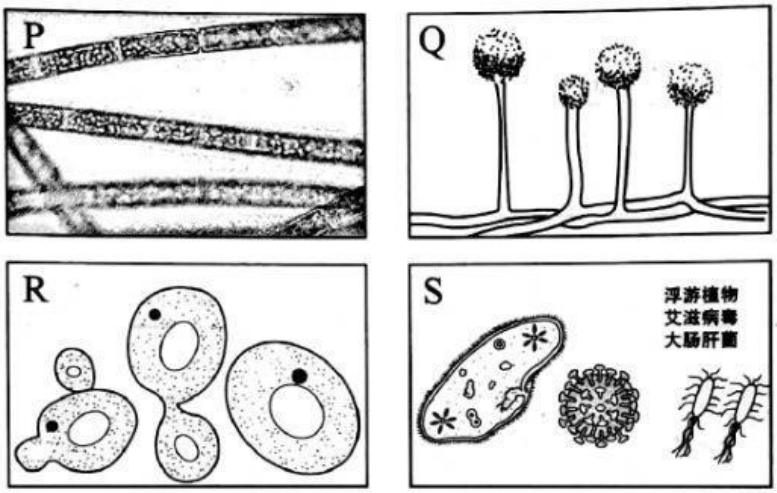

图1

哪些微生物可被归类为真菌？

A P和Q　　B P和R

C Q和R　　D R和S

3 图2显示一片面包的情况。

图2

针对三天后面包上霉菌的情况作出推断。

A 微生物在呼吸

B 微生物在移动

C 微生物在排遗

D 微生物在生长和繁殖

Scanned with CamScanner
LIVEWORKSHEETS

4 以下显示一些有关微生物的资料

J – 生活在河、海和潮湿的土壤中
K – 以细菌、藻类等为食物
L – 必须依靠其他生物才能存活
M – 像植物一样能进行光合作用

哪项资料与原生动物有关？

A J和K　　B J和L
C K和L　　D L和M

5 图3显示变形虫所进行的一项活动。

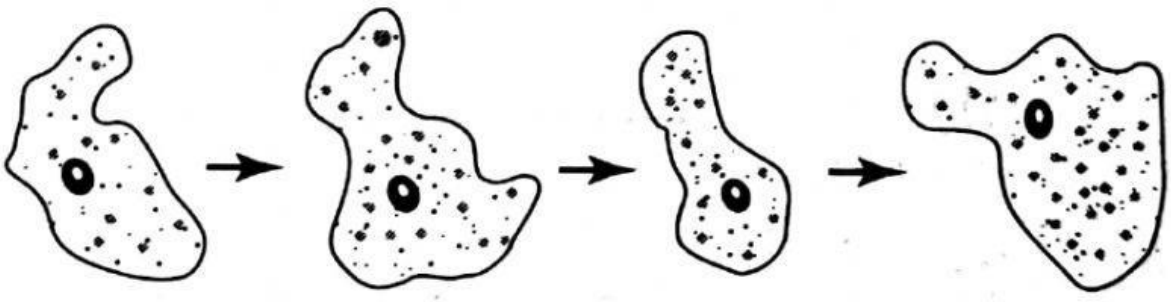

图3

根据上图，变形虫在进行哪项生命过程？

A 呼吸　　B 排泄和排遗
C 移动　　D 生长和繁殖

Scanned with CamScanner
LIVEWORKSHEETS

20 哪项有关原生动物的说明是不正确的？

A 以细菌、藻类为食物。

B 浮游动物归属于原生动物。

C 需依赖细菌、人类或动物才能存活。

D 大多数生活在河、海、池塘和潮湿的土壤中。

21 图 3 显示一片长满 M 微生物的面包。

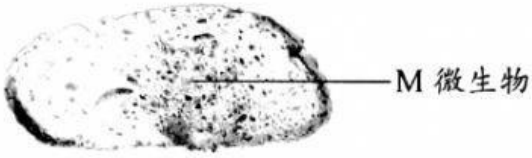

图 3

M 微生物归属于哪一类的微生物？

A 细菌　　B 真菌

C 病毒　　D 藻类

22 微生物也会进行生命过程。
哪项和微生物的生命过程无关？

A 会呼吸　　B 会移动

C 会制造食物　　D 会生长和繁殖

23 哪项不是影响微生物生长的条件？

A 气体

B 阳光、空气

C 水分、养分

D 适当的温度和酸度

24 把一块肉放在不同的地方，哪块肉会因微生物的生长而最快发出臭味？

P

Q

R

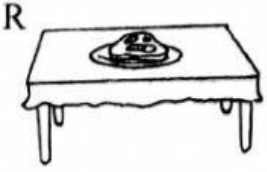

S

A P　　B Q

C R　　D S

Scanned with CamScanner
LIVEWORKSHEETS