נקודת החיתוך

מצאו את שיעורי נקודת החיתוך של הישר האופקי y=12 עם הגרף של הפונקציה :

1. f(x)=12x

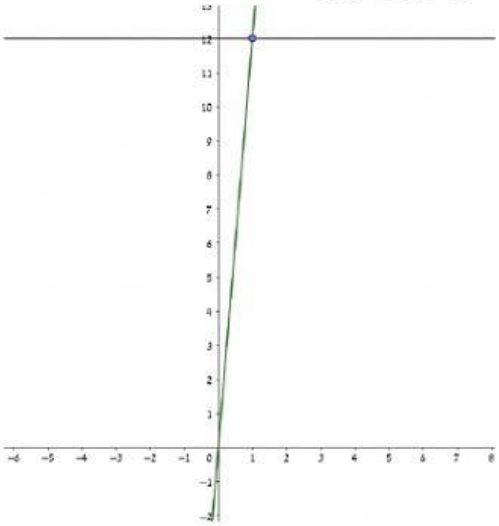

ה y של נקודת החיתוך של הישר האופקי עם גרף של הפונקציה היא : _____

כדי למצוא את ה x של נקודת החיתוך נציב במקום f(x) את : _____

12x=__ /__

x=___

אז שיעורי נקודת החיתוך של y=12 עם f(x)=12x היא : (,) .

מצאו את שיעורי נקודת החיתוך של הישר האופקי y=12 עם הגרף של הפונקציה :

2. g(x)=6x

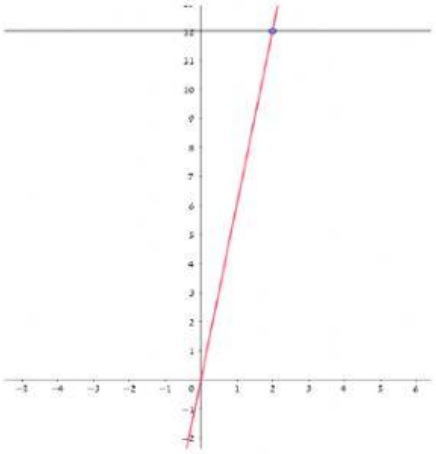

LIVEWORKSHEETS

ה y של נקודת החיתוך של הישר האופקי עם גרף של הפונקציה היא : _____

כדי למצוא את ה x של נקודת החיתוך נציב במקום g(x) את : _____

6x=__ /__

x=___

<u>אז שיעורי נקודת החיתוך של y=12 עם g(x)=6x היא :</u> (,) .

מצאו את שיעורי נקודת החיתוך של הישר האופקי y=12 עם הגרף של הפונקציה :

3. h(x)=3x

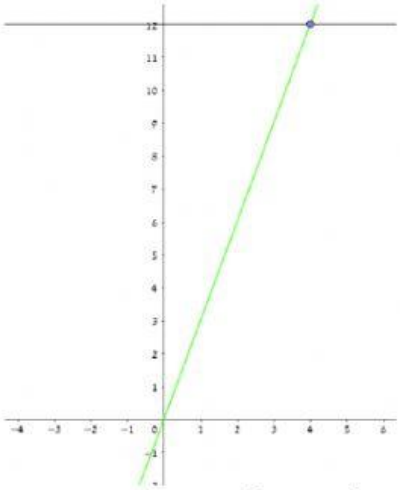

3x=__ /__

x=___

<u>אז שיעורי נקודת החיתוך של y=12 עם h(x)=3x היא :</u> (,) .

4. **מצאו את שיעורי נקודת החיתוך של הישר האופקי y=12 עם הגרף של הפונקציה :** t(x)=2x

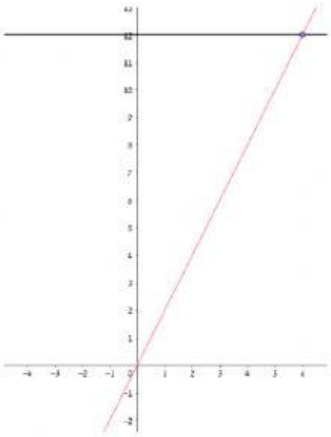

LIVEWORKSHEETS

2x=__ /__

x=___

<u>אז שיעורי נקודת החיתוך של y=12 עם t(x)=2x היא :</u> (,) .

מצאו את שיעורי נקודת החיתוך של הישר האופקי y=12 עם הגרף של הפונקציה :

5. r(x)=0.5x

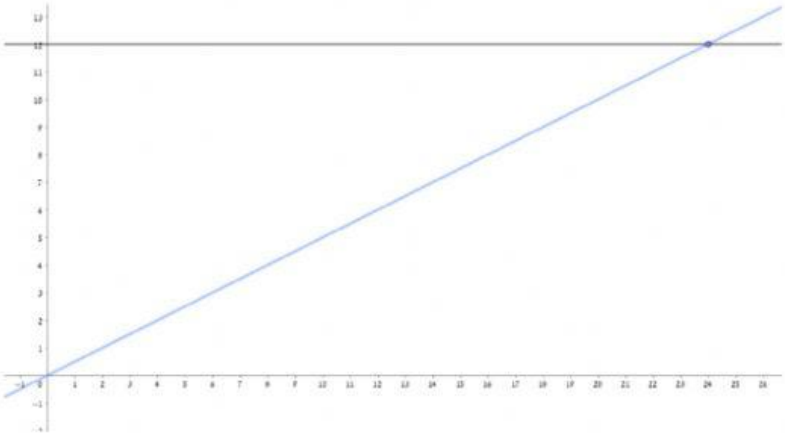

0.5x=__ /__

x=___

<u>אז שיעורי נקודת החיתוך של y=12 עם r(x)=0.5x היא :</u> (,) .

LIVEWORKSHEETS