KINGDOM OF BAHRAIN
Ministry of Education

مملكة البحرين
وزارة التربية والتعليم

Omaima Bent Al-Noaman Secondary Girls School

مدرسة أميمة بنت النعمان الثانوية للبنات

رؤية المدرسة: نعمل للريادة والابداع والتميز

العلاقات و الدوال

السؤال الأول: صلِ كل نوع من العلاقات في العمود الأول بشكلها المناسب في العمود الثاني:

العلاقات
معادلة
مخطط سهمي
رسم بياني
أزواج مرتبة
الجدول

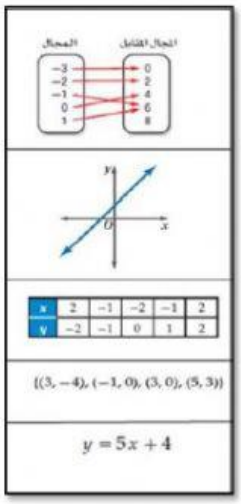

السؤال الثاني : اختاري رمز الإجابة الصحيحة من بين الخيارات التالية:

1- ما شكل العلاقة التي أمامك؟

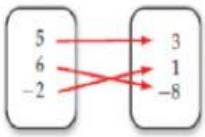

a. جدول

b . مخطط سهمي

c. أزواج مرتبة

d . رسم بياني

2- ما هو مجال العلاقة التي أمامك؟

x	y
−2	−4
1	−4
4	−2
8	6

a. {-4,-2,6}

b. مجموعة الأعداد الحقيقية

c. {-2,1,4,8}

d. {-4,-4,-2,6}

3- هل العلاقة دالة أم لا ؟

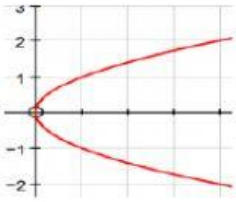

a. نعم

b. لا

LIVEWORKSHEETS