Perpuluhan Positif & Perpuluhan Negatif

1. Mari kita membandingkan nombor perpuluhan di bawah. Yang manakah antara berikut paling kecil?

-2.1	8.9	-1.2	10.3	0.9

2. Mari kita membandingkan nombor perpuluhan di bawah. Yang manakah antara berikut paling **BESAR?**

8.2	1.07	-10.8	23.7	-9.3

3. Mari kita membandingkan nombor perpuluhan di bawah. Yang manakah antara berikut paling **BESAR?**

-2.5	-0.5	-0.1	-1.2	-3.7

Kali ini, kita perlu susun nombor perpuluhan yang berikut dari yang paling negatif hingga yang paling positif. Contoh :

-1.5	-0.2	2.1	1.7	-0.7

Jawapan :

-1.5	-0.7	-0.2	1.7	2.1

Paling negatif

Paling positif

LIVEWORKSHEETS

Sekarang, kamu cuba. Klik dan bawa perpuluhan itu kepada tempat yang betul.

4. Susun nombor perpuluhan yang berikut dari kecil hingga ke besar. (Susunan menaik)

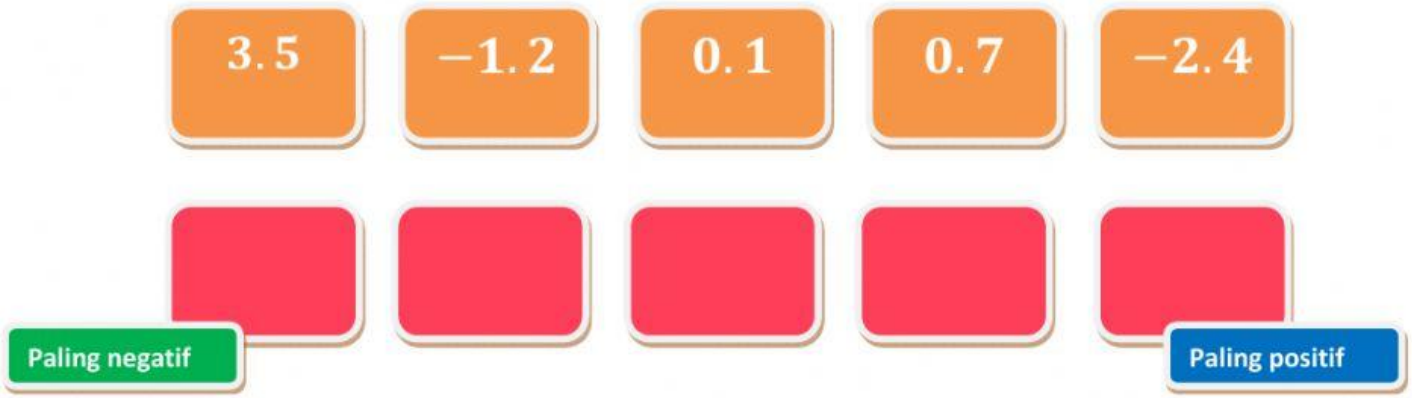

5. Susun nombor perpuluhan yang berikut dari kecil hingga ke besar. (Susunan menaik)

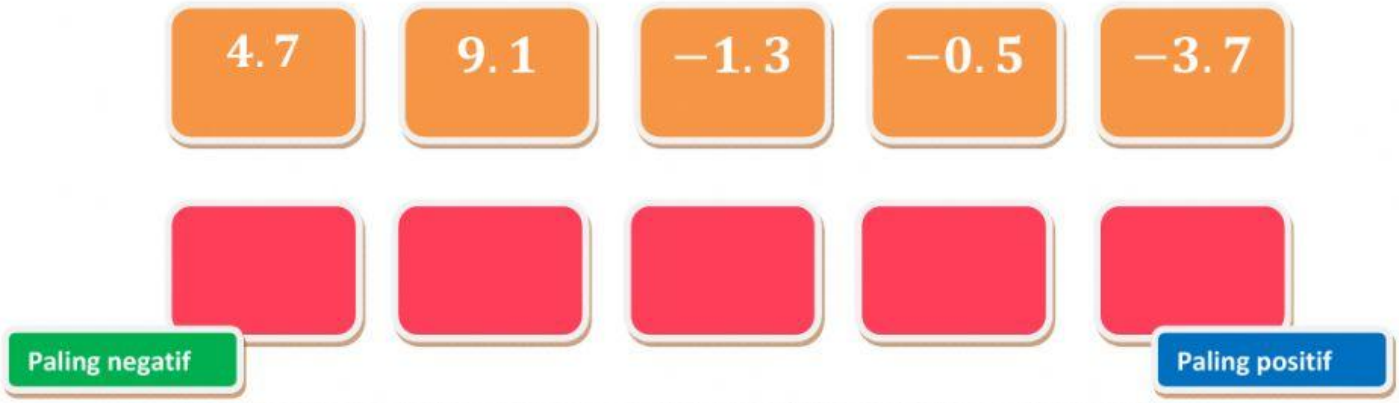

6. Susun nombor perpuluhan yang berikut dari kecil hingga ke besar. (Susunan menaik)



LIVEWORKSHEETS