Isilah Kolom Berikut Dengan Cara Memindahkan (Drag) Kata Yang Sesuai!

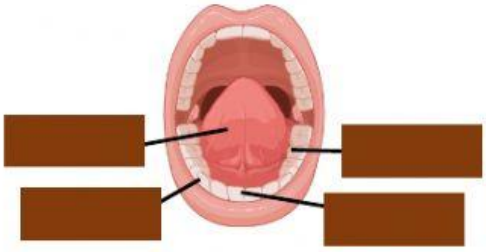

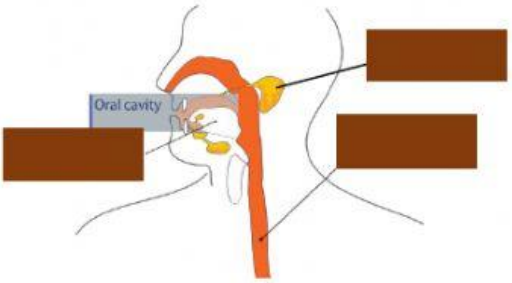

Kerongkongan | Lidah | Mulut | Gigi Seri | Kel. Parotis | Gigi Taring | Gigi Graham

---

Rektum

Kantung

Usus halus

Anus

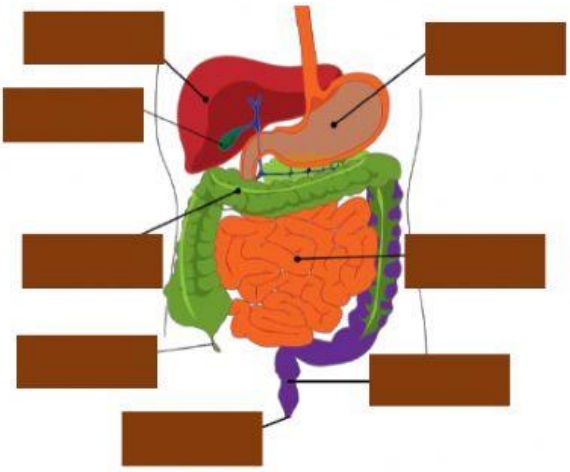

Usus besar

Hati

Lambung

Apendiks

Jodohkan Pernyataan Berikut Dengan Jawaban Yang Dianggap Tepat Dengan Cara Menarik Garis!

Enzim yang mengubah amilum jadi glukosa atau maltosa	Usus besar
Gigi yang berfungsi untuk mengunyah	Pankreas
Organ penghasil HCl, renin dan pepsin	Hati
Penghasil getah empedu	Gigi Graham
Tempat pembusukan makan yang melibatkan *E. coli*	Ptyalin
Kelenjar penghasil amilase, lipase dan tripsin	Lambung

LIVEWORKSHEETS