المملكة العربية السعودية
وزارة التعليم
الإدارة العامة للتعليم بجدة
شعبة الرياضيات
المدرسة ٤٥ ب

وزارة التعليم
Ministry of Education

اختبار (الفصل ٩) لمادة الرياضيات
الفصل الدراسي الثالث للعام ١٤٤٤هـ

اسم الطالبة : ..... الصف : ٦ /

٢٠

استعيني بالله ، ثم اجيبي عن الأسئلة التالية :

س١ / في الفقرات من ١ - ٨ اختاري الإجابة الصحيحة بوضع خط تحتها ..

-١-	يقدر قياس الزاوية التالية بـ :			
	٤٥° تقريبًا	٢٠° تقريبًا	١٥٠° تقريبًا	٩٠° تقريبًا
-٢-	الزاويتان التي قياسهما (١٢٠° ، ٦٠°) هما زاويتان			
	متكاملتان	متتامتان	متطابقتان	غير ذلك
-٣-	قياس الزاوية س هو			
	١٣٠°	١٤٥°	١٥٥°	٨٠°
-٤-	المثلث المجاور هو مثلث ..... 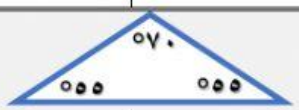			
	قائم الزاوية	منفرج الزاوية	حاد الزوايا	غير ذلك
-٥-	الشكل الرباعي التالي هو			
	مربع	مستطيل	معين	شبه منحرف
-٦-	مكملة الزاوية الحادة			
	زاوية حادة	زاوية منفرجة	زاوية مستقيمة	زاوية قائمة
-٧-	يصنف المثلث المجاور وفق اضلاعه الى : 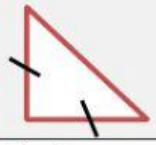			
	مثلث متطابق الأضلاع	مثلث متطابق الضلعين	مثلث مختلف الأضلاع	غير ذلك
-٨-	الشكل الرباعي المجاورهو..... 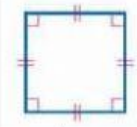			
	معين	مستطيل	متوازي أضلاع	مربع

LIVEWORKSHEETS

س٢ / اوجدي قياس الزاوية س في كل مما يأتي ..

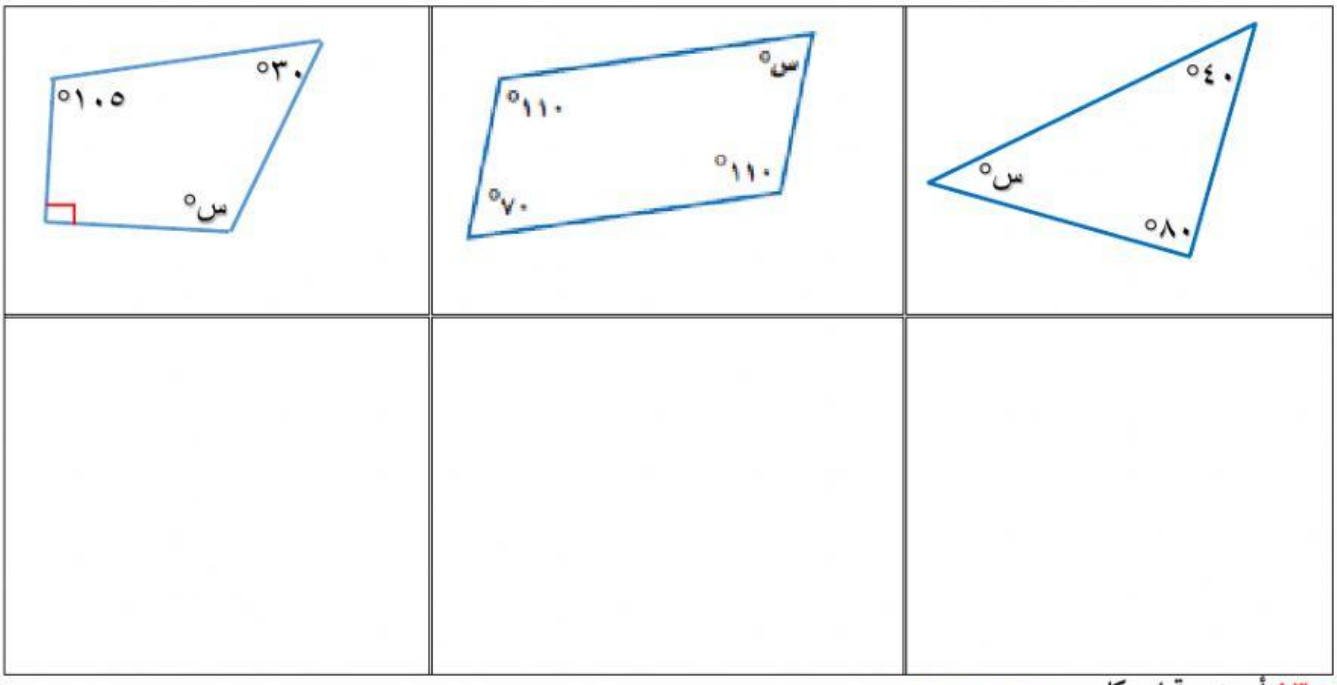

س٣ / أوجدي قياس كل من : ∢ب و ∢جـ

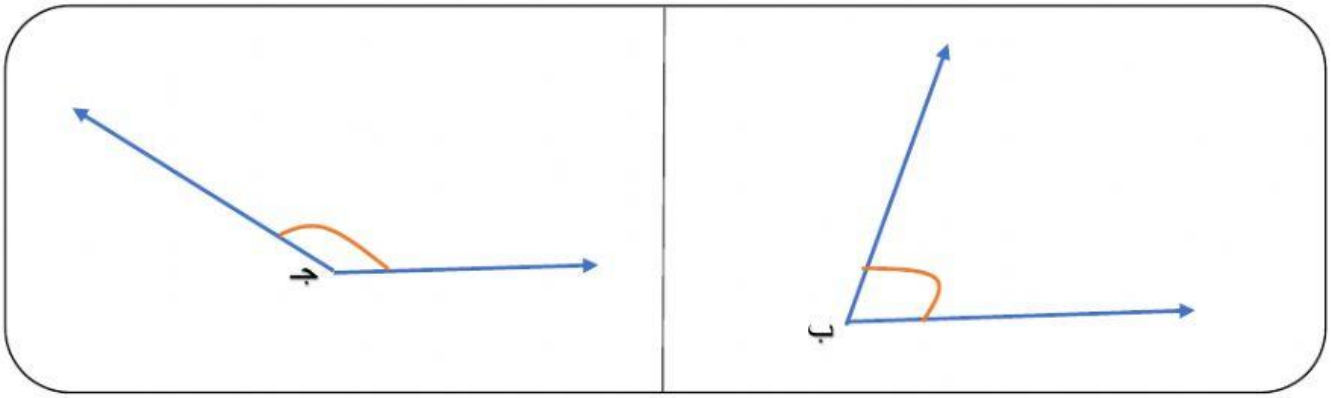

س٤/ ارسمي زاوية قياسها ٣٥°

س٥/ صنفي زوج الزاويتين التاليتين الى

(متكاملتان ، متتامتان ، غير ذلك) ..

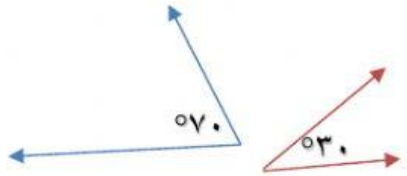

انتهت الأسئلة

دعواتي لكن باتوفيق

LIVEWORKSHEETS