Тиждень 22

_____
(ім'я)

Доповни схему до задачі. Розв'яжи задачу.

У команді було 10 павучків. Двоє павучків порушили правила й вибули з гри. Скільки павучків залишилось у грі?

Було — ☐ п.

Вибули — ☐ п.

Залишилось — ☐ п.

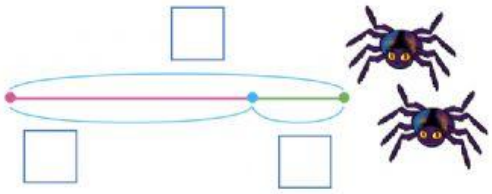

Розв'язання

(п.)

Відповідь: ☐ павучків залишилось у грі.

Знайди значення виразів, скориставшись підказками.

9 − 7 + 6 = .

6 + 4 − 7 = .

8 − 7 + 4 = .

3 + 6 − 8 = .

10 − 5 + 2 = .

3 + 4 − 5 = .

Яких чисел не вистачає в ланцюжках?

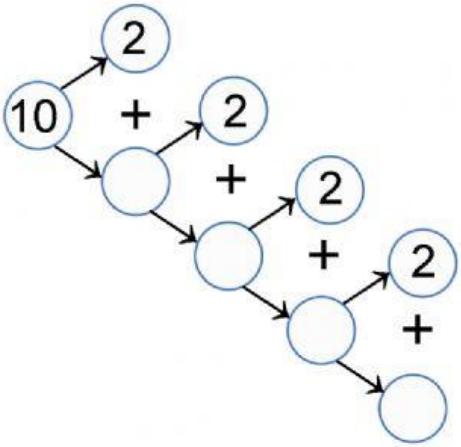

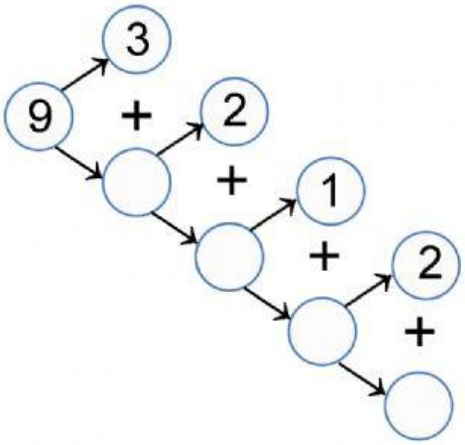

nstrovok
LIVEWORKSHEETS